Брянская региональная общественная туристско-краеведческая,
патриотическая детско-юношеская организация «Отечество»
Муниципальное бюджетное учреждение дополнительного образования
“Центр детского и юношеского туризма и экскурсий” г. Брянска

ФОНД ПРЕЗИДЕНТСКИХ ГРАНТОВ

СБОРНИК
“ГОРОД ЮНЫЙ, ГОРОД ДРЕВНИЙ”

ПО МАТЕРИАЛАМ ГОРОДСКОЙ КРАЕВЕДЧЕСКОЙ ИГРЫ 2012-2021 ГОДОВ



Г.БРЯНСК

УДК 374
ББК 94

Сборник «Город юный, город древний» (по материалам городской краеведческой игры 2012 – 2021 годов).

Сборник городской краеведческой игры «Город юный, город древний» (по материалам городской краеведческой игры 2012 – 2021 годов) /Брянская региональная общественная туристско-краеведческая, патриотическая детско-юношеская организация «Отечество» г. Брянск/ Муниципальное бюджетное учреждение дополнительного образования «Центр детского и юношеского туризма и экскурсий» г. Брянска – 263 с.

Составители: Поплевко А.В., Белов Б.В., Смирнова Э.В., Никулочкина Н.В., Стасишина Н.В., Меркушина Е.Г., Шестопалова Н.В., Симоненкова И.А., компьютерная верстка Стасишина Н.В.

В сборнике представлены материалы ежегодной городской краеведческой игры «Город юный, город древний» за 2012 – 2021 гг., в которых отражен опыт организации проведения краеведческих мероприятий, проводимых в г.Брянске для школьников и студентов Брянской региональной общественной туристско-краеведческой, патриотической детско-юношеской организацией «Отечество» и Центром детского и юношеского туризма и экскурсий г. Брянска.

Ежегодно игра проводится в одном из районов г. Брянска. В 2012 г. и в 2019 г. игра проходила в Бежицком районе, в 2013 г. и в 2020 г. в Володарском районе, в 2014 г. и в 2021 г. в Фокинском районе, с 2015 г. по 2018 г. в Советском районе г. Брянска. Материалы игры включают в себя картосхемы района игры, тесты-опросники и задания на маршруте с ответами, бонусные вопросы.

Содержащиеся в сборнике материалы могут быть полезны педагогам дополнительного образования, работающим по программам туристско-краеведческой направленности, учителям, руководителям школьных музеев, а также в работе по организации учебно-исследовательской деятельности учащихся и студентов по краеведению.

Сборник «Город юный, город древний» (по материалам городской краеведческой игры 2012 – 2021 годов) издан с использованием средств гранта Президента Российской Федерации на развитие гражданского общества (договор №20-1-028632), предоставленного Фондом президентских грантов.

Содержание

Городская краеведческая игра «Город юный, город древний – 2012 год». Бежицкий район проведения игры. Тема: «Путешествие по Бежицкому району» ……..5
Условия прохождения игры «Город юный, город древний!»……...……6
Бланк тест-опросника команды …….……..7
Бланк тест-опросника (ответы) ……..……8
Тест-опросник «В каком районе находится каждый из этих объектов»…….…9
Ответы для капитанов…….11
Внимание. Задание……..12
Внимание. Задание (ответы)……...18
Вопросы краеведческой викторины……..24

Городская краеведческая игра «Город юный, город древний – 2013 год». Володарский район проведения игры. Тема: «История Володарского района» ……..…… 25
Вопросы интернет тура…….. 27
Ответы интернет тура…… 29
Основной этап игры…….31
Картосхема района игры.……32
Опросник для команд…… 33
Ответы опросника……... 39

Городская краеведческая игра «Город юный, город древний – 2014 год». Фокинский район проведения игры. Тема: «История Фокинского района»…45
Бланк тест-опросника для команд…… 48
Бланк ответов на тест-опросник……49
В каком районе находится каждый из этих объектов…….50
Картосхема района игры……52
Опросник команды…….53
Ответы опросника ……..56
Бонусы…….59
Экспресс опросник командам……61
Экспресс опросник судьям……62

Городская краеведческая игра «Город юный, город древний – 2015 год». Советский район проведения игры. Тема: «70 лет Победы в Великой Отечественной войне» ……63
Карта-схема маршрута…….. 66
Экспресс-опросник команды……67
Экспресс опросник ответы……68
Опросник для команд…….69
Задание «Военная хроника»……..73
Ответы к опроснику для судей…… 75
Ответы к заданию «Военная хроника»……... 79
Вопросы викторины «Шли на Битву партизаны»…….. 81
Ответы на вопросы викторины «Шли на Битву партизаны»……... 82

Городская краеведческая игра «Город юный, город древний – 2016 год». Советский район проведения игры. Тема: «Брянск на рубеже веков» …….... 84
Карта-схема маршрута…….. 86
План города…… 87

Экспресс-опросник команды…… 88
Экспресс опросник ответы…… 89
Задание к игре…… 91
Ответы на задание к игре…… 103
Лото для команд…… 115
Лото полна версия (ответы)……118

Городская краеведческая игра «Город юный, город древний – 2017 год». Советский район проведения игры. Тема: «Брянск православный» ……..121
Карта-схема маршрута…… 121
Опросник на старте «Брянск православный» ……122
Задания по маршруту «Брянск православный»…… 124
Ответы на задания по маршруту «Брянск православный»……... 130

Городская краеведческая игра «Город юный, город древний – 2018 год». Советский район проведения игры. Тема: «Сегодня школьник, завтра студент» …… 136
Экспресс-опросник «История Брянска»…… 137
Экспресс опросник «История Брянска» ответы…… 138
Карта маршрута…… 139
Задания по маршруту…… 140
Ответы на задания по маршруту……..148

Городская краеведческая игра «Город юный, город древний – 2019 год». Бежицкий район проведения игры. Тема: «Бежица на рубеже веков (конец XIX – начало XX вв.)» ……... 157
Современная карта маршрута…….. 160
Историческая карта маршрута…… 161
Экспресс-опросник «Государи на Брянской земле»…… …..162
Задания по маршруту «Бежица на рубеже веков»…… ….164
Ответы на задания по маршруту «Бежица на рубеже веков»..……177
Бонусные задания…….. 191
Ответы на бонусное задание…… 194

Городская краеведческая игра «Город юный, город древний – 2020 год». Володарский район проведения игры. Тема: «От Привокзальной слободы до современного района» …….. 198
Карта маршрута…… 198
Экспресс-опросник «Мы память бережно храним»…….. 199
Бланк экспресс опросника «Мы память бережно храним»……...201
Бланк с ответами экспресс опросника «Мы память бережно храним» ……...202
Задания по маршруту «От привокзальной слободы до современного района»…. 203
Ответы на задание «От привокзальной слободы до современного района»…….. 211
Задания по маршруту «150 лет железнодорожному сообщению»……..... 220
Ответы на задание «150 лет железнодорожному сообщению»……... 225

Городская краеведческая игра «Город юный, город древний – 2021 год». Фокинский район проведения игры. Тема: «Проспект Московский – история в каждом здании» ……. 230
Карта маршрута…… 230
Задания по маршруту «Проспект Московский – история в каждом здании» …….231
Ответы на задание «Проспект Московский – история в каждом здании» …...…. 246

Заключение …… 261

Городская краеведческая игра «Город юный, город древний – 2012 год»

Наш город Брянск, древний и вечно молодой, окружен зелеными лесами, березовыми рощами, он полон живописных местечек, улицы его охотно ведут всех желающий тропинками истории в дальнее и недавнее прошлое.

История Брянска очень богата и интересна, но, к сожалению, многие молодые брянцы мало что знают о своем городе. Горожане каждое утро, спеша на работу, проходят мимо старинных зданий, идут по улицам, названным именами героев, но, если вы остановите кого-нибудь из них и спросите что-нибудь об этом замечательном сооружении месте или человеке, не все смогут ответить на этот вопрос.

Мы охотно ездим на экскурсии по разным городам, смотрим достопримечательности. А почему бы не прогуляться по родному городу, по его памятным местам?

Сегодня вам ждёт прогулка по Бежицкому району города Брянска. Что мы знаем о Бежице?

Населённый пункт на месте современной Бежицы возник в середине 1860-х годов при строительстве Орловско-Витебской железной дороги; первоначально назывался *Губонино* (по фамилии промышленника и землевладельца Петра Ивановича Губонина). Движение по железной дороге было открыто в 1868 году: ж/д станция первоначально называлась *Бежицкая* или *Бежица* — по соседнему селу Бе́жичи, в конце XIX века переименована в ст. *Болва* по одноимённой реке.

В 1925 году Бежица получила статус города;

С 1936 по 1943 год город назывался **Орджоникидзеград** в честь наркома тяжелой промышленности Серго Орджоникидзе. Это название до сих пор носит железнодорожная станция.

2 июня1956 года произошло объединение г. Брянска и г. Бежицы в один город. Бежица стала одним из районов города Брянска.

Город строится и развивается, сохраняя при этом особый колорит промышленного городка начала 20 века.

Сегодня вам предстоит познакомиться с Бежицей с необычной для себя стороны. Вы увидите здания конца 19, начала 20 века, раскроете их тайны, отгадаете загадки.

Ну, что ж, друзья, пора вперед
Пройдем знакомою дорогой,
Загадка Бежицы нас ждет.
Раскроем тайны понемногу.
Пусть каждый дом и каждый парк
Мы с детства видели и знаем…
Они раскрыться не спешат
А в прятки будто бы играют.

Условия прохождения игры «Город юный, город древний!»

По сравнению с прошлым годом существенно изменилось положение и условия проведения игры. Игра проходила по новой методике, задания для команд и тесты - опросники разработаны педагогом Бадукиной Н.В. Введены две новые номинации «Афиша музея» и презентация «Улица любимая моя», презентация из 20 слайдов об улице, где расположена школа. Убран фотоконкурс.

Стартовой площадкой игры стала гимназия № 5.

Команда на старте получает план – схему района игры и информационную справку об объектах, нанесённых на план-схему района игры.

Команде необходимо, посетить и ознакомиться с заявленными объектами, в полном составе сфотографироваться на их фоне, за исключением фотографирующего. Объект должен быть узнаваем. За

каждый объект начисляется по 3 балла. Это могут быть исторические, архитектурные памятники, мемориальные доски, улицы, а также экспозиции музея.

Контрольное время игры – 2 часа 15 минут. До окончания контрольного времени, команда возвращается на финиш. Команда, не пришедшая на финиш по истечении контрольного времени (КВ), получает штрафные баллы (до 5 мин – 3 балла, от 6 до 10 мин.- 6 баллов и т.д.), которые вычитаются из результата команды.

На финише команда предъявляет судьям фотоаппарат с отснятым материалом (команда на фоне объектов), сдаёт план – схему района игры и информационную справку. Получает тест – опросник (с вариантами ответов и без вариантов) об объектах игры. На решение даётся до 15 минут, за каждый правильный ответ начисляется 1 балл. В случае равенства баллов проводится конкурс капитанов команд (за призовые места).План-схема района игры ограничена улицами: Ульянова, III Интернационала, Камозина.

ТЕСТ-ОПРОСНИК КОМАНДЫ _____

НА ЗНАНИЕ ДОСТОПРИМЕЧАТЕЛЬНОСТЕЙ ГОРОДА БРЯНСКА

В каком районе города Брянска находятся эти объекты?

Заполните таблицу, расставьте буквы соответственно изображениям.

С – объект находится в Советском районе города.

Б – объект находится в Бежицком районе города.

В – объект находится в Володарском районе города.

Ф – объект находится в Фокинском районе города.

1	2	3	4	5	6	7	8	9	10	11	12	13
14	**15**	**16**	**17**	**18**	**19**	**20**	**21**	**22**	**23**	**24**	**25**	

ТЕСТ-ОПРОСНИК
НА ЗНАНИЕ ДОСТОПРИМЕЧАТЕЛЬНОСТЕЙ ГОРОДА БРЯНСКА
(ОТВЕТЫ)

В каком районе города Брянска находятся эти объекты?

Заполните таблицу, расставьте буквы соответственно изображениям.

С – объект находится в Советском районе города.

Б – объект находится в Бежицком районе города.

В – объект находится в Володарском районе города.

Ф – объект находится в Фокинском районе города.

1	**2**	**3**	**4**	**5**	**6**	**7**	**8**	**9**
С	Б	С	С	С	С	Б	Ф	С

11	**12**	**13**	**14**	**15**	**16**	**17**	**18**	**19**
С	Б	С	С	С	Б	Б	С	В

21	**22**	**23**	**24**	**25**
Б	С	Б	Б	Б

ФОТОГРАФИИ ТЕСТ ОПРОСНИКА

«В КАКОМ РАЙОНЕ НАХОДИТСЯ КАЖДЫЙ ИЗ ЭТИХ ОБЪЕКТОВ»?





ФОТОГРАФИИ ТЕСТ ОПРОСНИКА

В КАКОМ РАЙОНЕ НАХОДИТСЯ КАЖДЫЙ ИЗ ЭТИХ ОБЪЕКТОВ?





Ответы для КАПИТАНОВ.

1. Советский. Памятник летчикам.
2. Бежицкий. БГТУ.
3. Советский. Дом Аврамова.
4. Советский. Памятник Ф.Тютчеву.
5. Советский. Петропавловский монастырь.
6. Советский. Чернобыль.
7. Бежицкий. Музей братьев Ткачевых.
8. Фокинский. Рябок, Сафронова, Кустов.
9. Советский. Токарный станок.
10. Советский. Ленин на площади им. Ленина
11. Советский. Памятник учителю.
12. Бежицкий. (Шар).
13. Советский. (Динамо стадион).
14. Советский. (Дом инженера Боровича).
15. Советский. (Церковь).
16. Бежицкий. Баня.
17. Бежица. Памятник Комсомольцам
18. Советский. Емеля в парке Толстого.
19. Володарский. Паровоз.
20. Советский. Курган Бессмертия
21. Бежицкий. (Пушка).
22. Советский. (Лев).
23. Бежица. (Пролетарии).
24. Бежицкий. Дворец культуры БМЗ.
25. Бежицкий. (Церковь).

ВНИМАНИЕ! ЗАДАНИЕ.

Начните работу с изучения этого листка. На нем изображены объекты, расположенные на улицах: Брянской пролетарской дивизии, 50 лет октября, Комсомольской, Майской стачки. Будьте внимательны на своем пути, тогда вы выполните и эти задания ☺

	Сфотографируйтесь у здания, на котором находится эта табличка. **Что это за здание?** _____ _____ _____
	Сфотографируйтесь на месте, где был расположен этот памятник. **Как этот памятник назывался?** А) Памятник «Весна Победы» Б) Памятник «Брянской пролетарской дивизии» В) Памятник «Комсомольцам»
	Это здание находится недалеко от городского парка и парка имени Пушкина. Построено в 1932 году, но разрушено во время Великой Отечественной войны. В 1947 году было восстановлено, при этом фасады были украшены рядами выступающих углом кирпичей. **Сфотографируйтесь на фоне женщины с голубями и ответьте на вопрос -** **Что это за здание?** _____
	Сфотографируйтесь у памятника, на котором есть такая надпись.

	Кто этот человек? _____ _____ _____ _____ Сфотографируйтесь у его памятника.
	Кто этот человек? _____ _____ _____ Сфотографируйтесь у его памятника.
	Сфотографируйтесь у здания, на котором находится эта табличка. Что это за здание? _____

Знакомый вид? Найдите это место и сфотографируйтесь ☺

УЛИЦА УЛЬЯНОВА

Пройдитесь по улице, внимательно осмотрите дома, узнаете ли вы их на старых снимках? Подсказкой в этом послужит краткое описание объектов. Вам остается только соотнести фото и описание.

- Расставьте на фотографиях подходящие номера.
- Обязательно сфотографируйтесь на фоне здания.
- Ответьте на вопросы.

	Здание построено в 1910 годах. Это одно из немногих производственных зданий в заводскомпоселке Бежица, выполненных в стмле модерн. Сейчас у него то же назначение, что и в начале XX века. **1** **Вопрос:** **Что это за здание?** _____
	Техническое училище построено в 1900 годах при Брянском рельсопрокатном, железоделательном, сталелитейном и механическом заводе. **Вопрос: Какой номер дома?** **2** _____
	Аэроклуб ОСОАВИАХИМа **Вопрос: Чем знаменателен для него 1934 год?** _____ _____ _____ **3**
	Ремесленное училище, построенное в 1895 году под попечительством княгини М.К. Тенешевой. **Вопрос:** **1. Даты жизни княгини М.К. Тенешевой -**_____ **2. Даты жизни князя В.Н. Тенешева -** _____ **4**

УЛИЦА УЛЬЯНОВА

Пройдитесь по улице, внимательно осмотрите дома, узнаете ли вы их на старых снимках? Подсказкой в этом послужит краткое описание объектов. Вам остается только соотнести фото и описание.

- Расставьте на фотографиях подходящие номера.
- Обязательно сфотографируйтесь на фоне здания.
- Ответьте на вопросы.

	Дом жилой начала XX века, возведен для инженерно-технического персонала Брянского рельсопрокатного, железоделательного, сталелитейного и механического завода. Своеобразный дом типа коттедж в стиле модерн. Сейчас он очень изменился, поэтому вот вам подсказка: у этого дома и у здания почты (на ул. III-го Интернационала) есть одна общая деталь? **Вопрос:1. Какая это деталь?** _____ **2. Дата строительства дома?** _____ **1**
	Это здание первоначально принадлежало купцу Мурзину и было гостиницей. **Вопрос: Дата строительства дома?** _____ **2**
	Пожарное ДЕПО. Возведено в 1910 году вместо прежнего деревянного. **Вопрос: Какой прославленный партизан работал здесь физруком пожарной команды с 1938 по 1941 год?** _____ **3**
	Магазин начала XX века. Возведен в 1900 году. После Великой Отечественной войны к правому торцу здания сделана пристройка, почти вдвое увеличившая здание. **Вопрос: Что находилось в этом здании с марта 1917 по март 1918 года?**_____ **4**

УЛИЦА КОМСОМОЛЬСКАЯ

Пройдитесь по улице, внимательно осмотрите дома, узнаете ли вы их на старых снимках? Подсказкой в этом послужит краткое описание объектов. Вам остается только соотнести фото и описание.

- Расставьте на фотографиях подходящие номера.
- Обязательно сфотографируйтесь на фоне здания.
- Ответьте на вопросы.

	Дом жилой начала XX века. Уникальное для архитектуры Брянщины этого периода жилое здание в стиле необарокко, подражающее дворцовым постройкам Петербурга. Особенностью здания являются скругленные углы. **Вопрос: Дата строительства дома?** _____ **1**
	Дом жилой начала XX века, возведен для инженерно-технических работников Брянского рельсопрокатного, железоделательного, сталелитейного и механического завода. Небольшой дом типа коттедж в стиле модерн. Выразительность общего облика усиливает различная отделка стен и разнообразие форм оконных проёмов. **Вопрос: Дата строительства дома?** **2** _____
	1я треть XX века. Образец жилой архитектуры Брянщины типа коттеджа в стиле модерн. В плане здание близко к квадрату, в центре главного фасада имеет глубокую нишу. Кровли двускатные со срезанным верхом. **Вопрос: Дата строительства дома?** **3** _____
	Сиротский приют. Построен в начале XX века для детей от 3х до 14 лет на средства благотворительного общества при Брянском рельсопрокатном, железоделательном, сталелитейном и механическом заводе. Здание имеет медальон с датой строительства. **Вопрос: Дата строительства дома?** **4** _____

УЛИЦА III-го Интернационала

Пройдитесь по улице, внимательно осмотрите дома, узнаете ли вы их на старых снимках? Подсказкой в этом послужит краткое описание объектов. Вам остается только соотнести фото и описание.

- Расставьте на фотографиях подходящие номера.
- Обязательно сфотографируйтесь на фоне здания.
- Ответьте на вопросы.

	Дом жилой с аптекой. Построен на рубеже 19-20 веков. Образец купеческого жилого дома раннего этапа застройки заводского поселка Бежица. **Вопрос: 1. Что в этом здании сейчас?** _____ 1 **2. Кто архитектор здания?**
	Дом с магазином. Возведен в начале XX века по заказу местного купца Денисова. В облике заметно подражание позднеренессансной архитектуры. **Вопрос: Какой номер дома?** 2
	Дом жилой начала XX века. Оригинальный жилой дом заводского поселка 1900 годов, выполнен в редких для местной архитектуры формах подражания готике. **Вопрос: Какой номер дома?** _____ 3
 Вам необходимо найти памятник, установленый этому человеку и сфотографироваться рядом с ним. Осмотритесь вокруг и ответьте на вопросы.	**Вопрос:** **1. Кто этот человек?** _____ **2. С какого по какой год он жил в доме, расположенном на улице, которая сейчас носит его имя?** _____

ОТВЕТЫ. ВНИМАНИЕ! ЗАДАНИЕ

Начните работу с изучения этого листка. На нем изображены объекты, расположенные на улицах: Брянской пролетарской дивизии, 50 лет октября, Комсомольской, Майской стачки. Будьте внимательны на своем пути, тогда вы выполните и эти задания ☺

1	**Сфотографируйтесь у здания, на котором находится эта табличка.** **Что это за здание?** **<u>Школа искусств имени Т.П. Николаевой</u>**
2	**Сфотографируйтесь на месте, где был расположен этот памятник.** **Как этот памятник назывался?** **А) <u>Памятник «Весна Победы»</u>** Б) Памятник «Брянской пролетарской дивизии» В) Памятник «Комсомольцам»
3	Это здание находится недалеко от городского парка и парка имени Пушкина. Построено в 1932 году, но разрушено во время Великой Отечественной войны. В 1947 году было восстановлено, при этом фасады были украшены рядами выступающих углом кирпичей. **Сфотографируйтесь на фоне женщины с голубями и ответьте на вопрос -** **Что это за здание?** <u>Кинотеатр «Победа»</u>
4	**Сфотографируйтесь у памятника, на котором есть такая надпись.**

5	**Кто этот человек?** Павел МихайловичКамозин – дважды герой Советского Союза, летчик. **Сфотографируйтесь у его памятника.**
6	**Кто этот человек?** Александр Александрович Морозов – конструктор танка Т-34 герой соц. труда. **Сфотографируйтесь у его памятника.**
7	**Сфотографируйтесь у здания, на котором находится эта табличка.** **Что это за здание?** ГУП «Брянскоблтехинвентаризация»

Знакомый вид? Найдите это место и сфотографируйтесь ☺

 2 9.	Здание построено в 1910 годах. Это одно из немногих производственных зданий в заводскомпоселке Бежица, выполненных в стмле модерн. Сейчас у него то же назначение, что и в начале XX века. 1 **Вопрос:** **Что это за здание?** Типография
 1 10	Техническое училище построено в 1900 годах при Брянском рельсопрокатном, железоделательном, сталелитейном и механическом заводе. **Вопрос: Какой номер дома?** 18 2
 4 11	Аэроклуб ОСОАВИАХИМа **Вопрос: Чем знаменателен для него 1934 год?** Начальную летную подготовку получил 2 герой Советского Союза прославленный летчик П.М. Камозин. 3
 3 12	Ремесленное училище, построенное в 1895 году под попечительством княгини М.К. Тенешевой. **Вопрос:** **1. Даты жизни княгини М.К. Тенешевой -**1867 - 1927 **2. Даты жизни князя В.Н. Тенешева -** 1843 - 1903 4

УЛИЦА УЛЬЯНОВА

Пройдитесь по улице, внимательно осмотрите дома, узнаете ли вы их на старых снимках? Подсказкой в этом послужит краткое описание объектов. Вам остается только соотнести фото и описание.

- Расставьте на фотографиях подходящие номера.
- Обязательно сфотографируйтесь на фоне здания.
- Ответьте на вопросы.

	Дом жилой начала XX века, возведен для инженерно-технического персонала Брянского рельсопрокатного, железоделательного, сталелитейного и механического завода. Своеобразный дом типа коттедж в стиле модерн. Сейчас он очень изменился, поэтому вот вам подсказка: у этого дома и у здания почты (на ул. III-го Интернационала) есть одна общая деталь? **Вопрос:** **1. Какая это деталь?** Часы **2. Дата строительства дома?** 1911-1913 1
	Это здание первоначально принадлежало купцу Мурзину и было гостиницей. **Вопрос: Дата строительства дома?** 1890 год 2
	Пожарное ДЕПО. Возведено в 1910 году вместо прежнего деревянного. **Вопрос: Какой прославленный партизан работал здесь физруком пожарной команды с 1938 по 1941 год?** Журавлев Леонид Пантелеевич 3
	Магазин начала XX века. Возведен в 1900 году. После Великой Отечественной войны к правому торцу здания сделана пристройка, почти вдвое увеличившая здание. **Вопрос: Что находилось в этом здании с марта 1917 по март 1918 года?** Первый Бежицкий Совет рабочих и солдатских депутатов. 4

УЛИЦА III-го Интернационала

Пройдитесь по улице, внимательно осмотрите дома, узнаете ли вы их на старых снимках? Подсказкой в этом послужит краткое описание объектов. Вам остается только соотнести фото и описание.

- Расставьте на фотографиях подходящие номера.
- Обязательно сфотографируйтесь на фоне здания.
- Ответьте на вопросы.

	Дом жилой с аптекой. Построен на рубеже 19-20 веков. Образец купеческого жилого дома раннего этапа застройки заводского поселка Бежица. **Вопрос: 1. Что в этом здании сейчас?** Центральная городская библиотека имени Петра Лукича Проскурина. **2. Кто архитектор здания?** Н.А. Лебедев 1
	Дом с магазином. Возведен в начале XX века по заказу местного купца Денисова. В облике заметно подражание позднеренессансной архитектуры. **Вопрос: Какой номер дома?**7 2
	Дом жилой начала XX века. Оригинальный жилой дом заводского поселка 1900 годов, выполнен в редких для местной архитектуры формах подражания готике. **Вопрос: Какой номер дома?** 9 3
 Вам необходимо найти памятник, установленый этому человеку и сфотографироваться рядом с ним. Осмотритесь вокруг и ответьте на вопросы. 20	**Вопрос:** **1. Кто этот человек?** Медведев Дмитрий Николаевич герой Советского Союза, чекист, партизан, писатель. **2. С какого по какой год он жил в доме, расположенном на улице, которая сейчас носит его имя?** 1898 - 1920

УЛИЦА КОМСОМОЛЬСКАЯ

Пройдитесь по улице, внимательно осмотрите дома, узнаете ли вы их на старых снимках? Подсказкой в этом послужит краткое описание объектов. Вам остается только соотнести фото и описание.

- Расставьте на фотографиях подходящие номера.
- Обязательно сфотографируйтесь на фоне здания.
- Ответьте на вопросы.

	Дом жилой начала XX века. Уникальное для архитектуры Брянщины этого периода жилое здание в стиле необарокко, подражающее дворцовым постройкам Петербурга. Особенностью здания являются скругленные углы. **Вопрос: Дата строительства дома?** 1910 год **1**
	Дом жилой начала XX века, возведен для инженерно-технических работников Брянского рельсопрокатного, железоделательного, сталелитейного и механического завода. Небольшой дом типа коттедж в стиле модерн. Выразительность общего облика усиливает различная отделка стен и разнообразие форм оконных проёмов. **Вопрос: Дата строительства дома?** 1910 год **2**
	1я треть XX века. Образец жилой архитектуры Брянщины типа коттеджа в стиле модерн. В плане здание близко к квадрату, в центре главного фасада имеет глубокую нишу. Кровли двускатные со срезанным верхом. **Вопрос: Дата строительства дома?** 1911-1913 **3**
	Сиротский приют. Построен в начале XX века для детей от 3х до 14 лет на средства благотворительного общества при Брянском рельсопрокатном, железоделательном, сталелитейном и механическом заводе. Здание имеет медальон с датой строительства. **Вопрос: Дата строительства дома?** 1904 год **4**

Вопросы краеведческой викторины.

(Вы сегодня уже видели или слышали ответы на эти вопросы)

1. Какое название носил поселок, возникший при строительстве Орловско-Витебской железной дороги на месте современной Бежицы

_____

2. В каких годах возник этот поселок?

А) ***1860-х***

Б) 1890-х

В) 1870-х

3. Как первоначально называлась станция на Орловско-Витебской железной дороге, относящаяся к этому поселку?

А) Бежичи

Б) Болва

В) ***Бежица***

4. В каком году Бежица получила статус города?

А) ***1925***Б) 1936 В) 1943

5. Перед вами план общественного здания в Бежице.

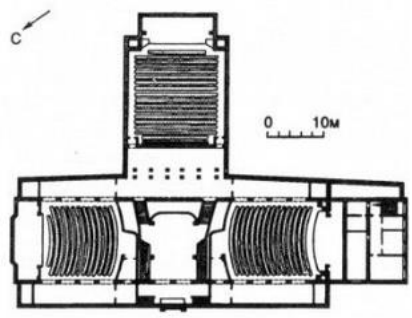

Что это за здание? _____

6. В каком году построено это здание?*1910*

7. Назовите фамилию меценатов, на деньги которых в 1895 году в Бежице было построено здание ремесленного училища ___*Тенешевы*_____.

8. Что сейчас находится в здании этого училища:

А) Педагогический колледж.

Б) ***Политехнический колледж.***

В) Медицинский колледж.

Городская краеведческая игра «Город юный, город древний – 2013 год»

А время неумолимо вдаль идет…
Страницу за страницею листая,
Юная смена в игре познает
Историю отчего края.
Колышутся флаги над головой,
Жизнь счастливая кровью дедов добыта.
Если память стучится в наши сердца,
Слава предков не будет забыта

Володарский район только частица седого тысячелетнего орденоносного города Брянска. Он один из его молодых районов и начал складываться после отмены крепостного права, в период бурного развития капитализма в России. В период, так называемой, железнодорожной лихорадки, во второй половине XIX века. Он был окраиной уездного города Брянска Орловской губернии.

История Володарского района началась более 150 лет тому назад, когда первый поселенец, отставной солдат Могилевцев построил свой домик на берегу озера Сатное в районе современной нефтебазы. Вскоре в четырех верстах от Брянска началось строительство железной дороги Рига – Орел, вдоль которой начали оседать поселенцы первого поселка – Привокзальная Слобода.

24 ноября 1868 года гудок первого поезда, проходящего по новой железной дороге, возвестил о рождении нового поселка Привокзальная Слобода, превратившегося в современный промышленный Володарский район.

В те далекие времена толпы любопытных собирались, чтобы своими глазами увидеть новый вид транспорта. Жители глухих деревень смотрели на паровоз, идущий по стальным путям, как на великое чудо.

В связи с развитием железнодорожного узла в 1887 года начал зарождаться и второй поселок, Полесский.

Брянский железнодорожный узел расширялся. В этом же году рельсы от Брянска пролегли к Москве. Не случайно тогда Киевский вокзал столицы именовался Брянским.

Поскольку первые поселенцы строили свои дома в районе железнодорожного вокзала, возникали улицы Транспортная (ныне

Володарского), Витебская (стала улицей Димитрова), Жиздринская (носит имя Пушкина).

В начале 20-х годов Полесская Слобода была переименована в Толстовский поселок, Мальцовская стала носить имя Урицкого, Новая Постройка – имя Воровского.

На месте железнодорожного поселка — Брянск-Орловский — вырос современный городской район — Володарский.

Володарский район города Брянска имеет богатую историю, но, к сожалению, многие школьники знают о нем только то, что в этом районе находится вокзал Брянск I.

Материалы данной разработки были предназначены для проведения городской краеведческой игры «Город юный, город древний!».

Участники игры в течение нескольких часов путешествуют по Володарскому району города Брянска, фотографируются на фоне краеведческих объектов, изучают памятные таблички, чтобы по возвращении заполнить тесты-опросники и проверить полученнуюво время путешествия по району информацию.

Шагает лёгкой поступью весна,
Касаясь ласковым лучом снегов апреля,
Чтоб сонная сменилась тишина
На детский гомон и на птичьи трели.
И город древний окна распахнет,
Навстречу новым солнечным мгновеньям,
И тайны прошлого он в дар преподнесет
В ларце открытом новым поколеньям.
(Н.Никулочкина)

Участникам городской краеведческой игры «Город юный, город древний!» предлагается пройти предварительный Интернет-тур. Командана форуме сайта www.turizmbrk.rub разделе «Краеведение», может скачать документ в форматеMicrosoftOfficeWord с заданиями и отвечает на вопросы. За 1 неделю до городской краеведческой игры документ с ответами необходимо отправить на электронный адрес ЦДиЮТиЭ г.Брянска tyrizmbryansk@yandex.ru. По итогам Интернет-тура команда, набравшая наибольшее количество баллов, получает бонус, который даёт преимущество (дополнительные баллы) в игре «Город юный, город древний!» В случае получения одинакового количества баллов за задания Интернет-турабонусные баллы получает команда, чьи ответы были отправлены раньше (согласно информации электронной почты).

Вопросы Интернет-тура

	Кому посвящен этот памятник?
	Кому посвящен этот памятник?
	Какое слово пропущено?
	На каком здании находится данный элемент декора?
	Как называется этот памятник?

	Кому посвящен этот памятник?
	Кому посвящен этот памятник?
	Что это за объект?
	Как называется аллея, на которой находится эта стела?
	Как фамилия автора книги «Володарка», по которой вы готовились к игре?

Ответы на вопросы Интернет-тура

	Кому посвящен этот памятник? Узникам концлагеря. Советским людям, замученным немецко-фашистскими захватчиками.
	Кому посвящен этот памятник? Учащимся, которые в суровые военные годы встали к станкам и делали оружие. Труженикам тыла.
	Какое слово пропущено? Летчик.
	На каком здании находится данный элемент декора? Театр кукол.
	Как называется этот памятник? Памятник «Покорителям космоса».

	Кому посвящен этот памятник? А.С. Пушкину.
	Кому посвящен этот памятник? В.В. Володарскому.
	Что это за объект? Ракета.
	Как называется аллея, на которой находится эта стела? Аллея Воинской Славы и Труда Володарского района города Брянска.
	Как имя и фамилия автора книги «Володарка», по которой вы готовились к игре? Яков Соколов.

Основной этап игры

Каждая команда на старте получает план – схему района игры и информационную справку об объектах, нанесённых на картосхему района игры, которая одновременно является опросником.

Задача участников - ознакомиться с заявленными объектами, сфотографироваться на их фоне, чтобы затем дать ответы на листе опросника. За каждый найденный объект и за каждый верный ответ команда получает премиальные баллы.

На финише команда предъявляет судьям фотоаппарат с отснятым материалом для подсчета баллов.

Условные обозначения

1.		Место старта (финиша)
2.		Контрольный пункт (КП) на карте, обозначающий место расположения данного объекта
3.		Территория, на которой размещено несколько объектов
4.		Порядковый номер объекта
5.		Необходимо сфотографироваться на фоне объекта (или сфотографировать объект).
6.		Количество фотографий в районе объекта.
7.	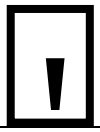	Необходимо сфотографировать объект (фрагмент).

Легенда к картосхеме

1 – памятная доска 2 – памятник 3 – парк 4 – театр 5 – памятник 6 – парк культуры 7 – вокзал	8 – памятная доска 9 – школа 10 – площадь 11 – памятник 12 – объект 13 – памятник 14 – памятник 15 – гимназия

Картосхема района игры

ОПРОСНИК (для выдачи командам)
ЛИСТ 1

1. Кто такой Абашеев Ф.Ф.?
Ответ:
_____
_____

Задание: сфотографируйте памятную доску.

1 !

x 1

2.Кому посвящен памятник?
Ответ:
_____
_____

Задание: сфотографируйтесь на фоне памятника.

2

x 1

3.Как называется парк?
Ответ:
_____
_____

Задание: сфотографируйтесь на фоне данного объекта в парке.

3

x 1

4.Как называется театр?
Ответ:
_____
_____

Задание: сфотографируйтесь на фоне театра.

4

x 1

5. Как называется памятник?
Ответ:
_____
_____
_____

Задание: сфотографируйтесь на фоне памятника.

5

x 1

ЛИСТ 2 - ПАРК КУЛЬТУРЫ И ОТДЫХА ИМ. В.И. ЛЕНИНА

6.<u>ПОДСКАЗКИ ВОКРУГ ВАС!</u>

А. Фамилии скольких воинов указаны на памятных табличках у Вечного огня на Аллее Славы?
Ответ: _____

Задание: сфотографируйтесь на фоне Вечного огня.

6

x 1

Б. Какие 3 улицы появились в Привокзальной слободе одними из первых (как они назывались в прошлом)?
Ответ 1: _____
Ответ 2: _____
Ответ 3: _____
Как они называются сейчас?
Ответ 1: _____
Ответ 2: _____
Ответ 3: _____
Задание: сфотографируйтесь на фоне табличек с названиями улиц

СМОТРИТЕ КАРТУ!

x 3

В.Когда Володарский район получил свое название?
Ответ:
_____
_____

Задание: сфотографируйтесь на фоне здания, на которое обращен памятник В.И. Ленину в парке.

x 1

Г. Кто это?
Ответ:
_____
_____
_____
Его имя носит одна из улиц Володарского района.

Задание: сфотографируйтесь на фоне школы, в которой учился этот человек.

x 1

СМОТРИТЕ КАРТУ!

ЛИСТ 3 - ПАРК КУЛЬТУРЫ И ОТДЫХА ИМ. В.И. ЛЕНИНА

Д. Кто это? **Ответ:** _____ _____ _____ _____ _____ _____	
Е. Продолжите стихотворение. **Ответ:** _____ _____ _____ _____ **Задание:** сфотографируйтесь на фоне стенда, на котором написано это стихотворение.	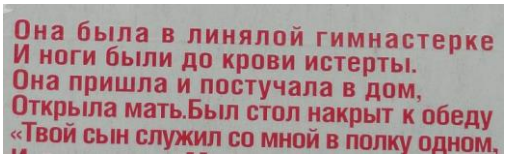 Она была в линялой гимнастерке И ноги были до крови истерты. Она пришла и постучала в дом, Открыла мать.Был стол накрыт к обеду «Твой сын служил со мной в полку одном. x 1
Ж. Что это за мероприятие? **Ответ:** _____ _____ _____	
З. **Задание:** Сфотографируйтесь на фоне стелы на Аллее Славы.	  x 1

ЛИСТ 4

7. Соблюдайте правила безопасности, НЕ ПЕРЕХОДИТЕ железнодорожные пути!

А. Какие исторические объекты видны вам с путепровода?

Ответ:

_____

_____

Задание: Сфотографируйтесь на фоне этих объектов, находясь на путепроводе.

7

x 1

Б. Что написано на памятнике на ближайшей к вам платформе?

Ответ:

_____

_____

_____

Задание: Сфотографируйтесь на фоне памятника.



x 1

8. Какое мероприятие проходило в этом здании в 1918 году?

Ответ:

_____

_____

Задание: Сфотографируйте памятную доску.

!

8

x 1

9. Кому посвящены мраморные памятные доски на здании школы?

Ответ:

_____

_____

_____

Задание: Сфотографируйтесь на фоне здания школы.

9

x 1

ЛИСТ 5 - ПЛОЩАДЬ КОНСТИТУЦИИ

10. А. В каком году возникла Привокзальная слобода?
Ответ 1:_____

Б.Как называлась церковь в Привокзальной слободе?
Ответ 2:_____

В. Как назывались пароходы, ходившие по Десне в 1898 году со станции Брянск?
Ответ 3:_____

Задание: Сфотографируйтесь на фоне стендов.

10

x 1

11. Кому посвящен памятник?
Ответ 1:
_____

Кем был этот человек?
Ответ 2:
_____
_____

Задание: сфотографируйтесь на фоне памятника.

11

x 1

12. Как назывался Дом Культуры, располагавшийся в здании рядом с ракетой?
Ответ:
_____

Задание: сфотографируйтесь на фоне ракеты.

12

x 1

13. Кому посвящен памятник?
Ответ:
_____
_____
_____

Задание: сфотографируйтесь на фоне памятника.

13

x 1

ЛИСТ 6

14. Что находилось на месте бывшей ремонтной базы № 85? **Ответ:** _____ _____ _____ _____ **Задание:** сфотографируйтесь на фоне памятника. **14**	 x 1
15. Кто из партизанского отряда имени Д.Е. Кравцова учился в этой школе? **Ответ:** _____ _____ _____ _____ _____ **Задание:** сфотографируйтесь на фоне школы, и ВЫ ВЫПОЛНИТЕ ЗАДАНИЕ **№ 6 Г.**	 **15** x 1

Данный опросник выдается каждой команде до начала игры. В ходе игры команда заполняет его самостоятельно. Ответы проверяются судейской бригадой на финише.

Фотографии в опроснике помогают командам сориентироваться на местности и являются своеобразными подсказками.

ОТВЕТЫО ПРОСНИКА
ЛИСТ 1

1. Кто такой Абашеев Ф.Ф.? **Ответ:** Командир 197 стрелковой дивизии, освобождавшей Брянск в 1943 году. **ФОТО ДОСКИ**	 ! 1
2. Кому посвящен памятник? **Ответ:** А.С. Пушкину **ФОТО НА ФОНЕ ПАМЯТНИКА**	 2
3. Как называется парк? **Ответ:**«ЮНОСТЬ» **ФОТО НА ФОНЕ ОБЪЕКТА**	 3
4.Как называется театр? **Ответ:** Театр кукол **ФОТО НА ФОНЕ ОБЪЕКТА**	 4
5. Как называется памятник? **Ответ:** Памятник Покорителям космоса **ФОТО НА ФОНЕ ПАМЯТНИКА**	 5

ЛИСТ2 - ПАРК КУЛЬТУРЫ И ОТДЫХА ИМ. В.И. ЛЕНИНА

6.<u>ПОДСКАЗКИ ВОКРУГ ВАС!</u> **А.** Фамилии скольких воинов указаны на памятных табличках у Вечного огня на Аллее Славы? **Ответ:**<u>38</u> **6** **<u>ФОТО НА ФОНЕ ВЕЧНОГО ОГНЯ</u>**	
Б. Какие 3 улицы появились в Привокзальной слободе одними из первых (как они назывались в прошлом)? **Ответ 1:** <u>ТРАНСПОРТНАЯ</u> **Ответ 2:**<u>ВИТЕБСКАЯ</u> **Ответ 3:**<u>ЖИЗДРИНСКАЯ</u> Как они называются сейчас? **Ответ 1:**<u>ВОЛОДАРСКОГО</u> **Ответ 2:**<u>ДИМИТРОВА</u> **Ответ 3:**<u>ПУШКИНА</u> **<u>ФОТО НА ФОНЕ ТАБЛИЧЕК С НАЗВАНИЯМИ УЛИЦ</u>** (3 ШТ.)	**Ул. им. Володарского** **Ул. им. Димитрова** **Ул. им. Пушкина**
В. Когда Володарский район получил свое название? **Ответ:** <u>14 февраля 1919 года</u> **<u>ФОТО НА ФОНЕ ЗДАНИЯ АДМИНИСТРАЦИИ ВОЛОДАРСКОГО Р-НА</u>**	
Г. Кто это? **Ответ:** <u>Борис Михайлович Афанасьев – летчик, герой Советского Союза</u> **<u>ФОТО НА ФОНЕ ЗДАНИЯ ШКОЛЫ</u>**	

ЛИСТ 3

Д. Кто это? **Ответ:** Галина Мальчугина – призер олимпийских игр в Сеуле. **ФОТОГРАФИРОВАТЬСЯ НЕ НУЖНО!**	
Е. Продолжите стихотворение. **Ответ:** … И я пришла. Меня зовут ПОБЕДА» **ФОТО НА ФОНЕ СТЕНДА**	
Ж. Что это за мероприятие? **Ответ:** ТУРСЛЕТ	
З. **ФОТО НА ФОНЕ СТЕЛЛЫ**	

ЛИСТ 4

7. НЕ ПЕРЕХОДИТЕ ЖД ПУТИ!!!

А. Какие исторические объекты видны вам с путепровода?

Ответ:
ВОКЗАЛ, ПОЕЗД

ФОТО НА ФОНЕ ВОКЗАЛА

7

Б. Что написано на памятнике на ближайшей к вам платформе?

Ответ:
130 лет станции Брянск-Орловский 1868 - 1998

ФОТО НА ФОНЕ ПАМЯТНИКА

8. Какое мероприятие проходило в этом здании в 1918 году?

Ответ:
Первое собрание комсомольцев Володарского района

.**ФОТО ДОСКИ**

!

8

9. Кому посвящены мраморные памятные доски на здании школы?

Ответ 1:
Учащимся и учителям школ Володарского р-на.

ФОТО НА ФОНЕ ЗДАНИЯ ШКОЛЫ

9

ЛИСТ 5 - ПЛОЩАДЬ КОНСТИТУЦИИ

10. А. В каком году возникла Привокзальная слобода?
Ответ 1: 1868

Б. Как называлась церковь в Привокзальной слободе?
Ответ 2: Николаевская церковь

В. Как назывались пароходы, ходившие по Десне в 1898 году со станции Брянск?
Ответ 3: «Вера», «Надежда»

10

ФОТО НА ФОНЕ СТЕНДОВ

11. Кому посвящен памятник?
Ответ 1:
В. В. Володарский

Ответ 2:
Комиссар по делам печати, пропаганды и агитации Петрограда

11

ФОТО НА ФОНЕ ПАМЯТНИКА

12. Как назывался Дом Культуры, располагавшийся в здании рядом с ракетой?
Ответ:
ДК им. Гагарина

12

ФОТО НА ФОНЕ РАКЕТЫ

13. Кому посвящен памятник?

Ответ:
Учащимся, которые в суровые военные годы встали к станкам и делали оружие.

13

ФОТО НА ФОНЕ ПАМЯТНИКА

ЛИСТ 6

14. Что находилось на месте бывшей ремонтной базы № 85? **Ответ:** Концлагерь **ФОТО НА ФОНЕ ПАМЯТНИКА** **14**	
15. Кто из партизанского отряда имени Д.Е. Кравцова учился в этой школе? **Ответ 1:** Зинаида Голованова **ФОТО НА ФОНЕ ЗДАНИЯ ШКОЛЫ** **15**	

Ответы на опросник выдаются каждому судье финиша.

Фотографии в ответах на опросник помогают судьям проверить сделанные командами фотографии и ответы, данные участниками.

Городская краеведческая игра «Город юный, город древний – 2014 год»

Введение

История Фокинского района Брянска началась в конце 19 века. В 1894 году царским правительством были одобрены технические условия постройки Брянск-Льговский, а впоследствии Московско-Брянской железнодорожных линий. 5 марта 1908 года посёлок уже назван Льговским. Датой его возникновения считался 1896 год.

В то время в поселке было 489 деревянных домов, не считая железнодорожных построек. Главное занятие жителей – работа на железной дороге. В посёлке действовали слесарная и столярные мастерские, две парикмахерские. Было три чайных, трактир, аптека, несколько лавок, магазин для работников железной дороги, две часовых мастерские, четыре кузницы. Самое интересное, что годовой оборот железнодорожного магазина в два раза превышал годовой оборот всех торгово-промышленных предприятий посёлка Брянск-Льговский. В посёлке также имелись школа и железнодорожное училище.

В 1927 году жителей поселка насчитывало уже 9156 человек, большинство из которых были рабочие и служащие. В это время главное место в посёлке занимал железнодорожный узел. Было и несколько предприятий. Самое крупное предприятие – это шиферный завод.

В 1933 году создаётся самостоятельное вагонное хозяйство, а затем и вагонное депо. В 1935 году в Советском Союзе начиналось развитие мясоперерабатывающей промышленности страны. Были созданы проекты будущих производств. На Брянщине комбинат был необходим и для снабжения московского региона. Спустя некоторое время мясокомбинат вступил в строй. В посёлке появились новые административные здания, школы, больница, магазины, клуб…

Наступил 1941 год. Самолеты противника уже в июне начали бомбить железнодорожные узлы. Сразу же после налёта железнодорожники устраняли повреждения, и поезда шли снова. А в июле вышло постановление об эвакуации населения из пятнадцати западных районов Орловской области, куда входила и Брянщина.

На Волгу, в Урал и в Западную Сибирь эвакуировались заводы и уезжали люди. Из Брянска было вывезено около ста сорока железнодорожных состава с оборудованием и сырьём.

В период оккупации Брянска немцы создали в Фокинском районе концлагерь для военнопленных (Meise). На этом месте сейчас — жилой район «Больничный городок», после войны там были эксгумированы 7 500 тел стариков, женщин и детей. Недалеко от остановки «Литий» есть памятник в память о мирных жителях, расстрелянных немецко-фашистскими оккупантами в годы Великой Отечественной войны.

После войны в Фокинском районе появилось несколько замечательных памятников, увековечивающих подвиг земляков и воинов, павших за Родину.

В сквере по улице Богдана Хмельницкого в 1965 году установлен пятиметровый пилон из гранита на бетонном постаменте. У подножия памятника горит Вечный огонь. Здесь проходят торжества, посвященные Дню Победы (9 мая) и Дню освобождения города Брянска от немецко-фашистских захватчиков (17 сентября).

В 1970 году у здания школы № 27 (ныне лицей № 27) сооружен памятник героям-комсомольцам — Владимиру Рябку, Вале Сафроновой и Игорю Кустову. Все они в разное время учились в этой школе. За совершенные в годы Отечественной войны подвиги они были посмертно удостоены высокого звания Героя Советского Союза.

При въезде в Фокинский район из центра Брянска рядом с мостом через реку Десна возвышается памятник гвардейским танкистам, одними из

первых ворвавшимся в центральную часть города 17 сентября 1943 года. Открыт памятник в 1968 году в честь 25-й годовщины освобождения города.

В честь ратного подвига воинов-водителей на шоссе А 141 «Брянск—Орёл» недалеко от городской черты, рядом с посёлком Осиновая Горка, в сентябре 1968 года открыт первый в стране памятник воинам-водителям.

Фокинский район города Брянска имеет богатую историю, но, к сожалению, многие школьники знают о Фокинке только то, что в этом районе находится вокзал Брянск II. Городская краеведческая игра была разработана специально для того, чтобы восполнить пробелы в знаниях школьников, открыть для них родной город по-новому, заинтересовать, подвигнуть на исследование и изучение.

Материалы данной разработки являются основой для проведения городской краеведческой игры «Город юный, город древний!»

Каждая команда на старте получает тест-опросник по достопримечательностям города Брянска. В ходе работы с опросником, команде необходимо определить в каком районе города находится каждый из объектов, и заполнить таблицу. После этого команде выдается картосхема Фокинского района и опросник с информационной справкой об исторических объектах, которые необходимо посетить в ходе игры.

Перед командами ставится задача посетить исторические объекты, сфотографироваться на их фоне (в отдельных случаях сфотографировать объекты), ответить на вопросы опросника. За каждый найденный объект и за каждый верный ответ команда получала премиальные баллы.

На финише команда предъявляет судьям фотоаппарат с отснятым материалом для подсчета баллов. После этого всем командам раздавался экспресс-опросник об объектах игры. Чтобы верно ответить на вопросы экспресс-опросника, участникам необходимо заранее ознакомиться с информацией, содержащейся в методической разработке «Пешеходная экскурсия по Фокинскому району города Брянска «Отчизны здесь моей

начало» для учащихся 5-9 классов» (разработчик – методист МБОУ ДОД ЦДиЮТиЭ г.Брянска Куратова Ярослава Витальевна), которая размещена на сайте www.turizmbrk.ru в разделе «Методическая копилка».

Есть в России много древних городов,
Витязей Отчизны, стражников веков.
Но милее сердцу только город свой -
Это наш старинный Брянск родной.
Город, что стоит над дивною Десной,
Отражаясь в ней своею красотой,
Он гостей встречает щедрою душой
Город доблести и славы боевой.
Будут наши внуки здесь когда-то жить,
Этот край беречь и город свой любить.

ТЕСТ-ОПРОСНИК КОМАНДЫ _____
НА ЗНАНИЕ ДОСТОПРИМЕЧАТЕЛЬНОСТЕЙ ГОРОДА БРЯНСКА

В каком районе города Брянска находятся эти объекты?

Заполните таблицу, расставьте буквы соответственно изображениям.

С – объект находится в Советском районе города.

Б – объект находится в Бежицком районе города.

В – объект находится в Володарском районе города.

Ф – объект находится в Фокинском районе города.

1	2	3	4	5	6	7	8	9	10

11	12	13	14	15	16	17	18	19	20

21	22

ТЕСТ-ОПРОСНИК
НА ЗНАНИЕ ДОСТОПРИМЕЧАТЕЛЬНОСТЕЙ ГОРОДА БРЯНСКА
(ОТВЕТЫ)

В каком районе города Брянска находятся эти объекты?

Заполните таблицу, расставьте буквы соответственно изображениям.

С – объект находится в Советском районе города.

Б – объект находится в Бежицком районе города.

В – объект находится в Володарском районе города.

Ф – объект находится в Фокинском районе города.

1	**2**	**3**	**4**	**5**	**6**	**7**	**8**	**9**	**10**
Ф	С	Б	С	В	С	В	С	Б	С

11	**12**	**13**	**14**	**15**	**16**	**17**	**18**	**19**	**20**
Б	В	С	В	Ф	С	В	Б	С	С

21	**22**
С	В

В КАКОМ РАЙОНЕ НАХОДИТСЯ КАЖДЫЙ ИЗ ЭТИХ ОБЪЕКТОВ?

В КАКОМ РАЙОНЕ НАХОДИТСЯ КАЖДЫЙ ИЗ ЭТИХ ОБЪЕКТОВ?

КАРТОСХЕМА ГОРОДСКОЙ КРАЕВЕДЧЕСКОЙ ИГРЫ
«ГОРОД ЮНЫЙ, ГОРОД ДРЕВНИЙ!»
(ФОКИНСКИЙ РАЙОН ГОРОДА БРЯНСКА)

△ - МЕСТО СТАРТА И ФИНИША КОМАНДЫ

① - КОНТРОЛЬНЫЙ ПУНКТ (КП) – МЕСТО, КОТОРОЕ ДОЛДНА ПОСЕТИТЬ КОМАНДА

Условные обозначения.

1.	**ПАМЯТНИК**
2.	**ДОМ ПО УЛИЦЕ ЧАПАЕВА, ПАМЯТНАЯ ДОСКА**
3.	**ПАМЯТНИК**
4.	**ПАМЯТНИК**
5.	**ДОМ ПО УЛИЦЕ КРАСНЫХ ПАРТИЗАН , ПАМЯТНАЯ ДОСКА**
6.	**ПАРОВОЗ**
7.	**ФСК «ЛОКОМОТИВ», ПАМЯТНАЯ ДОСКА**
8.	**ЖД ТЕХНИКУМ, ПАМЯТНАЯ ДОСКА**
9.	**МОСКОВСКИЙ УНИВЕРСИТЕТ ПУТЕЙ СООБЩЕНИЯ (БРЯНСКИЙ ФИЛИАЛ), ПАМЯТНАЯ ДОСКА**
10.	**ПАМЯТНИК**
11.	**ПАМЯТНИК**

Необходимо сфотографироваться на фоне объекта.

Необходимо сфотографировать объект (памятная доска).

ОПРОСНИК КОМАНДЫ _____ ЛИСТ 1

КП 1 **Вопрос:** Кому посвящен этот памятник? _____	
КП 2 **Вопрос 1:** Какой знаменитый человек жил в этом доме? _____ **Вопрос 2:** Кем был этот человек? _____	
КП 3 **Вопрос 1:** Кому посвящен этот памятник? _____ _____ **Вопрос 2:** Он был награжден орденом «За заслуги перед Отечеством» 3 и 4 степени. Сколько еще орденов у него было? _____	
КП 4 **Вопрос 1:** Кому посвящен этот памятник? _____ _____ _____ **Вопрос 2:** В каком году построен дом расположенный справа от пилона? _____	

ЛИСТ 2

КП 5
Вопрос:
Кому посвящена памятная доска, размещенная на стене дома с часами?
_____
_____
_____
_____

!

КП 6
Вопрос 1:
Какие даты написаны на памятнике-паровозе?_____

Вопрос 2:
Чье изображение размещено на памятнике-паровозе?
_____

КП 7
Вопрос:
Кому посвящена памятная доска на здании ФСК «Локомотив»
_____

!

КП 8
Вопрос 1:
Кто из Героев Советского Союза обучался в Железнодорожном техникуме?
_____
_____

!

Вопрос 2:
Имена скольких Героев увековечены в памятных табличках, размещенных на стенах ЖД техникума?
_____

Сфотографируйте табличку с портретом Героя Советского Союза!



ЛИСТ 3

КП 9
Вопрос:
В какой период было построено здание, в котором сейчас размещается Брянский филиал Московского университета путей сообщения?

_____

ФОТО НА ФОНЕ СИМОФОРА И КОЛЕСНОЙ ПАРЫ

КП 10
Вопрос:
Фамилии скольких воинов увековечены на памятнике?_____

КП 11
Вопрос 1:
Кому посвящен памятник?

_____
_____
_____

Вопрос 2:
Слова, какого знаменитого советского писателя написаны на памятнике?

_____

ОТВЕТЫ КОПРОСНИКУ ДЛЯ СУДЕЙ ЛИСТ 1

КП 1
Вопрос:
Кому посвящен этот памятник?
ИГНАТ ФОКИН

КП 2
Вопрос 1:
Какой знаменитый человек жил в этом доме?
АЛЕКСЕЙ ИВАНОВИЧ ИЖУКИН

Вопрос 2:
Кем был этот человек?
ГЕРОЙ СОВЕТСКОГО СОЮЗА, ПАРТИЗАН

!

КП 3
Вопрос 1:
Кому посвящен этот памятник?
ИВАН ЛЕОНТЬЕВИЧ ПАРИСТЫЙ

Вопрос 2:
Он был награжден орденом «За заслуги перед Отечеством» 3 и 4 степени.
Сколько еще орденов у него было?
5



КП 4
Вопрос 1:
Кому посвящен этот памятник?
ГЕРОЯМ, ПАВШИМ ЗА РОДИНУ
Вопрос 2:
В каком году построен дом расположенный справа от пилона?
1948

ЛИСТ 2

КП 5
Вопрос:
Кому посвящена памятная доска, размещенная на стене дома с часами?
РАБОТНИКАМ БРЯНСК-УНЕЧСКОЙ ДИСТАНЦИИ СИГНАЛИЗАЦИИ И СВЯЗИ, ПАВШИМ В ГОДЫ ВОВ

!

КП 6
Вопрос 1:
Какие даты написаны на памятнике-паровозе?**1917-1967**

Вопрос 2:
Чье изображение размещено на памятнике-паровозе?
В.И. ЛЕНИН

КП 7
Вопрос:
Кому посвящена памятная доска на здании ФСК «Локомотив»
ЕФИМОВ ВЯЧЕСЛАВ ГЕОРГИЕВИЧ

!

КП 8
Вопрос 1:
Кто из Героев Советского Союза обучался в Железнодорожном техникуме?
ТРОФИМЕНКО СЕРГЕЙ ГЕОРГИЕВИЧ

Вопрос 2:
Имена скольких Героев увековечены в памятных табличках, размещенных на стенах ЖД техникума?
4

!

ЛИСТ 3

КП 9 **Вопрос:** В какой период было построено здание, в котором сейчас размещается Брянский филиал Московского университета путей сообщения? **<u>В ГОДЫ ПЕРВОЙ ПЯТИЛЕТКИ</u>** **ФОТО НА ФОНЕ СИМОФОРА И КОЛЕСНОЙ ПАРЫ**	
КП 10 **Вопрос:** Фамилии скольких воинов увековечены на памятнике? **<u>79</u>**	
КП 11 **Вопрос 1:** Кому посвящен памятник? **<u>В. РЯБОК</u>** **<u>В. САФРОНОВА</u>** **<u>И. КУСТОВ</u>** **Вопрос 2:** Слова, какого знаменитого советского писателя написаны на памятнике? **<u>М. ГОРЬКИЙ</u>**	

ВНИМАНИЕ!!! БОНУСЫ!!!

Выполнения бонусных заданий принесет вам дополнительные баллы
(за каждое правильное задание – до 3 баллов)

БОНУС НА КП № 3 3 балла	**ЛЕГЕНДА:** От памятника следуйте на ЗАПАД до пешеходного моста, который проходит над ЖД путями. Далее по мосту до конца. Перейдя мост, поверните на СЕВЕР (направо) и следуйте до здания вокзала БРЯНСК-ЛЬГОВСКИЙ. **ЗАДАНИЕ:** Найдите табличку и запишите ответ на вопрос - В КАКОМ ГОДУ БЫЛ ПОСТРОЕН ВОКЗАЛ БРЯНСК II?_____ (цифрами) Сфотографируйтесь на фоне таблички.
БОНУС НА КП № 4 2 балла	**ЛЕГЕНДА:** Недалеко от памятной стелы, на пересечении улицы Б.Хмельницкого и улицы Красных партизан, расположен дом с памятной табличкой. **1. ЗАДАНИЕ:** Найдите табличку и запишите ответ на вопрос - О КОМ ИЗ ЭТИХ ГЕРОИЧЕСКИХ ЛЮДЕЙ ГОВОРИТСЯ В ПАМЯТНОЙ ТАБЛИЧКЕ? (отметьте ☑) ☐ ☐ ☐ **2. ЗАДАНИЕ:** Запишите информацию об этом человеке – _____ _____
БОНУС НА КП № 6 2 балл	Недалеко от паровоза расположено здание, оно введено в эксплуатацию в 1953 году. Строилось силами пленных немцев. Находилось на балансе железной дороги до 2001 года. Пар подавался в здание по трубам от рядом стоящего работающего паровоза. **ЗАДАНИЕ:** О каком здании по улице 2 Аллея идёт речь. Сфотографируйтесь на фоне здания._____

БОНУС НА КП № 8 3 балла	Биография Иван Леонтьевич Паристый, автор ряда научных трудов в области железнодорожного транспорта. Он награжден орденами Ленина, Трудового Красного Знамени, Октябрьской Революции, «За заслуги перед Отечеством» IV степени. Удостоен званий «Почетный железнодорожник», «Заслуженный работник транспорта СССР», «Почетный транспортный строитель». Избирался делегатом трех партийных съездов КПСС, дважды — депутатом Верховного Совета Российской Федерации... Звание почетного гражданина города Брянска присвоено в сентябре 1976 года. **ЗАДАНИЕ:** 1. Звание «Почетный гражданин города Москвы»было присвоено И.Л. Паристому в 1997 г. за: _____ А. выдающиеся заслуги в организации работы Московской железной дороги; Б. существенный личный вклад в строительство и восстановление исторического облика Московских железнодорожных вокзалов; В. большую общественную деятельность; 2. Укажите период, в который И.Л. Паристый был начальником Брянского отделения Московской железной дороги: _____ А. с 1978 по 1998 год Б. с1962 по 1968 год В. с 1985 по 1991 год 3. Звание «Заслуженный работник транспорта СССР» было присвоено И.Л. Паристому в 1991 г. за: _____ Б. выдающиеся достижения в выполнении заданий по грузовым и пассажирским перевозкам; В. большой личный вклад в разработку и реализацию системы движения длинносоставных и тяжеловесных поездов; Г. обеспечение безопасности движения и сохранности грузов. 4.Звание «Почетный гражданин города Брянска»было присвоено И.Л. Паристому в 1976 г. за: _____ А. большой личный вклад в модернизацию железной дороги, связанную с переходом на тепловозную, а затем на – на электрическую тягу; Б. строительство объектов социально-культурного назначения, активное участие в общественной жизни Брянска и области; В. реконструкцию депо, усиление энергоснабжения, освоение новой техники и технологических процессов, организацию перевозок тяжеловесных составов.

НО!!! Правильно рассчитайте свои силы и время! Если вы опоздаете на финиш – команде будут начислены ШТРАФНЫЕ БАЛЛЫ!

ЭКСПРЕСС-ОПРОСНИК

КОМАНДЫ _____

№	Вопрос	Ответ
1.	В каком районе располагалась древнее поселение «Черепеньки»?	**А.** В районе остановки «Западная». **Б.** В районе остановки «ДК Железнодорожникой». **В.** В районе остановки «Литий».
2.	Почему поселение было названо «Черепеньки»?	**А.** В честь археолога, обнаружившего поселение. **Б.** Найдено множество черепов древних людей. **В.** Найдено много обломков глиняной посуды.
3.	Как называется главная магистраль Фокинского района?	**А.** Улица Фокина. **Б.** Проспект Ленина. **В.** Проспект Московский.
4.	Как назывался мост, находящийся на въезде в Фокинский район?	**А.** «Черный мост». **Б.** «Первомайский мост». **В.** «Литейный мост».
5.	Как называется ЖД станция Брянск-II?	**А.** «Брянск-Восточный». **Б.** «Брянск-Льговский». **В.** «Брянск-Орловский».
6.	Какие деревья были высажены на улицах 1я аллея и 2я аллея?	**А.** Липа. **Б.** Тополь. **В.** Клен.
7.	Для чего были высажены деревья на улицах 1я аллея и 2я аллея?	**А.** Для украшения. **Б.** Для защиты от паровозного дыма и шума. **В.** Оба ответа верны.
8.	В каком году был установлен памятник-пилон на улице Богдана Хмельницкого?	**А.** 1965. **Б.** 1975. **В.** 1985.
9.	В каком году был построен Дворец культуры Железнодорожников.	**А.** 1955. **Б.** 1960. **В.** 1965.
10.	В каком году поселок Льговский был переименован в Фокинский?	**А.** 1944. **Б.** 1930. **В.** 1921.
11.	На каком предприятии до Великой Отечественной войны работал герой-партизан В. Рябок?	**А.** «Брянский мясокомбинат». **Б.** «Дятьковский хрустальный завод». **В.** «Литий».
12.	Где погиб герой-партизан В. Рябок?	**А.** Деревня Верхи. **Б.** Поселок Снежетьский. **В.** Село Журиничи.
13.	Кто из героев-комсомольцев погиб в 1943 году?	**А.** И. Кустов. **Б.** В. Рябок. **В.** В. Сафронова.
14.	В каком партизанском отряде состояла разведчица В. Сафронова?	**А.** Партизанский отряд им. Виноградова. **Б.** Партизанский отряд Ромашина. **В.** Партизанский отряд им. Кравцова.

15.	Какое топливо использовалось для паровозов, курсировавших через Брянск в 30х годах 20 века?	**А.** Дрова. **Б.** Уголь. **В.** Оба ответа верны.
16.	Кем до войны работал Герой Советского Союза Трофименко Сергей Григорьевич в вагонном депо Брянск-II?	**А.** Рассыльный, обтирщик паровозов. **Б.** Истопник. **В.** Машинист.

ЭКСПРЕСС-ОПРОСНИК (СУДЬЯМ)

№	Вопрос	Ответ
1.	В каком районе располагалась древнее поселение «Черепеньки»?	**А.**В районе остановки «Западная». **Б.** В районе остановки «ДК Железнодорожников». **В.** В районе остановки «Литий».
2.	Почему поселение было названо «Черепеньки»?	**А.** В честь археолога, обнаружившего последние. **Б.** Найдено множество черепов древних людей. **В.**Найдено много обломков глиняной посуды.
3.	Как называется главная магистраль Фокинского района?	**А.** Улица Фокина. **Б.** Проспект Ленина. **В.**Проспект Московский.
4.	Как назывался мост, находящийся на въезде в Фокинский район?	**А.**«Черный мост». **Б.** «Первомайский мост». **В.**«Литейный мост».
5.	Как называется ЖД станция Брянск-II?	**А.** «Брянск-Восточный». **Б.**«Брянск-Льговский». **В.**«Брянск-Орловский».
6.	Какие деревья были высажены на улицах 1я аллея и 2я аллея?	**А.**Липа. **Б.**Тополь. **В.** Клен.
7.	Для чего были высажены деревья на улицах 1я аллея и 2я аллея?	**А.**Для украшения. **Б.**Для защиты от паровозного дыма и шума. **В.**Оба ответа верны.
8.	В каком году был установлен памятник-пилон на улице Богдана Хмельницкого?	**А.**1965. **Б.** 1975. **В.**1985.
9.	В каком году был построен Дворец культуры Железнодорожников.	**А.**1955. **Б.** 1960. **В.**1965.
10.	В каком году поселок Льговский был переименован в Фокинский?	**А.**1944. **Б.** 1930. **В.**1921.

11.	На каком предприятии до Великой Отечественной войны работал герой-партизан В. Рябок?	**А.** «Брянский мясокомбинат». **Б.**«Дятьковский хрустальный завод». **В.**«Литий».
12.	Где погиб герой-партизан В. Рябок?	**А.**Деревня Верхи. **Б.** Поселок Снежетьский. **В.** Село Журиничи.
13.	Кто из героев-комсомольцев погиб в 1943 году?	**А.**И. Кустов. **Б.** В. Рябок. **В.** В. Сафронова.
14.	В каком партизанском отряде состояла разведчица В. Сафронова?	**А.** Партизанский отряд им. Виноградова. **Б.** Партизанский отряд Ромашина. **В.**Партизанский отряд им. Кравцова.
15.	Какое топливо использовалось для паровозов, курсировавших через Брянск в 30х годах 20 века?	**А.** Дрова. **Б.** Уголь. **В.**Оба ответа верны.
16.	Кем до войны работал Герой Советского Союза Трофименко Сергей Григорьевич в вагонном депо Брянск-II?	**А.**Рассыльный, обтирщик паровозов. **Б.** Истопник. **В.** Машинист.

Городская краеведческая игра «Город юный, город древний – 2015 год»

Введение

Советский район — один из административных районов Брянска, его историческое ядро. Считается центральным районом Брянска.

С 6 октября 1941 года, город был оккупирован немецкими войсками.

На город опустилась черная ночь фашистской оккупации. Гитлеровцы и кучка их приспешников-предателей стали вводить «новый порядок». Один за другими посыпались приказы коменданта, городского головы, бургомистра. Прежде всего, переименовали улицы. Так улица Луначарского стала Старо-Соборной, Октябрьская – Завальской. Все жители города обязаны были зарегистрироваться, а коммунисты, комсомольцы должны стать на особый учет и ежедневно отмечаться. На третий день оккупации в городе появились виселицы.

Фашисты ликвидировали всю систему медицинского обслуживания, закрыли школы, разрушили библиотеки, клубы, кинотеатры.С января 1942

года брянский драматический театр стал называться «Немецким», обслуживая преимущественно представителей арийской расы. Во время отступления в 1943 году фашисты заминировали здание. Взрыв прогремел через день после освобождения города и нанес театру огромный материальный ущерб. Погибли богатые декорации, костюмерная, бутафория, мебель и музыкальные инструменты. Все оборудование было уничтожено.

708 дней в Брянске хозяйничали немецкие захватчики. Это были два самых черных года за всю тысячелетнюю историю древнего города.

В конце лета 1943 года жители города стали слышать отдаленный гул артиллерийской канонады. Приближался час освобождения.

15 августа нашими войсками был взят Карачев. Однако продвинуться вперед по дороге Орел — Брянск не удавалось, т. к. враг упорно сопротивлялся на подступах к Брянску — важному пункту в системе его обороны. Лобовая атака на город через реку грозила большими потерями. Поэтому командование Брянского франта решило нанести, сначала, удар севернее Брянска в направлении Бежицы. Сбив противника с промежуточного рубежа, бойцы трое суток с боями пробивались вперед, обходя город с северо-запада. Они прошли 40 километров. Нависла угроза окружения Брянска. С рассветом 17 сентября начался штурм. В 8 часов 30 минут утра над зданием Бежицкого вокзала взвился красный флаг. Этой же ночью части полковников Украинца и Абашева под покровом темноты форсировали Десну и завязали уличные бои в Брянске. К утру 17 сентября Брянск был свобожден.

Войскам, участвовавшим в боях при форсировании Десны и освобождении Брянска и Бежицы, приказом ВГК от 17 сентября 1943 года объявлена благодарность и в Москве дан салют 12 артиллерийскими залпами из 124 орудий. Но, до полной победы над врагом было еще долгих два года.

9 мая 1945 года город Брянск отметил праздничным салютом. За десять дней до Победы артиллерийские орудия были размещены в нынешнем Парке А.К. Толстого. После нескольких дней тренировок, первый выстрел ракетными снарядами осветил стадион «Динамо» и прилегающие улицы. В городе царило всеобщее ликование.

Материалы данной разработки являются основой для проведения городской краеведческой игры «Город юный, город древний!». В 2015 году она посвящена 70-летию Победы в Великой Отечественной войне.

На старте команды получают карту-схему района с обозначенными на ней объектами (КП), которые необходимо найти, а так же опросник. Перед ними ставится задача посетить исторические объекты, сфотографироваться на их фоне, ответить на вопросы опросника. За каждый найденный объект и за каждый верный ответ команда получает премиальные баллы.

На финише каждая команда предъявляет судьям фотоаппарат с отснятым материалом для подсчета баллов. После этого всем командам раздавался экспресс-опросник об объектах игры. Чтобы верно ответить на вопросы экспресс-опросника, участникам необходимо заранее ознакомиться с информацией, содержащейся в методической разработке «Достопримечательности Советского района города Брянска», которая размещена на сайте www.turizmbrk.ru в разделе «Методическая копилка», а также с книгой Я. Соколова «Брянск – город древний».

КАРТА-СХЕМА МАРШРУТА ПОХОДА

- контрольный пункт (КП), который необходимо найти

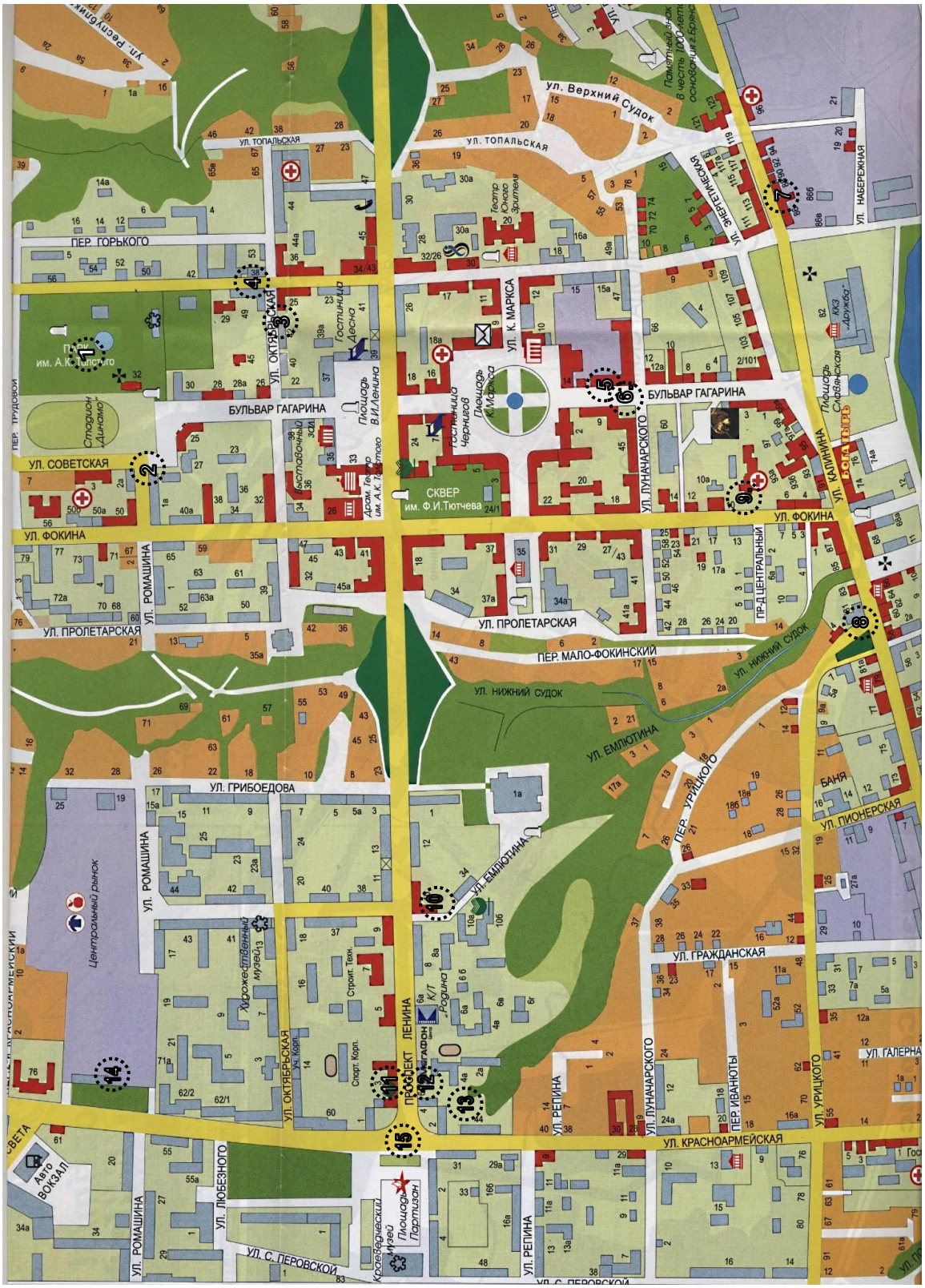

ЭКСПРЕСС-ОПРОСНИК

1. Когда город Брянск был оккупирован немецко-фашистскими войсками?
А. 6 октября.
Б. 16 октября.
В. 26 октября.

2. Какое название в период оккупации (с января 1944 года) носил Драматический театр имени А.К. Толстого?
А. «Брянский».
Б. «Имени Адольфа Гитлера».
В. «Немецкий».

3. Сколько дней Брянск находился в оккупации?
А. 688.
Б. 698.
В. 708.

4. Какие воинские подразделения освобождавшие Брянск, получили звание «Брянских»?
А. 197-я и 323-я стрелковые дивизии, 3-я гвардейская истребительная авиационная дивизия, 277-й инженерный батальон, 140-й инженерно-саперный батальон.
Б. 4-я и 273-я стрелковые дивизии, 313-я ночная бомбардировочная дивизия, 310-й и 74-й гвардейские минометные полки.
В. 39-й, 220-й, 1090-й стрелковые полки, 260-я стрелковая дивизия, 783-й отдельный санитарный батальон.

5. Где 9 мая 1945 года в Советском районе размещались артиллерийские установки из которых в 10 часов вечера был дан праздничный салют?
А. Покровская гора.
Б. Парк А.К. Толстого.
В. Площадь Партизан.

6. Какой предмет находится в правой руке бронзовой фигуры комиссара, находящейся в центре скульптурной композиции на Площади Партизан?
А. Автомат.
Б. Газета.
В. Граната.

7. Кто стал вторым командиром Брянского городского партизанского отряда?
А. Д.Е. Кравцов.
Б. М.П. Ромашин.
В. М.И. Дука.

8. Что сейчас расположено на этом месте?
А. Парк А.К. Толстого.
Б. Площадь Ленина.
В. Сквер К. Маркса.

ОТВЕТЫ НА ЭКСПРЕСС-ОПРОСНИК

1. Когда город Брянск был оккупирован немецко-фашистскими войсками?
А.*6 октября.*
Б. 16 октября.
В. 26 октября.

2. Какое название в период оккупации (с января 1944 года) носил Драматический театр имени А.К. Толстого?
А. «Брянский».
Б. «Имени Адольфа Гитлера».
В.*«Немецкий».*

3. Сколько дней Брянск находился в оккупации?
А. 688.
Б. 698.
В.*708.*

4. Какие воинские подразделения освобождавшие Брянск, получили звание «Брянских»?
А.*197-я и 323-я стрелковые дивизии, 3-я гвардейская истребительная авиационная дивизия, 277-й инженерный батальон, 140-й инженерно-саперный батальон.*
Б. 4-я и 273-я стрелковые дивизии, 313-я ночная бомбардировочная дивизия, 310-й и 74-й гвардейские минометные полки.
В. 39-й, 220-й, 1090-й стрелковые полки, 260-я стрелковая дивизия, 783-й отдельный санитарный батальон.

5. Где 9 мая 1945 года в Советском районе размещались артиллерийские установки из которых в 10 часов вечера был дан праздничный салют?
А. Покровская гора.
Б.*Парк А.К. Толстого*.
В. Площадь Партизан.

6. Какой предмет находится в правой руке бронзовой фигуры комиссара, находящейся в центре скульптурной композиции на Площади Партизан?
А. Автомат.
Б.*Газета*.
В. Граната.

7. Кто стал вторым командиром Брянского городского партизанского отряда?
А. Д.Е. Кравцов.
Б. М.П. Ромашин.
В. *М.И. Дука*.

8. Что сейчас расположено на этом месте?
А. Парк А.К. Толстого.
Б. *Площадь Ленина.*
В. Сквер К. Маркса.

ОПРОСНИК КОМАНДЫ Лист 1

1. Парк им. А.К. Толстого ***Задание:*** Найдите в парке деревянную скульптуру, посвященную Великой Отечественной войне, сфотографируйтесь на ее фоне. ***Вопрос:*** Что до 1933 года располагалось на месте парка А.К. Толстого? _____	
2. Улица им. М.П. Ромашина ***Задание:*** Сфотографируйтесь на фоне памятной таблички. ***Вопрос:*** Чье имя носила партизанская бригада, которой руководил М.П. Ромашин? _____	 **М.П. Ромашин**
3. Улица Октябрьская Сфотографируйтесь на фоне памятной таблички. ***Вопрос:*** Кем в годы войны был Герой Советского Союза П.Ф. Шевелев _____	 **П.Ф. Шевелев**
4. Улица Октябрьская Сфотографируйтесь на фоне памятной таблички. ***Вопрос:*** Кем в годы войны был писатель Соколов Владимир Константинович _____	 **В.К. Соколов**

Лист 2

5. Бульвар им. Ю.А. Гагарина ***Задание:*** Сфотографируйтесь на фоне памятной таблички. ***Вопрос:*** Кому посвящена памятная доска? _____	 **?**
6. Бульвар им. Ю.А. Гагарина ***Задание:*** Сфотографируйтесь на фоне памятной таблички. ***Вопрос:*** _____	
7. Улица Калинина ***Задание:*** Сфотографируйтесь на фоне памятной доски. ***Вопрос:*** Кому посвящена памятная доска? _____ _____ _____	 **?**
8. Улица Калинина ***Задание:*** Сфотографируйтесь на фоне памятника. ***Вопрос:*** Кому посвящен памятник? _____ _____ _____	 **?**

Лист 3

9. Улица Фокина ***Задание:*** Сфотографируйтесь на фоне любой таблички с названием улицы. ***Вопрос:*** Кем в годы Великой Отечественной войны был человек, в честь которого названа улица? _____ _____	 **А.И. Фокин**
10. Улица Емлютина ***Задание:*** Сфотографируйтесь на фоне памятника. ***Вопрос:*** Кем в годы Великой Отечественной войны был человек, которому посвящен памятник? _____ _____	 **Д.В. Емлютин**
11. Улица Красноармейская ***Задание:*** Сфотографируйтесь на фоне памятной таблички. ***Вопрос:*** Кем в годы Великой Отечественной войны был человек, которому посвящена памятная доска? _____	
12. Улица Красноармейская ***Задание:*** Сфотографируйтесь на фоне памятной таблички. ***Вопрос:*** Кем в годы Великой Отечественной войны был человек, которому посвящена памятная доска? _____	
13. Улица Красноармейская Сфотографируйтесь на фоне памятной таблички. ***Вопрос:*** Кем в годы Великой Отечественной войны был человек, которому посвящена памятная доска? _____	

Лист 4

14. Улица Красноармейская
Сфотографируйтесь на фоне памятника-таблички.
Вопрос:
В честь кого назван сквер, чем знаменит этот человек?
_____
_____

15. Площадь Партизан
Сфотографируйтесь на фоне памятника.
Подсказка:
Вся информация на табличках.
Вопрос:
А. Сколько партизанских отрядов действовало на Брянщине в годы войны?
_____
Б.Сколько партизанских бригад действовало в на Брянщине в годы войны?
_____
В.Кто был командующим Брянским фронтом в 1941 году?
_____
Г. Кто был командующим Брянским фронтом в 1943 году?
_____



ЗАДАНИЯ «ВОЕННАЯ ХРОНИКА»

1. Задание:
Сфотографируйтесь на месте, локализованном в центре этого снимка, который демонстрирует разрушения города Брянска в годы войны.

2. Задание:
Сфотографируйтесь на месте, где в годы войны размещалось немецкое кладбище.

Подсказка: Эта колокольня находилась на территории бывшего Спасо-Поликарпова монастыря. Сейчас на ее месте стоит маленькая деревянная часовня.

3. Задание:
Сфотографируйтесь на месте, где в годы войны размещалось немецкое кладбище.
Подсказка: рядом с этим местом есть памятник дипломату



4. Задание:
Сфотографируйтесь на месте, где раньше располагалось это здание.
Подсказка:во время отступления в 1943 году здание было заминировано немцами. Взрыв прогремел через день после освобождения города. К 1949 году здание было полностью реконструировано в духе классицизма.



5. Задание:
Сфотографируйтесь на фоне этого здания.
Подсказка:оно было построено в 1828 году архитектором А.З. Гинбергом.

ОТВЕТЫ К ОПРОСНИКУ ДЛЯ СУДЕЙ Лист 1

1. Парк им. А.К. Толстого ***Задание:*** Найдите в парке деревянную скульптуру, посвященную Великой Отечественной войне и сфотографируйтесь на ее фоне. ***Вопрос:*** Что до 1933 года располагалось на месте парка А.К. Толстого? Кладбище	
2. Улица им. М.П. Ромашина ***Задание:*** Сфотографируйтесь на фоне памятной таблички. ***Вопрос:*** Чье имя носила партизанская бригада, которой руководил М.П. Ромашин? Н.А. Щёрса	
3. Улица Октябрьская Сфотографируйтесь на фоне памятной таблички. ***Вопрос:*** Кем в годы войны был Герой Советского Союза П.Ф. Шевелев Летчик, командир эскадрильи	
4. Улица Октябрьская Сфотографируйтесь на фоне памятной таблички. ***Вопрос:*** Кем в годы войны был писатель Соколов Владимир Константинович Партизаном	

Лист 2 (ОТВЕТЫ)

5. Бульвар им. Ю.А. Гагарина ***Задание:*** Сфотографируйтесь на фоне памятной таблички. ***Вопрос:*** Кому посвящена памятная доска? Расторгуев Л.П. – почетный строитель города Брянска	
6. Бульвар им. Ю.А. Гагарина ***Задание:*** Сфотографируйтесь на фоне памятной таблички. ***Вопрос:*** Кто был первым командиром партизанского отряда, сформированного в августе-сентябре 1941 года в здании педучилища? Д.Е. Кравцов	
7. Улица Калинина ***Задание:*** Сфотографируйтесь на фоне памятной доски. ***Вопрос:*** Кому посвящена памятная доска? М.Г. Непомнящему – Герою Советского Союза	
8. Улица Калинина ***Задание:*** Сфотографируйтесь на фоне памятника. ***Вопрос:*** Кому посвящен памятник? Д.Е. Кравцову – командиру Брянского городского партизанского отряда.	

Лист 3 (ОТВЕТЫ)

9. Улица Фокина ***Задание:*** Сфотографируйтесь на фоне любой таблички с названием улицы. ***Вопрос:*** Кем в годы Великой Отечественной войны был человек, в честь которого названа улица? Летчик	**Ул. Фокина**
10. Улица Емлютина ***Задание:*** Сфотографируйтесь на фоне памятника. ***Вопрос:*** Кем в годы Великой Отечественной войны был человек, которому посвящен памятник? Командир объединенных партизанских бригад	
11. Улица Красноармейская ***Задание:*** Сфотографируйтесь на фоне памятной таблички. ***Вопрос:*** Кем в годы Великой Отечественной войны был человек, которому посвящена памятная доска? Летчик	
12. Улица Красноармейская Сфотографируйтесь на фоне памятной таблички. ***Вопрос:*** Кем в годы Великой Отечественной войны был человек, которому посвящена памятная доска? Артиллерист	
13. Улица Красноармейская Сфотографируйтесь на фоне памятной таблички. ***Вопрос:*** Кем в годы Великой Отечественной войны был человек, которому посвящена памятная доска? Сапер, командир саперной роты	

Лист 4 (ОТВЕТЫ)

14. Улица Красноармейская Сфотографируйтесь на фоне памятника-таблички. ***Вопрос:*** В честь кого назван сквер, чем знаменит этот человек? А. Сафронов – автор стихов гимна Брянской области.	
15. Площадь Партизан Сфотографируйтесь на фоне памятника. ***Подсказка:*** Вся информация на табличках. ***Вопрос:*** **А.** Сколько партизанских отрядов действовало на Брянщине в годы войны? Более 150 **Б.**Сколько партизанских бригад действовало в на Брянщине в годы войны? 21 **В.**Кто был командующим Брянским фронтом в 1941 году? А.И. Еременко **Г.**Кто был командующим Брянским фронтом в 1943 году? М.М. Попов	

ОТВЕТЫ К ЗАДАНИЯМ «ВОЕННАЯ ХРОНИКА»

1. Задание:
Сфотографируйтесь на месте, локализованном в центре этого снимка, который демонстрирует разрушения города Брянска в годы войны.

2. Задание:
Сфотографируйтесь на месте, где в годы войны размещалось немецкое кладбище.

Подсказка: Эта колокольня находилась на территории бывшего Спасо-Поликарпова монастыря. Сейчас на ее месте стоит маленькая деревянная часовня.

3. Задание:
Сфотографируйтесь на месте, где в годы войны размещалось немецкое кладбище.
Подсказка: рядом с этим местом есть памятник дипломату





4. Задание:
Сфотографируйтесь на месте, где раньше располагалось это здание.
Подсказка:во время отступления в 1943 году здание было заминировано немцами. Взрыв прогремел через день после освобождения города. К 1949 году здание было полностью реконструировано в духе классицизма.



5. Задание:
Сфотографируйтесь на фоне этого здания.
Подсказка:оно было построено в 1828 году архитектором А.З. Гинбергом.

Вопросы викторины «Шли на битву партизаны»

1. 30 января 1967 года Указом Президиума Верховного Совета СССР за активное участие в партизанском движении, мужество и стойкость, проявленное в борьбе с немецкими захватчиками в период Великой Отечественной войне, за успехи, достигнутые в восстановлении и развитии народного хозяйства Брянской области.
   Какой наградой отмечена Брянская область?

   _____

2. Указ Президиума Верховного Совета от 1 сентября 1942 года о присвоении звания Героя Советского Союза семи брянским партизанам:

ФИО	*Отряд и должность бойца*
А.Д. Бондаренко	- командира отряда Д. Е. Кравцова
М.И. Дуке	- командир Брянского районного партизанского отряда; командир партизанской бригады имени Н.А. Щорса
Д.В. Емлютину	- политрук отряда « Смерть немецким оккупантам»
И. Ижукину	- командир молодёжного партизанского отряда
М.П. Ромашину	- командир Объединенных партизанских отрядов Брянского партизанского края
В.А. Рябку	- командир отряда
Ф.Е. Стрельцу	- подрывник партизанского отряда «Народный мститель»

В каких отрядах (бригадах), в каких должностях воевали вышеперечисленные бойцы? Соедините линией.

3. В «Орловской правде» от 19.09.1943 г. приведены данные деятельности партизанской бригады под командыванием И.А. Панасенкова. За время боевых действий пустившая под откос 69 эшелонов противника, уничтожившая 814 автомашин, взорвавшая 3 железнодорожных и 35 деревянных мостов, 11 складов с боеприпасами, 17 элеваторов с 500 тоннами зерна, разрушившая 23 км. ж/д полотна, сбившая 6 самолётов, разгромившая 12 немецких штабов, 42 полицейских стана, освободившая из тюрьмы 420 человек, уничтожившая 6000 гитлеровцев.
   Как называлась партизанская бригада?

   _____

4. Партизанское движение на Брянщине имеет 4 периода:

Краткая характеристика каждого периода	*Временные отрезки*
- Подбор и расстановка коммунистов для подпольной работы, создание партизанских отрядов и баз.	Июль - декабрь 1941
- Разгром вражеских войск под _____ ____, подъём населения на борьбу против оккупантов.	Апрель- сентябрь 1942
- Создание чёткой структуры управления партизанским движением, кот. в	Сентябрь 1942 – сентябрь 1943

результате победы под _____
бурно развивается вширь и вглубь.
- Победа под _____, рельсовая Декабрь 1941 – апрель 1942
война.

Линией соедините период и его временной отрезок. Заполните пробелы.

5. Перечислите аэродромы Брянского партизанского края?
1_____
2_____
3_____
4_____

6. На территории брянской области действовали 4 группировки партизан. Какие административные районы входили в каждую группировку?
северная _____
южная _____

юго- западная_____

северо-западная_____

7. Что принято называть партизанским краем?
_____

Ответы викторины «Шли на битву партизаны»

1. 30 января 1967 года Указом Президиума Верховного Совета СССР за активное участие в партизанском движении, мужество и стойкость, проявленное в борьбе с немецкими захватчиками в период Великой Отечественной войне, за успехи, достигнутые в восстановлении и развитии народного хозяйства Брянской области.
   Какой наградой отмечена Брянская область?*Орден Ленина*

2. Указ Президиума Верховного Совета от 1 сентября 1942 года о присвоении звания Героя Советского Союза семи партизанам:
   А.Д. Бондаренко - ***политрук отряда « Смерть немецким оккупантам»***
   М.И. Дуке***- командира отряда Д. Е. Кравцова***
   Д.В. Емлютину***- командир Объединенных партизанских отрядов Брянского партизанского края.***
   И. Ижукину -***подрывник партизанского отряда «Народный мститель»***
   М.П. Ромашину - ***командир Брянского районного партизанского отряда; командир партизанской бригады имени Н.А. Щорса.***
   В.А. Рябку - ***командир молодёжного партизанского отряда***
   Ф.Е. Стрельцу - ***командир отряда***

В каких отрядах (бригадах), в каких должностях воевали вышеперечисленные бойцы?

3. В «Орловской правде» от 19.09.1943 г. приведены данные деятельности партизанской бригады под командыванием И.А. Панасенкова. За время боевых действий пустившая под откос 69 эшелонов противника, уничтожившая 814 автомашин, взорвавшая 3 железнодорожных и 35 деревянных мостов, 11 складов с боеприпасами, 17 элеваторов с 500 тоннами зерна, разрушившая 23 км. ж/д полотна, сбившая 6 самолётов, разгромившая 12 немецких штабов, 42 полицейских стана, освободившая из тюрьмы 420 человек, уничтожившая 6000 гитлеровцев.
Как называлась партизанская бригада? ***«за Родину»***

4. Партизанское движение на Брянщине имеет 4 периода:

Краткая характеристика каждого периода	**Временные отрезки**
Подбор и расстановка коммунистов для подпольной работы, создание партизанских отрядов и баз	***Июль - декабрь 1941***
Разгром вражеских войск под ***Москва,*** подъём населения на борьбу против оккупантов	***Декабрь 1941 – апрель 1942***
Создание чёткой структуры управления партизанским движением, которая в результате победы под ***Сталинградом***бурно развивается вширь и вглубь	***Апрель- сентябрь 1942***
Победа под ***Курском***, рельсовая война	***сентябрь 1942 – сентябрь 1943***

Линией соедините период и его временной отрезок.
Заполните пробелы.

5. Перечислите действовавшие аэродромы Брянского партизанского края?
Смелиж, Салтановка, Борок, Вздружное

6. Перечислите известные Вам группировки брянских партизан, какие административные районы входили в каждую группировку)
северный (Дятьковский)
южный (Навлинско-Суземский-Трубчевский)
юго-западный (Злынко-Климовско-Новозыбковский)
северо-западный (Клетнянский)

7. Что принято называть партизанским краем?

Это значительная территория полностью или частично освобождённая от немецких оккупантов и их ставленников, обороняемая и продолжительное время удерживаемая партизанскими отрядами, на которой восстановлена Советская власть со всеми органами управления.

Городская краеведческая игра «Город юный, город древний – 2016 год»

Наш город с каждым днем растет.
Каким он стал большим и новым!
…Не верится, что был он стерт
с лица земли в году суровом…
Мне он дороже стал вдвойне
С тех пор, как онемели пули:
За смерь, что принял на войне,
За жизнь, что мы ему вернули.

Как в майский день, вхожу в него.
Влечет меня от моста к мосту
Осанка гордая его и
белокаменная поступь.
Однажды прописавшись в нем,
Я, признаюсь, - его частица:
Прописан в сердце он моем,
покуда сердце будет биться.
(И.Швец «Покуда сердце будет биться»)

18 апреля во всём мире отмечается Международный день памятников и исторических мест. В городе Брянске много достопримечательных объектов, которые с детства знакомы каждому жителю, но все ли знают их историю? С целью знакомства с историческим прошлым родного города, приобщения подрастающего поколения к культурному и историческому наследию Брянщины, формирования устойчивой мотивации для занятий исследовательской, краеведческой деятельностью и музейным делом, в

городе Брянске проходит городская краеведческая игра «Город юный, город древний», ежегодно она проходит в одном из четырёх районов города. В этом году команды путешествовали по Советскому району, а старт игры дан с Театральной площади г. Брянска, куда собрались истинные ценители и знатоки истории нашего родного города. Те, кто умеет видеть за современными фасадами кладку старинных домов, а в суете улиц может представить себе цокот копыт по мостовой и скрип экипажей, господ, неспешно прогуливающихся с тросточкой и дам в кринолинах…

Наш город не перестает удивлять: открываются потаенные уголки, удивительные судьбы людей и зданий переплетаются в причудливом танце истории… А ведь еще 90 лет назад в городе не было ни асфальта, ни гранита, ни потока машин, ни суеты… Внизу, у самой Десны высился Собор Рождества Христова, а чуть южнее, на месте современной улицы Фокина, карабкалась вверх Комаровская улица, названная по имени купцов Комаровых …

Маршрут игры **«Брянск на рубеже веков»** проложен по карте 1906 г., необходимо не только узнать исторические объекты и здания по фотографиям из прошлого, но и сфотографироваться на их современном фоне и ответить на вопросы викторины, экспресс - опросника и краеведческого лото «Улица Калинина», а ещё придумать оригинальное название старинной настольной игре, которую демонстрировал Ю. М. Павлов - руководитель центра живой истории «Кветунь». По окончании маршрута, командам были представлены презентации мини-экскурсий по обзорным точкам исторического центра г. Брянска, которые провели победители конкурса текстов мини-экскурсий среди школьников г.Брянска.

Карта – схема маршрута

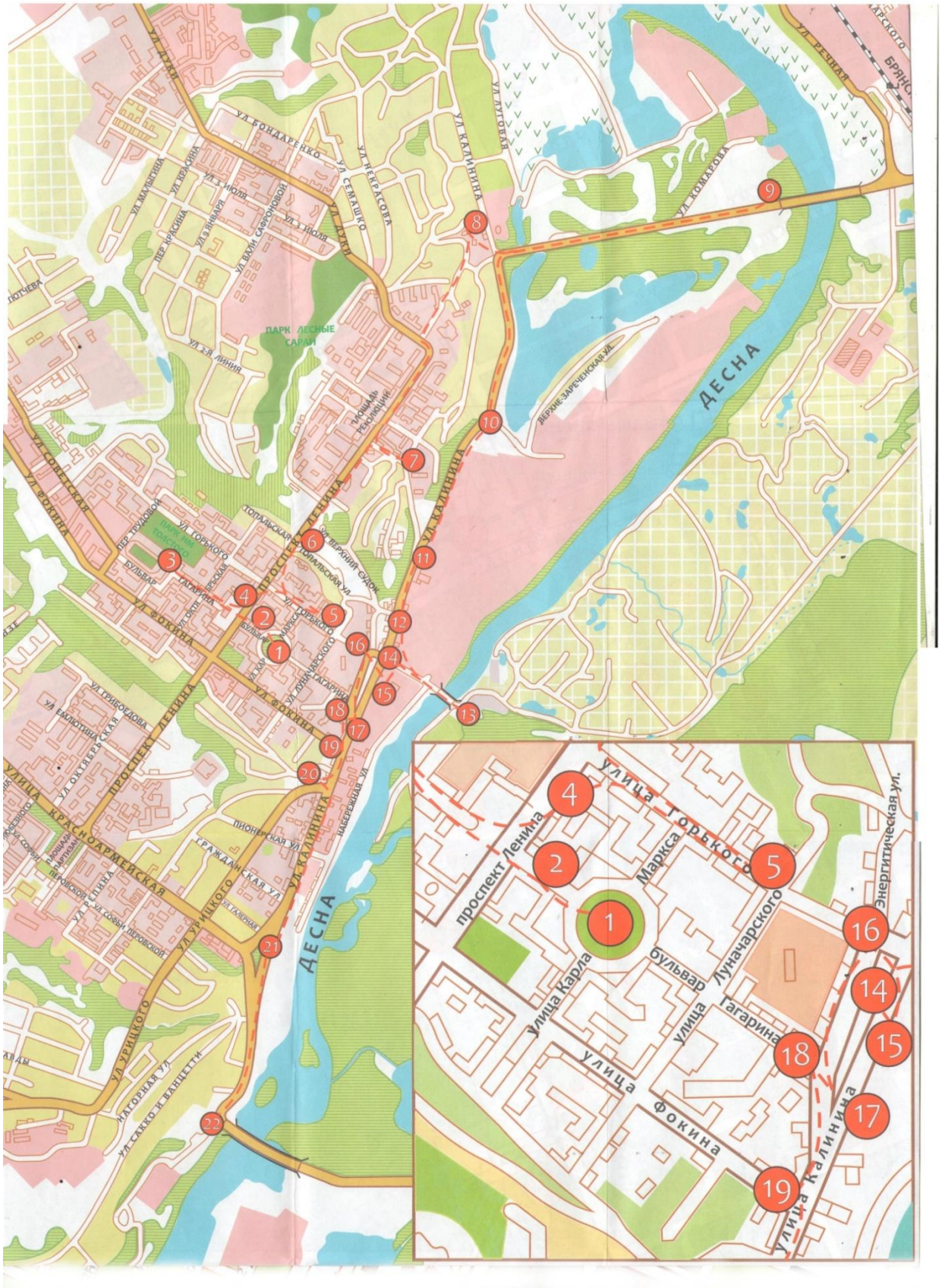

План города

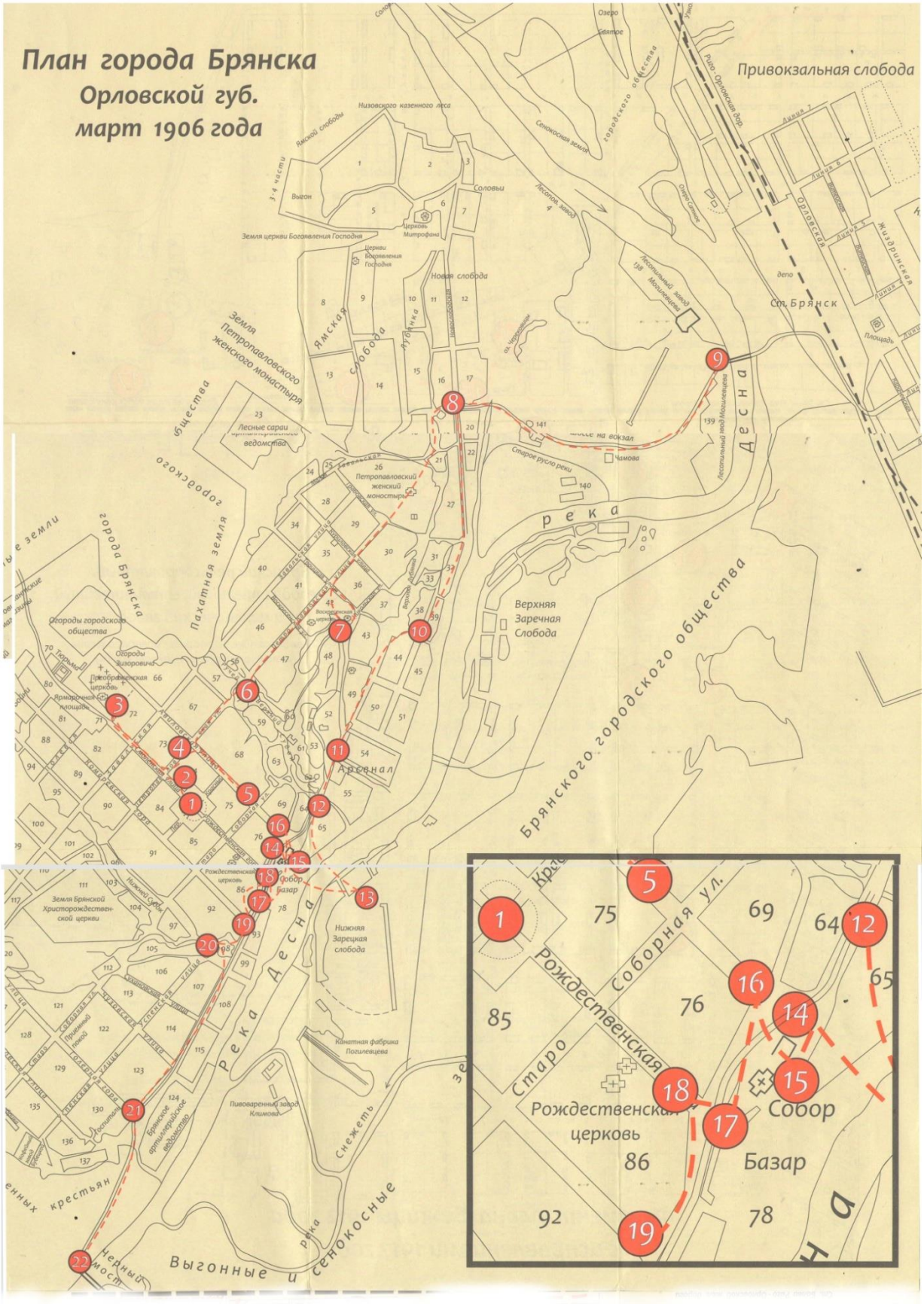
План города Брянска
Орловской губ.
март 1906 года
Привокзальная слобода
Ст. Брянск
Ямская слобода
Земля Петропавловского женского монастыря
Петропавловский женский монастырь
Верхняя Заречная Слобода
Брянского городского общества
Арсенал
Нижняя Зарецкая слобода
Рождественская церковь
Собор
Базар
Старо Соборная ул.
Рождественская
Выгонные и сенокосные
Черный мост
Снежеть
Рожденственская церковь
Собор
Базар

Экспресс-опросник команда_____

Памятные даты г.Брянска

1. 115 лет – назад в 1901г. начал свою деятельность:

А) Брянский спиртоводочный завод, ныне ООО «БрянскСпиртПром»;
Б) Брянский Арсенал, ныне завод Дорожных машин;
В) Красный Профинтерн, ныне БМЗ.

2. 14 апреля 1921г. (95 лет назад) постановлением Президиума ВЦИК:

А) присоединены поселки Володарский и Льговский к г. Брянску;
Б)утверждён герб города Брянска;
В)учреждён Брянский городской совет рабочих и крестьянских депутатов.

3. 22 июня 65 лет назад (1951г.) Указом Президиума Верховного Совета РСФСР

А) образован Советский район г. Брянска;
Б) п. Белые Берега вошёл в состав г.Брянска;
В) образован Бежицкий район.

4. 2 июня 1956г.(60 лет назад) Указом Президиума Верховного Совета РСФСР

А) города Брянск и Бежица объединены в один город Брянск;
Б) к городу Брянск присоединены поселки Володарский и Льговский;
В) образован Советский район г. Брянска.

Названия улиц

5. В честь кого названа улица Фокина в г. Брянске

А) Игната Фокина – революционера;
Б)А.И. Фокина – лётчика
В) Валерий Фокина – драматурга.

6. В честь какого события часть Советской улицы переименована в бульвар Гагарина

А) полёта Юрия Гагарина в космос;
Б) приезда Юрия Гагарина в Брянск;
В) смерти Юрия Гагарина.

7. В честь кого названа улица Калинина в г. Брянске

А) Михаил Калинин - советский государственный и партийный деятель;
Б) Дмитрий Калинин - лётчик – истребитель;
В) Юрий Калинин – академик, доктор технических наук.

8.Кем был Анатолий Луначарский, в его честь названа улица в г. Брянске

А) русский писатель, публицист, издатель и первый народный комиссар просвещения СССР;

Б)публицист, политический деятель, член ВКП(б), участник рабочего движения Польши, Германии.

В) деятель рабочего движения, в 1903 вступил в Социал-демократическую федерацию. По профессии учитель.

9.Кем был Карл Маркса, чьё имя носит Сквер

А)немецкийфилософ, социолог, экономист, писатель, поэт, политический журналист, общественный деятель;

Б) немецкий экономист, сформулировал закон о постоянном возрастании государственных потребностей;

В)революционер, советский политический и государственный деятель, создатель Российской социал-демократической рабочей партии.

Ответы Экспресс-опросника

Памятные даты г.Брянск

1. 115 лет – назад в 1901г. начал свою деятельность:

А)Брянский спиртоводочный завод, ныне ООО «БрянскСпиртПром»;

Б) Брянский Арсенал, ныне завод Дорожных машин;

В) Красный Профинтерн, ныне БМЗ.

2. 14 апреля 1921г. (95 лет назад) постановлением Президиума ВЦИК:

А) присоединены поселки Володарский и Льговский к г. Брянску;

Б)утверждён герб города Брянска;

В) учреждён Брянский городской совет рабочих и крестьянских депутатов.

3. 22 июня 65 лет назад (1951г.) Указом Президиума Верховного Совета РСФСР

А) образован Советский район г. Брянска;

Б) п. Белые Берега вошёл в состав г.Брянска;

В) образован Бежицкий район.

4. 2 июня 1956г.(60 лет назад) Указом Президиума Верховного Совета РСФСР

А) города Брянск и Бежица объединены в один город Брянск;

Б) к городу Брянск присоединены поселки Володарский и Льговский;

В)образован Советский район г. Брянска.

Названия улиц

5. В честь кого названа улица Фокина в г. Брянска
А) Игната Фокина – революционера;
Б)А.И. Фокина – лётчика
В) Валерий Фокин – драматург.

6. В честь какого события часть Советской улицы переименовано в бульвар Гагарина
А)полёта Юрия Гагарина в космос;
Б)приезда Юрия Гагарина в Брянск;
В) смерти Юрия Гагарина.

7. В честь кого названа улица Калинина в г. Брянска
А) Михаил Калинин - советский государственный и партийный деятель;
Б)Дмитрий Калинин -лётчик – истребитель;
В) Юрий Калинин – академик, доктор технических наук.

8.Кем был Анатолий Луночарский, в его честь названа улица в г. Брянска
А) русский писатель, публицист, издатель и первый народный комиссар просвещения СССР;
Б) публицист, политический деятель. Член ВКП(б). Участвовал в рабочем движении Польши, Германии, а после Февральской революции …..
В) деятель рабочего движения. По профессии учитель. В 1903 вступил в Социал-демократическую федерацию….

9.Кем был Карл Маркса, чьё имя носит Сквер
А)немецкийфилософ, социолог, экономист, писатель, поэт, политический журналист, общественный деятель;
Б) немецкий экономист, сформулировал закон о постоянном возрастании государственных потребностей;
В)революционер, советский политический и государственный деятель, создатель Российской социал-демократической рабочей партии.

1 КРАСНАЯ ПЛОЩАДЬ

Вопрос: Какое название это место носит сейчас?

Ответ: _____

Вопрос: В каком году и каким императором (или императрицей) был утвержден «регулярный план» застройки города, на котором появилась Красная площадь.

Ответ: _____

1.1. ЖЕНСКАЯ ГИМНАЗИЯ **Вопрос:** Кто архитектор этого здания? В каком году оно было построено? **Ответ** _____ _____ _____ **85 – номера кварталов на плане 1906 г.**	**Задание:** фото на фоне мемориальной доски меценатам. 
1.2. ОБЩЕСТВЕННОЕ СОБРАНИЕ **Вопрос:** Что находится на месте этого зданиясейчас? **Ответ:** _____ _____ _____ **84**	**Задание:** фото на фоне мемориальной доски с барельефом архитектора современного здания.
1.3. САД ОБЩЕСТВЕННОГО СОБРАНИЯ **Вопрос:** Что находится на его территории сейчас? **Ответ:** _____ _____ **84**	**Задание:** фото на фоне каменных зверей.

1.4. ОРЛОВСКИЙ КОММЕРЧЕСКИЙ БАНК **Вопрос:** Что находилось на месте этого зданияв 50е годы? **Ответ:** _____ _____ _____ **85**	**Задание:** фото на фоне памятной таблички с фамилией архитектора современного здания. 
1.5. САД НАРОДНОЙ ТРЕЗВОСТИ **Вопрос:** Что находится на его территории сейчас? **Ответ:** _____ _____ **Подсказка:** в 1920х здесь было выстроено здание по проекту архитектора А.З. Гинзбурга. Оно сохранилось без портика и балкона над главным входом. **74**	**Задание:** фото на фоне современного здания.
1.6. ВИННЫЙ СКЛАД **Вопрос:** Что находится на его территории сейчас? **Ответ:** _____ _____ _____ **75**	**Задание:** фото на фоне объекта У памятной таблички.

2 СМОЛЕНСКАЯ УЛИЦА

Вопрос: Какое название эта улица носит сейчас?

Ответ: _____

Вопрос: Как в начале XX века ее называли горожане?

Ответ: _____

2.1. ГОРОДСКАЯ УПРАВА	**Задание:** фото на фоне входа в современное здание.
Вопрос: Что находится на месте этого зданиясейчас? **Ответ:** _____ _____ _____ **Подсказка:** в 1950х здесь было выстроено здание по проекту архитектора А.А. Саломахина. **84**	

3 ПОЛЕВАЯ (ЩЕПНАЯ, СЕННАЯ, ЯРМОРОЧНАЯ) ПЛОЩАДЬ

В ознаменование, каких событий была построена расположенная здесь церковь?

Ответ: _____

Вопрос: Какое название она носит сейчас?

Ответ: _____

Задание: фото на фоне объекта. **71**

4 ПЕТРОПАВЛОВСКАЯ УЛИЦА

Вопрос: Какое название эта улица носит сейчас?

Ответ: _____

4.1. ОСОБНЯК МОГИЛЕВЦЕВЫХ

Вопрос: Как сейчас называется место, на котором располагался особняк?

Ответ: _____

_____

_____

Подсказка: в 1928 году рядом с особняком было построено здание по проекту архитектора
А.З. Гринберга.
Обойдите здание по часовой стрелке, чтобы найти табличку.
83

Задание: фото на фоне памятной таблички с фамилией архитектора современного здания (А.З. Гринберга).

4.2. ТЕХНИЧЕСКОЕ УЧИЛИЩЕ

Вопрос: Что находится на месте этого зданиясейчас?

Ответ: _____

_____

_____

Подсказка: В годы войны здание сильно пострадало.В 1964 году на его месте было построено здание, название которого известно каждому брянцу. **73**

Задание: фото на фоне современного здания.

5 АВИЛОВСКАЯ УЛИЦА

Вопрос: Какое название эта улица носит сейчас?

Ответ: _____

5.1. РОДИЛЬНЫЙ ПРИЮТ **Вопрос:** Что находится на месте этого зданиясейчас? **Ответ:** _____ _____ **Подсказка:** В годы войны здание было разрушено. Теперь здесь учреждение, с которым связана трудовая деятельность ученого с мировым именем. **68**	**Задание:** фото на фоне мемориальной доски с портретом человека, имя которого носит это учреждение.

6 ТОПОЛЬСКАЯ УЛИЦА

Вопрос: Какое название эта улица носит сейчас?

Ответ: _____

6.1. ВЕРХНИЙ СУДОК **Вопрос:** В каком году было открыто автомобильное движение по мосту через Верхний Судок? **Ответ:** _____ _____ _____ **Подсказка:** В 60х годах мост через Верхний Судок был заменен дамбой. **58/47**	**Задание:** фото на дамбе Верхнего Судка на фоне Кафедрального Собора. 

7 ПОКРОВСКАЯ И ПЕТРОВСКАЯ ГОРЫ

Вопрос: Какое название сейчас носит улица Никольская, проходящая между Петровской и Покровской горами?

Ответ: _____

7.1. ВОСКРЕСЕНСКАЯ ЦЕРКОВЬ **Вопрос:** В каком году каменная церковь Воскресения Христова была освящена? **Ответ:** _____ _____ _____ **Подсказка:** Церковь была заложена в 1739 году. **42**	**Задание:** фото на фоне храма.
7.2. ГОРНО-НИКОЛЬСКАЯ ЦЕРКОВЬ **Вопрос:** В каком году Горно-Никольская церковь была построена? **Ответ:** _____ **42**	**Задание:** фото на фоне храма.
7.3. ДОМ ЛЕСОПРОМЫШЛЕННИКА АВРААМОВА **Вопрос:** Что сейчас находится в этом здании? **Ответ:** _____ _____ _____ **42/43**	**Задание:** фото на фоне дома.

7.2. КАЗАРМА ДОРОГОБУЖСКОГО ПОЛКА **Вопрос:** Что находится в этом здании сейчас? **Ответ:** _____ _____ **42**	
7.5. ХРАМ ПОКРОВА ПРЕСВЯТОЙ БОГОРОДИЦЫ **Вопрос:** В каком году Церковь Покрова была построена? **Ответ:** _____ **42**	**Задание:** фото на фоне храма.
7.6. ДОМ ВЫСОЧАНСКОГО **Вопрос:** Какой знаменитый русский писатель был племянником генерал-директора завода «Арсенал»? **42** **Ответ:** _____ _____	**Задание:** фото на фоне здания.
7.7. ГОРОДИЩЕ НА ПОКРОВСКОЙ ГОРЕ **Вопрос:** В каком веке на высоком мысу Покровской горы появилось укрепленное городище? **Ответ:** _____ **42**	**Задание:** фото на фоне памятника 1000-летию Брянска.

12 БРЯНСКИЙ АРСЕНАЛ

Вопрос: Указом какого императора (императрицы) генерал-поручику И.И. Миллеру было предписано начать в Брянске строительство литейного двора?

Ответ: _____

12.1. ЛИТЕЙНЫЙ ДОМ «АРСЕНАЛА» **Вопрос:** В каком веке был построен этот Литейный дом? **Ответ:**_____ **54**	**Задание:** фото на фоне здания. 

13 РЕКА ДЕСНА

13.1. ПАРОХОДНАЯ ПРИСТАНЬ **Вопрос:** Как назывались первые пароходы, курсировавшие по Десне в конце XIX века? **Ответ:**_____	**Задание:** фото на понтонном мосту на фоне города.

14 МОСКОВСКАЯ УЛИЦА ДО СОБОРА

(см. увеличенный фрагмент карты 1906 года)

14.1. ДОХОДНЫЙ ДОМ КУПЦА ВЯЗЬМИТИНА **Вопрос:** В каких годах был построен доходный дом? **Ответ:** _____ **65**	**Задание:** фото на фоне таблички с датами постройки.

15 СПАСО-ПОЛИКАРПОВ МОНАСТЫРЬ
(см. увеличенный фрагмент карты 1906 года)

15.1. НОВО-ПОКРОВСКИЙ СОБОР

Вопрос: На чьи средства был построен собор, взорванный в 1968 году?

Ответ: _____

_____

_____

Задание: фото на фоне Свято-Покровской часовни.

16 АВИЛОВСКАЯ ГОРА
(см. увеличенный фрагмент карты 1906 года)

16.1. КУПЕЧЕСКОЕ ПОДВОРЬЕ

Вопрос: Как назывался квартал (у подножия Авиловской горы), состоящий из торговых и жилых домов с лавками?

64

Ответ:_____

_____

Задание: фото на фоне здания.

16.2. ПЕРВАЯ ЭЛЕКТРОСТАНЦИЯ

Вопрос: В каком году в Лысницком переулке в Брянске была построена электростанция.

Ответ: _____ **69**

Подсказка: ориентируйтесь по названию улиц и ЛЭП.

Задание: фото на фоне здания.

16.3. ДОМ СВЯЩЕННОСЛУЖИТЕЛЯ **Вопрос:** Кто жил в этом доме. **Ответ:** _____ _____ **69** **Подсказка:** обратите внимание на старую табличку с названием улицы.	**Задание:** фото таблички с именем священнослужителя.

17 СОБОРНАЯ (БАЗАРНАЯ) ПЛОЩАДЬ
(см. увеличенный фрагмент карты 1906 года)

Вопрос: Какое название это место носит сейчас?

Ответ: _____

17.1. СОБОРНАЯ ПЛОЩАДЬ **Вопрос:** В честь какого события состоялся парад войск 14 мая 1911 года на Соборной площади в Брянске? 78 **Ответ:** _____ _____	**Задание:** фото на фоне центрального объекта площади. 

18 РОЖДЕСТВЕНСКАЯ ГОРА
(см. увеличенный фрагмент карты 1906 года)

Вопрос: Какое название это место носит сейчас?

Ответ: _____

18.1. РОЖДЕСТВЕНСКАЯ ГОРА **Вопрос:** Какое название носил храм, построенный на Рождественской горе в 1823 году? **Ответ:** _____ _____	**Задание:** фото с видом на Рождественскую гору.

РОЖДЕСТВЕНСКАЯ ГОРА

БОНУСНОЕ ЗАДАНИЕ «УТЕРЯНОЕ НАСЛЕДИЕ»

Задание: Найдите на улице указанные здания, оцените их состояние, поставив **+ или -**

1. Дом №6 (2я пол. 19 в.). Двухэтажный особняк инженера-технолога завода «Арсенал» Л.А. Боровича, автора проекта дамбы через Верхний судок.

1. Наличие мемориальной таблички ☐
2. Наличие кровли ☐
3. Наличие остекления ☐
4. Облагорожен фасад ☐
5. Возможность включения объекта в экскурсионую программу ☐

2.Дом №8 (конец 18 в.) Дом благотворителей Чулковых, на средства которых был отремонтирован храм на Рождественской горе.

1. Наличие мемориальной таблички ☐
2. Наличие кровли ☐
3. Наличие остекления ☐
4. Облагорожен фасад ☐
5. Возможность включения объекта в экскурсионую программу ☐

3.Дом №12 (конец 18 в.) Усадьба доктора Н.С. Полянского инициатора строительства в Брянске родильного приюта.

1. Наличие мемориальной таблички ☐
2. Наличие кровли ☐
3. Наличие остекления ☐
4. Облагорожен фасад ☐
5. Возможность включения объекта в экскурсионую программу ☐

18-19 МОСКОВСКАЯ УЛИЦА ПОСЛЕ СОБОРА
(см. увеличенный фрагмент карты 1906 года)

18-19.1. ДОХОДНЫЙ ДОМ

Вопрос: В каком веке был построен доходный дом?

Ответ: _____

86

Задание: фото на фоне здания.

18-19.2. МУЖСКАЯ ПРОГИМНАЗИЯ

Вопрос: В какой период в прогимназии преподавал великий философ, писатель и публицист В.В. Розанов?

Ответ:_____

86

Задание: фото на фоне мемориальной доски философу.

19 КОМАРОВСКАЯ ГОРА
(см. увеличенный фрагмент карты 1906 года)

Вопрос: Какое название это место носит сейчас?

Ответ: _____

19.1. ТАМОЖНЯ

Вопрос: По указу какого правителя в Брянске была создана таможня?

Ответ: _____

84

Задание: фото на фоне мемориальной доски.

1 КРАСНАЯ ПЛОЩАДЬ (Ответы)

Вопрос: Какое название это место носит сейчас?

Ответ:<u>сквер (площадь) Карла Маркса</u>.

Вопрос: В каком году и каким императором (или императрицей) был утвержден «регулярный план» застройки города, на котором появилась Красная площадь.

Ответ:<u>в 1780, Екатерина II.</u>

1.1. ЖЕНСКАЯ ГИМНАЗИЯ **Вопрос:** Кто архитектор этого здания? В каком году оно было построено? **<u>Ответ Н.А. Лебедев, 1907.</u>** **85 – номера кварталов на плане 1906 г.**	**Задание:** фото на фоне мемориальной доски меценатам.
1.2. ОБЩЕСТВЕННОЕ СОБРАНИЕ **Вопрос:** Что находится на месте этого зданиясейчас? **Ответ:**<u>Брянская областная библиотека.</u> **84**	**Задание:** фото на фоне мемориальной доски с барельефом архитектора современного здания.
1.3. САД ОБЩЕСТВЕННОГО СОБРАНИЯ **Вопрос:** Что находится на его территории сейчас? **Ответ:**<u>Сквер Тютчева.</u> **84**	**Задание:** фото на фоне каменных зверей.

1.4. ОРЛОВСКИЙ КОММЕРЧЕСКИЙ БАНК **Вопрос:** Что находилось на месте этого зданияв 50е годы? **Ответ:**Брянский Обком КПСС. **85**	**Задание:** фото на фоне памятной таблички с фамилией архитектора современного здания.
1.5. САД НАРОДНОЙ ТРЕЗВОСТИ **Вопрос:** Что находится на его территории сейчас? **Ответ:**Поликлиника №4. **Подсказка:** в 1920х здесь было выстроено здание по проекту архитектора А.З. Гинзбурга. Оно сохранилось без портика и балкона над главным входом.**74**	**Задание:** фото на фоне современного здания.
1.6. ВИННЫЙ СКЛАД **Вопрос:** Что находится на его территории сейчас? **Ответ:** «Брянскспиртпром». **75** 	**Задание:** фото на фоне объекта У памятной таблички.

2 СМОЛЕНСКАЯ УЛИЦА

Вопрос: Какое название это место носит сейчас?

Ответ:Бульвар Гагарина.

Вопрос: Как в начале XX века ее называли горожане?

Ответ:Городской бульвар.

2.1. ГОРОДСКАЯ УПРАВА **Вопрос:** Что находится на месте этого зданиясейчас? **Ответ:Гостиница «Центральная».** **Подсказка:** в 1950х здесь было выстроено здание по проекту архитектора А.А. Саломахина. **84**	**Задание:** фото на фоне входа в современное здание. 

3 ПОЛЕВАЯ (ЩЕПНАЯ, СЕННАЯ, ЯРМОРОЧНАЯ) ПЛОЩАДЬ

Вопрос: В ознаменование, каких событий была построена расположенная здесь церковь?

Ответ: в честь приезда Петра I и Александра I

Вопрос: Какое название она носит сейчас?

Ответ:Храм Рождества Пресвятой Богородицы.

Задание: фото на фоне объекта. **71**





4 ПЕТРОПАВЛОВСКАЯ УЛИЦА

Вопрос: Какое название эта улица носит сейчас?

Ответ:Проспект Ленина.

4.1. ОСОБНЯК МОГИЛЕВЦЕВЫХ **Вопрос:** Как сейчас называется место, на котором располагался особняк? **Ответ: Площадь Ленина (Проспект Ленина)** **Подсказка:** в 1928 году рядом с особняком было построено здание по проекту архитектора А.З. Гринберга. **83**	**Задание:** фото на фоне памятной таблички с фамилией архитектора современного здания.
4.2. ТЕХНИЧЕСКОЕ УЧИЛИЩЕ **Вопрос:** Что находится на месте этого зданиясейчас? **Ответ:Гостиница «Десна».** **Подсказка:** В годы войны здание сильно пострадало.В 1964 году на его месте было построено здание, название которого известно каждому брянцу. **73**	**Задание:** фото на фоне современного здания.

5 АВИЛОВСКАЯ УЛИЦА

Вопрос: Какое название эта улица носит сейчас?

Ответ:Улица Горького.

5.1. РОДИЛЬНЫЙ ПРИЮТ **Вопрос:** Что находится на месте этого зданиясейчас? **Ответ:Брянский медицинский техникум имени Н.М. Амосова.** **Подсказка:** В годы войны здание было разрушено. Теперь здесь учреждение, с которым связана трудовая деятельность ученого с мировым именем. **68**	**Задание:** фото на фоне мемориальной доски с портретом человека имя, которого носит это учреждение. 

6 ТОПОЛЬСКАЯ УЛИЦА

Вопрос: Какое название эта улица носит сейчас?

Ответ:Топальская.

6.1. ВЕРХНИЙ СУДОК **Вопрос:** В каком году было открыто автомобильное движение по мосту через Верхний Судок? **Ответ:В 1946.** **Подсказка:** В 60х годах мост через Верхний Судок был заменен дамбой. **58/47**	**Задание:** фото на дамбе Верхнего Судка на фоне Кафедрального Собора.

7 ПОКРОВСКАЯ И ПЕТРОВСКАЯ ГОРЫ

Вопрос: Какое название сейчас носит улица Никольская, проходящая между Петровской и Покровской горами?

Ответ:Арсенальная.

7.1. ВОСКРЕСЕНСКАЯ ЦЕРКОВЬ **Вопрос:** В каком году каменная церковь Воскресения Христова была освящена? **Ответ:1741** **Подсказка:** Церковь была заложена в 1739 году. **42**	**Задание:** фото на фоне храма. 
7.2. ГОРНО-НИКОЛЬСКАЯ ЦЕРКОВЬ **Вопрос:** В каком году Горно-Никольская церковь была построена? **Ответ:1751** **42**	**Задание:** фото на фоне храма.
7.3. ДОМ ЛЕСОПРОМЫШЛЕННИКА АВРААМОВА **Вопрос:** Что сейчас находится в этом здании? **Ответ:резиденция брянского митрополита.42/43**	**Задание:** фото на фоне здания.

7.4. КАЗАРМА ДОРОГОБУЖСКОГО ПОЛКА **Вопрос:** Что находится в этом здании сейчас? **Ответ: <u>епархия, духовное училище</u>42**	
7.5. ХРАМ ПОКРОВА ПРЕСВЯТОЙ БОГОРОДИЦЫ **Вопрос:** В каком году Церковь Покрова была построена? **Ответ:<u>1626</u>** **42**	**Задание:** фото на фоне храма. 
7.6. ДОМ ВЫСОЧАНСКОГО **Вопрос:** Какой знаменитый русский писатель был племянником генерал-директора завода «Арсенал»? **Ответ:<u>Константин Паустовский</u>** **42**	**Задание:** фото на фоне здания.
7.7.ГОРОДИЩЕ НА ПОКРОВСКОЙ ГОРЕ **Вопрос:** В каком веке на высоком мысу Покровской горы появилось укрепленное городище? **Ответ: <u>XII</u>** **42**	**Задание:** фото на фоне памятника 1000-летию Брянска.

12 БРЯНСКИЙ АРСЕНАЛ

Вопрос: Указом какого императора (императрицы) генерал-поручику И.И. Миллеру было предписано начать в Брянске строительство литейного двора?

Ответ:Екатерины II.

12.1. ЛИТЕЙНЫЙ ДОМ «АРСЕНАЛА» **Вопрос:** В каком веке был построен этот Литейный дом? **Ответ:XVIII** **54**	**Задание:** фото на фоне здания.

13 РЕКА ДЕСНА

13.1. ПАРОХОДНАЯ ПРИСТАНЬ **Вопрос:** Как назывались первые пароходы, курсировавшие по Десне в конце XIX века? **Ответ:«Вера» и «Надежда».**	**Задание:** фото на понтонном мосту на фоне города. 

14 МОСКОВСКАЯ УЛИЦА ДО СОБОРА

(см. увеличенный фрагмент карты 1906 года)

14.1. ДОХОДНЫЙ ДОМ КУПЦА ВЯЗЬМИТИНА **Вопрос:** В каких годах был построен доходный дом? **Ответ:1860 - 1870** **65**	**Задание:** фото на фоне таблички с датами постройки.

15 СПАСО-ПОЛИКАРПОВ МОНАСТЫРЬ

(см. увеличенный фрагмент карты 1906 года)

15.1. НОВО-ПОКРОВСКИЙ СОБОР **Вопрос:** На чьи средства был построен собор, взорванный в 1968 году? **Ответ:<u>На средства купца Вязьмитина и на народные пожертвования.</u>**	**Задание:** фото на фоне Свято-Покровской часовни. 

16 АВИЛОВСКАЯ ГОРА

(см. увеличенный фрагмент карты 1906 года)

16.1. КУПЕЧЕСКОЕ ПОДВОРЬЕ **Вопрос:** Как назывался квартал (у подножия Авиловской горы), состоящий из торговых и жилых домов с лавками? **Ответ:<u>«Мясные ряды».</u>64**	**Задание:** фото на фоне здания.
16.2 ПЕРВАЯ ЭЛЕКТРОСТАНЦИЯ **Вопрос:** В каком году в Лысницком переулке в Брянске была построена электростанция. **Ответ: <u>1916</u>** **Подсказка:** ориентируйтесь по названию улиц и ЛЭП. **69**	**Задание:** фото на фоне здания. 
16.3. ДОМ СВЯЩЕННОСЛУЖИТЕЛЯ **Вопрос:** Кто **жил в этом доме.** **Ответ: <u>Игумен Илларинон Некрасов</u>** **69** **Подсказка:** обратите внимание на старую табличку с названием улицы.	**Задание:** фото таблички с именем священнослужителя.

17 СОБОРНАЯ (БАЗАРНАЯ) ПЛОЩАДЬ
(см. увеличенный фрагмент карты 1906 года)

Вопрос: Какое название это место носит сейчас?

Ответ:Славянская площадь.

17.1. СОБОРНАЯ ПЛОЩАДЬ **Вопрос:** В честь какого события состоялся парад войск 14 мая 1911 года на Соборной площади в Брянске? **78** **Ответ:Коронации императораНиколая II и его супруги.**	**Задание:** фото на фоне центрального объекта площади.

18 РОЖДЕСТВЕНСКАЯ ГОРА
(см. увеличенный фрагмент карты 1906 года)

Вопрос: Какое название это место носит сейчас?

Ответ:Бульвар Гагарина

18.1. РОЖДЕСТВЕНСКАЯ ГОРА **Вопрос:** Какое название носил храм, построенный на Рождественской горе в 1823 году? **Ответ:Храм Рождества Христова**	**Задание:** фото с видом на Рождественскую гору.

РОЖДЕСТВЕНСКАЯ ГОРА

БОНУСНОЕ ЗАДАНИЕ «УТЕРЯНОЕ НАСЛЕДИЕ»
Задание: Найдите на улице указанные здания, оцените их состояние, поставив **+ или -**
1. Дом №6 (2я пол. 19 в.). Двухэтажный особняк инженера-технолога завода «Арсенал» Л.А. Боровича, автора проекта дамбы через Верхний судок.

	1. Наличие мемориальной таблички ☐ **2. Наличие кровли ☐** **3. Наличие остекления ☐** **4. Облагорожен фасад ☐** **5. Возможность включения объекта в экскурсионую программу ☐**
2.Дом №8 (конец 18 в.) Дом благотворителей Чулковых, на средства которых был отремонтирован храм на Рождественской горе.	
	1. Наличие мемориальной таблички ☐ **2. Наличие кровли ☐** **3. Наличие остекления ☐** **4. Облагорожен фасад ☐** **5. Возможность включения объекта в экскурсионую программу ☐**
3.Дом №12 (конец 18 в.) Усадьба доктора Н.С. Полянского инициатора строительства в Брянске родильного приюта.	
	1. Наличие мемориальной таблички ☐ **2. Наличие кровли ☐** **3. Наличие остекления ☐** **4. Облагорожен фасад ☐** **5. Возможность включения объекта в экскурсионую программу ☐**

18-19

МОСКОВСКАЯ УЛИЦА ПОСЛЕ СОБОРА
(см. увеличенный фрагмент карты 1906 года)

18-19.1. ДОХОДНЫЙ ДОМ **Вопрос:** В каком веке был построен доходный дом? **Ответ:XIX** **86**	**Задание:** фото на фоне здания.
18-19.2. МУЖСКАЯ ПРОГИМНАЗИЯ **Вопрос:** В какой период в прогимназии преподавал великий философ, писатель и публицист В.В. Розанов? **Ответ:1882-1887** **86**	**Задание:** фото на фоне мемориальной доски философу. 

19

КОМАРОВСКАЯ ГОРА
(см. увеличенный фрагмент карты 1906 года)

Вопрос: Какое название это место носит сейчас?

Ответ:улица Фокина

19.1. ТАМОЖНЯ **Вопрос:** По указу какого правителя в Брянске была создана таможня? **Ответ:Петра I** **84**	**Задание:** фото на фоне мемориальной доски.

Лото для команд

ЦЕРКОВЬ НИЖНИЯ НИКОЛА (Нижненикольская церковь) ул. Московская 10	Фото здания на рубеже веков	Что сейчас на этом месте?	Современное фото
Что за здание в конце улицы на снимке	 37	Что сейчас на этом месте	Современное фото
Что за здание на снимке	 35	Что сейчас на этом месте	Современное фото
Что за здание на снимке	Фото здания на рубеже веков	Что сейчас на этом месте	 81

ТОРГОВАЯ ШКОЛА Здание торговой школы было построено в начале XX и носила имя Семена Васильевича Могилевцева – отца меценатов Семена и Павла Могилевцевых. 13	Фото здания на рубеже веков	Что сейчас на этом месте	Современное фото
Что за здание на снимке	30	Что сейчас на этом месте	Современное фото
Что располагалось в этом месте на рубеже веков	Фото здания на рубеже веков	ДОМ КУЛЬТУРЫ СОВЕТСКОГО РАЙОНА (ул. Калинина 66) 51	Современное фото
КОМАРОВСКАЯ ГОРА Комаровская гора именовалась так же 01 Комаревской так как на ней проживали купцы Комаревы (более старый род) и Комаровы (род, появившийся в XIX веке).	Фото общего вида Комаровской горы на рубеже веков	Как называется эта улица сейчас	Современное фото

Кому памятник и где он располагался на рубеже веков	23	**Какой памятник сейчас находитмя на его месте, как называется данное место**	**Современное фото**
Что изображено на снимке	28	**Современное название места на снимке**	**Современное фото**
ДОХОДНЫЙ ДОМ КУПЦА Н.А. ВЯЗЬМИТИНА. **В 1907 году в здании была открыта мужская гимназия, в которой учился русский писа** К. Паустовский. 03	**Фото здания на рубеже веков**	Что сейчас на этом месте	**Современное фото**
Что находилось на этом месте на рубеже веков	39	Что сейчас на этом месте	**Современное фото**

Лото в полная версия (ответы)

ЦЕРКОВЬ НИЖНЯЯ НИКОЛА (Нижненикольская церковь) ул. Московская 10	24	УЛ. КАЛИНИНА, Д 81 (перекресток с ул. Урицкого) 78	54
НОВОПОКРОВСКИЙ СОБОР (Вид с ул. Московской) официально — Покровский собор; центральный городской собор города Брянска конца XIX — начала XX века. 19	37	ВИД НА УЛ. КАЛИНИНА с перекрестка с ул. Фокина 74	97
ЖЕНСКОЕ УЧИЛИЩЕ Построено по просьбе Могилевцевых. Меценатам очень нравился его особый стиль. Построил архитектор Николай Лебедев. 07	35	БРЯНСКИЙ УЧЕБНО-МЕТОДИЧЕСКИЙ ЦЕНТР ДОПОЛНИТЕЛЬНОГО ПРОФЕССИОНАЛЬНОГО ОБРАЗОВАНИЯ (ул. Калинина, 221) 71	84
ДОМ ЖИЛОЙ УТНИКОВА П. С. Утников В 1807 году он стал главой города Брянска. Дом возведен на рубеже XVIII – XIX веков в стиле раннего классицизма. 15	27	МАГАЗИН «ПРОДУКТЫ» (ул. Калинина, 219) 69	81

ТОРГОВАЯ ШКОЛА Здание торговой школы было построено в начале XX и носила имя Семена Васильевича Могилевцева – отца меценатов Семена и Павла Могилевцевых. 13	 21	БРЯНСКИЙ ОБЛАСТНОЙ НАРКОЛОГИЧЕСКИЙ ДИСПАНСЕР (ул. Калинина, 177) 75	 93
Андроновское подворье: гостиница, доходные дома с магазинами 04	 30	ДОМА ПО УЛ. КАЛИНИНА(85-87) 65	 87
КАЗЕННАЯ МУЖСКАЯ ГИМНАЗИЯ Гимназия была построена братьями Могилевцевыми в 1913 году напротив Успенской церкви и Павловского парка. Архитектор здания Н. А. Лебедев. 17	 25	ДОМ КУЛЬТУРЫ СОВЕТСКОГО РАЙОНА (ул. Калинина 66) 51	 80
КОМАРОВСКАЯ ГОРА Комаровская гора именовалась так же Комаревской так как на ней проживали купцы Комаревы (более старый род) и Комаровы (род, появившийся в XIX веке). 01	 29	УЛИЦА ФОКИНА (вид с ул. Калинина) 64	 90

ПАВЛОВСКИЙ СКВЕР В 1915 году в Павловском сквере был установлен памятник меценату Павлу Семеновичу Могилевцеву. 16	 23	СКВЕР КРАВЦОВА Памятник командиру городского партизанского отряда Дмитрию Ефимовичу Кравцову 73	 83
ОБЩИЙ ВИД НА НАБЕРЕЖНУЮ 18	 28	СЛАВЯНСКАЯ ПЛОЩАДЬ 77	 85
ДОХОДНЫЙ ДОМ КУПЦА Н.А. ВЯЗЬМИТИНА. В 1907 году в здании была открыта мужская гимназия, в которой учился русский писатель К. Паустовск 03	 34	АДМИНИСТРАТИВНОЕ ЗДАНИЕ ул. Калинина, 84 61	 99
ЛАВКА «КОМАРЕВ И СЫНОВЬЯ» (наводнение 1908 г.) 05	 39	ТОРГОВЫЕ ЗДАНИЯ И кафе Дебрянск (ул. Калинина 93-97) 59	 95

Городская краеведческая игра «Город юный, город древний – 2017 год»

карта-схема маршрута

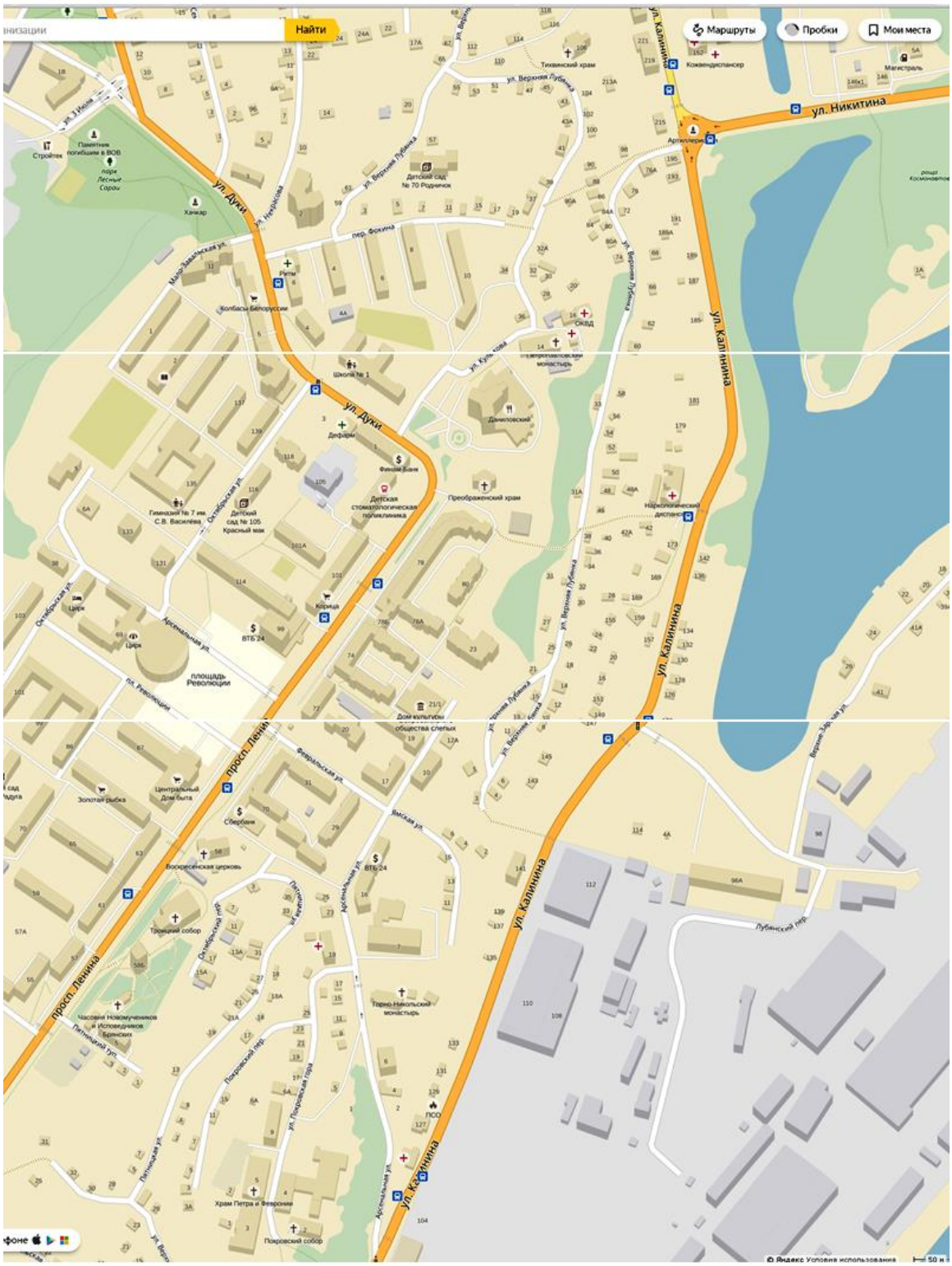

«Опросник на старте» краеведческого маршрута «Брянск православный»

Выберите только один из предложенных вариантов ответа

1. Как зовут правящего епископа (владыку) Брянского и Севского?

А)Алексей

Б)Александр

В)Леонид

2. Что такое омофор?

А) Покров Пресвятой Богородицы

Б) Сосуд для хранения ладана

В) Часть божественной литургии

3. Чем собор отличается от церкви?

А) В соборе обязательно находится несколько престолов, а в церкви – чаще один престол

Б) Богослужение в соборе совершается духовенством разных храмов, а в церкви – свой священник (настоятель)

В) Собор – это главный храм большого города или главный храм в монастыре

Г) Все перечисленные варианты

4. Православный праздник День Святой Троицы установлен в честь:

А) Вознесения Господа нашего Иисуса Христа на небеса

Б) Сошествия Святого духа на апостолов

В) Дарования Моисею Господом скрижалей с законами

Брянское православное краеведение:

5. Как назывался Собор, возведенный в 1891 году на средства городского главы Н.А. Вязьмитина на месте старинной церкви Спасо-Поликарпова монастыря?

А) Новопокровский (в честь Покрова Пресвятой Богородицы)

Б) Преображенский (в честь Преображения Господня)

В) Троицкий (в честь Святой Живоначальной Троицы)

6. Назовите имя замечательного брянского архитектора, занимавшегося реставрацией Тихвинской церкви и Воскресенского собора в 80-90-е годы 20 века

А) Николай Андреевич Лебедев

Б) Василий Николаевич Городков

В)Александр Зиновьевич Гринберг

7. Как называется Святой источник у подножия Карачижской горы, над которым в 19 веке была возведена часовня из красного кирпича, ныне не сохранившаяся.

А) Святая Криница

Б) Благодать

В) Подарь

Г) Карачижский

8. Эта утраченная в 1970-ом году церковь располагалась на улице Московской (Калинина) напротив городского сквера «Павловский парк» (ныне сквер Кравцова).

А) Церковь всех Святых Воинов

Б) Церковь Иоанна Воина

В Никола Нижний (Храм в честь Успения Пресвятой Богородицы)

9. И в наши дни при входе в парк им. А.К.Толстого нас встречает Церковь Рождества Пресвятой Богородицы, построенная в 1827 году тогда еще на Сенной (Полевой) площади. Для каких целей (в основном) была построена и использовалась эта церковь в 19 веке?

А) для крещений и венчаний

Б) для проведения панихид на кладбище

Правильные ответы:

1б, 2а, 3г, 4б, 5а, 6б, 7в, 8в, 9б

Образовательное учреждение _____Команда_____

Задания по краеведческому маршруту «Брянск православный»

Максимальное количество баллов на краеведческом маршруте- 257 баллов

Введенская церковь Петропавловского женского монастыря

Максимальный балл: 37 баллов

1 балл.В каком году и кем был основан Петропавловский монастырь?

ОТВЕТ: _____

_____

1 баллВ каком году был взорван надвратный храм Пророка Божия Илии?

ОТВЕТ: _____



Задание в храме

10 балловкакой священный предмет, принадлежавший Преподобному Олегу Брянскому, хранится в правом пределе храма?

ОТВЕТ: _____

_____

Фотозадание

5 балловсделайте фото на фоне памятного креста, установленного на месте надвратного храма Пророка Божия Илии.

Фотозадание

5 балловсделайте фото монумента, когда-то установленного над захоронением брянского мецената Павла Семеновича Могилевцева.

15 балловСейчас камень, расположенный в нижнем правом углу фотографии, является всего лишь плохо сохранившимся обломком истории. Назовите сооружение, стоявшее на этом месте. Кто был инициатором строительства этого сооружения и в честь какого события оно было возведено?

ОТВЕТ: _____



2 балла.Почему церковь с давних пор называется «Спасо-Гробовской» или «на владычьих гробах»?(ПОДСКАЗКА: информационная табличка)

ОТВЕТ: _____

лаКто архитектор церкви и в м стиле она построена? (ПОДСКАЗКА: информационная табличка).

ОТВЕТ: _____

1 балл.В каком году было закончено строительство храма? (ПОДСКАЗКА: информационная табличка).

Храм в честь Преображения Господня (Спасо-Гробовская церковь)

Максимальный балл: 20 баллов

Задание в храме

10 баллов.Какая икона занимает центральное положение в правом пределеСпасо-Гробовской церкви?

ОТВЕТ: _____

Фотозадание

5 балловсделайте фото всей команды на фоне Спасо-Гробовской церкви так, чтобы в кадре помещалась как минимум часть здания от подножия до одного из куполов.

5 баллов. В каком году началось и было завершено строительство каменного Воскресенского храма на территории Воскресенского девичьего монастыря?

ОТВЕТ: _____

10 баллов(за каждый правильный г. Максимум 20 баллов).С какими трагическими событиями в истории русской православной церкви 20 века связана история храма?

ОТВЕТ: _____

Собор Воскресения Христова

Максимальный балл: 30 баллов

Фотозадание

5 балловсделайте фото всей команды на фоне колокольни Воскресенского собора,
так, чтобы шпиль колокольни поместился в кадре полностью.

Церковь
в честь Покрова
Пресвятой Богородицы
Максимальный балл: 29 баллов

10 балловВ каком году и на чьи средства была возведена каменная церковь Покрова Пресвятой Богородицы на месте старой, деревянной?
ОТВЕТ: _____

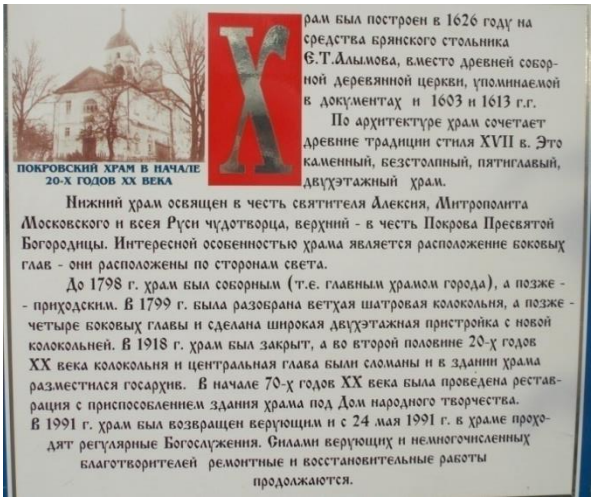

ПОКРОВСКИЙ ХРАМ В НАЧАЛЕ 20-Х ГОДОВ XX ВЕКА

Храм был построен в 1626 году на средства брянского стольника Ф.Т.Алымова, вместо древней соборной деревянной церкви, упоминаемой в документах и 1603 и 1613 г.г.

По архитектуре храм сочетает древние традиции стиля XVII в. Это каменный, бесстолпный, пятиглавый, двухэтажный храм.

Нижний храм освящен в честь святителя Алексия, Митрополита Московского и всея Руси чудотворца, верхний - в честь Покрова Пресвятой Богородицы. Интересной особенностью храма является расположение боковых глав - они расположены по сторонам света.

До 1798 г. храм был соборным (т.е. главным храмом города), а позже - приходским. В 1799 г. была разобрана ветхая шатровая колокольня, а позже - четыре боковых главы и сделана широкая двухэтажная пристройка с новой колокольней. В 1918 г. храм был закрыт, а во второй половине 20-х годов XX века колокольня и центральная глава были сломаны и в здании храма разместился госархив. В начале 70-х годов XX века была проведена реставрация с приспособлением здания храма под Дом народного творчества. В 1991 г. храм был возвращен верующим и с 24 мая 1991 г. в храме проходят регулярные Богослужения. Силами верующих и немногочисленных благотворителей ремонтные и восстановительные работы продолжаются.

Задание в храме

10 балловкакая чудотворная икона занимает центральное место в левой части притвора церкви Покрова Пресвятой Богородицы?
ОТВЕТ: _____

Фотозадание

5 баллов сделайте фото мемориальной таблички, расположенной на доме по адресу Покровская гора 5 и посвященной Дорогобужскому пехотному полку.

2 баллаКакие учреждения Брянского патриархата расположены на Покровской горе?
ОТВЕТ: _____

10 баллов.Как связана история церкви Покрова с русскими военными?
ОТВЕТ: _____



10 балловГде вначале располагался памятник Преподобномученнику Александру Пересвету?

ОТВЕТ: _____

1Как называется деревянная двухкупольная церковь, расположенная на территории соборного комплекса.(ПОДСКАЗКА: см. карту-схема соборного комплекса)



ОТВЕТ: _____

л.Чье имя носит духовно-просветительский центр, расположенный на территории собора? (ПОДСКАЗКА: информационный плакат у восточных ворот)

ОТВЕТ: _____

Брянский Кафедральный собор во имя Святой троицы

Максимальный балл: 52 балла

Фотозадание

5 балловСделайте фото на фоне памятника Преподобномученнику Александру Пересвету

Фотозадание

5 балловСделайте фото на фоне собора во имя Святой Троицы так, чтобы все здание собора (от основания до куполов) было в кадре

Задание в храме

10 балловв левом пределе верхнего яруса Кафедрального Собора находится рака с мощами 33 особо почитаемых святых. Мощи каких Святых, знавших Христа еще в земной жизни, находятся в раке?

ОТВЕТ: _____

Задание в храме

10 балловВ 2012 году мощи этого почитаемого брянского святого были торжественно перенесены из соборного храма Воскресения Христова в кафедральный собор во имя Святой Троицы. Сейчас рака с мощами располагается в правом пределе верхнего яруса кафедрального собора. Назовите имя этого Святого.

ОТВЕТ: _____

аллов.В каком году и кем был совершен чин великого освящения верхнего яруса Кафедрального собора, что ознаменовало завершение его строительства?

ОТВЕТ: _____

1 баллВ каком годуопределением Священного Синода приход храма Николая Чудотворца был преобразован в Горно-Никольский мужской епархиальный монастырь.

ОТВЕТ: _____

10 балловЧто роднит историю Новгородского Княжества и историю «Николы Верхнего» в 14 веке?

ОТВЕТ: _____

5 балловК какому архитектурному стилю относится каменное здание Горне-Никольской церкви, построенное в 1751 году и сохранившееся до наших дней?

ОТВЕТ: _____

Церковь Горного Николы

(Горно-Никольская церковь)

Максимальный балл: 56 баллов

Фотозадание

5 балловсделайте фото всей команды на фоне Горне-Никольской церкви так, чтобы и алтарь, и колокольня и трапезная были в кадре.

[illegible] баллов.В каком году деревянная церковь «Никола Верхний» впервые упоминается в летописях?

ОТВЕТ: _____

[illegible]ллов.Какое злодеяние совершили «злые корамольницыбрянци, сшедеся вечем» на пороге Горне –Никольской церкви в декабре 1340 года?

ОТВЕТ: _____

Фотозадание

5 балловсделайте фото Петровской горы с того же ракурса, что и на фотографии

[illegible]0 баллов.Перед вами дореволюционная фотография Петровской горы (ул. Арсенальная). На правой стороне улицы мы видим Горне-Никольскую церковь.Как назывался храм, который мы видим в начале улицы, на самой высокой точке Петровской горы.Храм был разрушен в послевоенное время.

ОТВЕТ: _____

Епархия
(дом купца Авраамова)
Максимальный балл: 12 баллов

Фотозадание

5 балловсделайте фото всей команды на фоне особняка Авррамова так, чтобы как минимум одна из башенок была в кадре полностью, от основания до креста.

2 балла. Когда был построен и кому принадлежал особняк, в котором сейчас располагается Брянская Епархия?

ОТВЕТ: _____

5 баллов.В каком архитектурном стиле выполнено здание особняка?

ОТВЕТ: _____



Церковь
Тихвинской иконы
Божьей матери

Максимальный балл: 21 балл

Задание в храме

10 баллово каком библейском сюжете рассказывает фреска в правом приделе церкви (напротив правого алтаря)?

ОТВЕТ: _____

1 балл.В каком году возведена Тихвинская церковь? (ПОДСКАЗКА: мемориальная табличка)

ОТВЕТ: _____

5 баллов.Как называлась деревянная церковь, стоявшая с 13 века на месте Тихвинского храма? (ПОДСКАЗКА: памятный камень возле святого источника)

ОТВЕТ: _____

Фотозадание

5 балловсделайте фото у святого источника, расположенного у подножия Тихвинской церкви.

Образовательное учреждение _____Команда_____

Ответы на задания по краеведческому маршруту «Брянск православный»

Максимальное количество баллов на краеведческом маршруте- 257 баллов

1 балл.В каком году и кем был основан Петропавловский монастырь?

ОТВЕТ **В 1275 году Преподобным (князем) Олегом Брянским**

1 баллВ каком году был взорван надвратный храм Пророка Божия Илии?

ОТВЕТ: **1976 год**



Введенская церковь Петропавловского женского монастыря

Максимальный балл: 37 баллов

Задание в храме

10 балловкакой священный пред принадлежавший Преподобному Олегу Брянскому, хранится в правом пределе храма?

ОТВЕТ: **Погребальные туфли Преподобного Олега Брянского**.

Фотозадание

5 балловсделайте фото на фоне памятного креста, установленного на месте надвратного храма Пророка Божия Илии.

Фотозадание

5 балловсделайте фото монумента, когда-то установленного над захоронением брянского мецената Павла Семеновича Могилевцева.

15 балловСейчас камень, расположенный в нижнем правом углу фотографии, является всего лишь плохо сохранившимся обломком истории. Назовите сооружение, стоявшее на этом месте. Кто был инициатором строительства этого сооружения и в честь какого события оно было возведено?

ОТВЕТ: **Колодец-фонтан «Самсон», братья Могилевцевы, строительство городского водопровода**

<table>
<tr>
<td>
<u>2 балла.</u>Почему церковь с давних пор называется «Спасо-Гробовской» или «на владычьих гробах»?(ПОДСКАЗКА: информационная табличка)
ОТВЕТ: <u>Храм возведен на месте Брянского кафедрального Собора, известного уже в 13 веке. Около собора были погребены владыки Нектарий и Нафанаил</u>
<u>ла</u>Кто архитектор церкви и в м стиле она построена? (ПОДСКАЗКА: информационная табличка).
ОТВЕТ: <u>Архитектор Н.А. Лебедев, новорусский стиль</u>
<u>1 балл.</u>В каком году было закончено строительство храма? (ПОДСКАЗКА: информационная табличка). <u>в 1904 году</u></td>
<td>Храм в честь
Преображения Господня
(Спасо-Гробовская церковь)
Максимальный балл: 20 баллов
Задание в храме
<u>10 баллов.</u>Какая икона занимает центральное положение в правом пределеСпасо-Гробовской церкви?
ОТВЕТ:<u>Икона Святого Великомученника и целителя Пантелеймона</u>
Фотозадание
<u>5 баллов</u>сделайте фото всей команды на фоне Спасо-Гробовской церкви так, чтобы в кадре помещалась как минимум часть здания от подножия до одного из куполов.</td>
</tr>
<tr>
<td>
<u>5 баллов.</u> В каком году началось и завершено строительство каменного Воскресенского храма на территории Воскресенского девичьего монастыря?
ОТВЕТ: 1738 -1741 годы</td>
<td>Собор
Воскресения Христова
Максимальный балл: 30 баллов
Фото задание
<u>5 баллов</u>сделайте фото всей команды на фоне колокольни Воскресенского собора, так, чтобы шпиль колокольни поместился в кадре полностью.</td>
</tr>
<tr>
<td colspan="2"><u>10 баллов</u>(<u>за каждый правильныйответ. Максимум 20 баллов</u>).С какими ческими событиями в истории русской православной церкви 20 века связана история храма?ОТВЕТ: «Обновленческий» раскол – в 1922 году храм был поделен между православными и «обновленцами». 2. Расстрелы священников – Летом 1937 года православные священники храма, в том числе и Священномученик протодиакон Серафим Василенко были арестованы и расстреляны. В храме продолжали служить. В конце 1937 —были арестованы и расстреляны священник-обновленец и обновленческий «Архиепископ» Брянский Владимир Досычев, которые продолжали служить в храме.</td>
</tr>
</table>

Церковь
в честь Покрова
Пресвятой Богородицы
Максимальный балл: 29 баллов

1баллаВ каком году и на чьи средства была возведена каменная церковь Покрова Пресвятой Богородицы на месте старой, деревянной?

ОТВЕТ: **в 1626 году на пожертвование помещика Алымова**

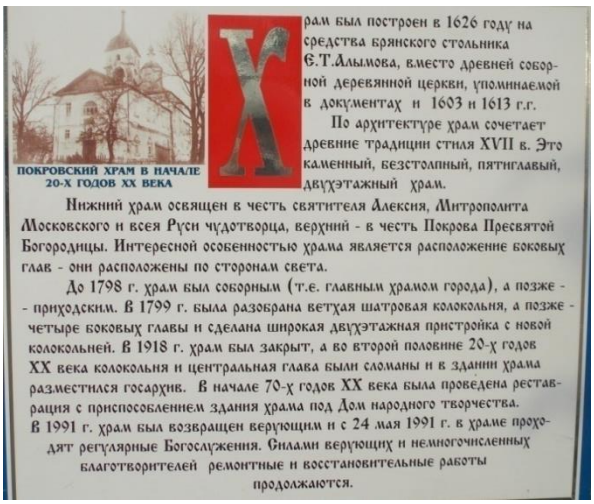

Задание в храме

10 балловкакая чудотворная икона занимает центральное место в левой части притвора церкви Покрова Пресвятой Богородицы?

ОТВЕТ: **Образ Пресвятой Богородицы Неупиваемая Чаша**

Фото задание

5 баллов сделайте фото мемориальной таблички, расположенной на доме по адресу Покровская гора 5 и посвященной Дорогобужскому пехотному полку.

2баллаКакие учреждения Брянского патриархата расположены на Покровской горе?

ОТВЕТ: **Брянское духовное училище и управление Брянской митрополии**

10 баллов.Как связана история церкви Покрова с русскими военными?

ОТВЕТ: **В 1896 году церковь передали 144-ому пехотному Каширскому полку и богослужения в храме совершали полковые священники.**



10 балловГде вначале располагался памятник Преподобномученнику Александру Пересвету?

ОТВЕТ:**Под колокольней «Пересвет» (в стенах колокольни «Пересвет»)**

1Как называется деревянная двухкупольная церковь, расположенная на территории соборного комплекса.(ПОДСКАЗКА: см. карту-схема соборного комплекса)



ОТВЕТ:**Храм во имя новомучеников и исповедников Брянских**

л. Чье имя носит духовно-просветительский центр, расположенный на территории собора? (ПОДСКАЗКА: информационный плакат у восточных ворот)

ОТВЕТ: **Преподобного князя Олега Брянского**

Брянский Кафедральный собор во имя Святой троицы

Максимальный балл: 52 балла

Фотозадание

5 балловСделайте фото на фоне памятника Преподобномученнику Александру Пересвету

Фото задание

5 балловСделайте фото на фоне собора во имя Святой Троицы так, чтобы все здание собора (от основания до куполов) было в кадре

Задание в храме

10 балловв левом пределе верхнего яруса Кафедрального Собора находится рака с мощами 33 особо почитаемых святых. Мощи каких Святых, знавших Христа еще в земной жизни, находятся в раке?

ОТВЕТ: **Пророк, предтеча и Креститель Господень Иоанн и равноапостольная Мария Магдалина**

Задание в храме

10 балловВ 2012 году мощи этого почитаемого брянского святого были торжественно перенесены из соборного храма Воскресения Христова в кафедральный собор во имя Святой Троицы. Сейчас рака с мощами располагается в правом пределе верхнего яруса кафедрального собора. Назовите имя этого Святого.

ОТВЕТ: **Преподобный князь Олег Брянский.**

ллов.В каком году и кем был совершен чин великого освящения верхнего яруса Кафедрального собора, что ознаменовало завершение его строительства?

ОТВЕТ: **В 2012 году, Святейший Патриарх Московский и Всея Руси Кирилл.**

1 баллВ каком годуопределением Священного Синода приход храма Николая Чудотворца был преобразован в Горно-Никольский мужской епархиальный монастырь.

ОТВЕТ: **в 2002 году**

10 балловЧто роднит историю Новгородского Княжества и историю «Николы Верхнего» в 14 веке?

ОТВЕТ: **В начале 14 века перед входом в церковь устроили площадь, на которой собиралось городское вече, на колокольне установили вечевой колокол, возвещавший о сборе на вече.**

5 балловК какому архитектурному стилю относится каменное здание Горне-Никольской церкви, построенное в 1751 году и сохранившееся до наших дней?

ОТВЕТ:**Барокко с колокольней в стиле классицизма**

Церковь Горного Николы

(Горно-Никольская церковь)

Максимальный балл: 56 баллов

Фото задание

5 балловсделайте фото всей команды на фоне Горне-Никольской церкви так, чтобы и алтарь, и колокольня и трапезная были в кадре.

[illegible] баллов.В каком году деревянная церковь «Никола Верхний» впервые упоминается в летописях?

ОТВЕТ: **1310 год**

[illegible]ллов.Какое злодеяние совершили «злые корамольницыбрянци, сшедеся вечем» на пороге Горне – Никольской церкви в декабре 1340 года?

ОТВЕТ: **Убийство «предпоследнего независимого» Брянского князя Глеба Святославича.**

Фото задание

5 балловсделайте фото Петровской горы с того же ракурса, что и на фотографии

[illegible]0 баллов.Перед вами дореволюционная фотография Петровской горы (ул. Арсенальная). На правой стороне улицы мы видим Горне-Никольскую церковь.Как назывался храм, который мы видим в начале улицы, на самой высокой точке Петровской горы.Храм был разрушен в послевоенное время.

ОТВЕТ: **Церковь Святой великомученицы Параскевы Пятницы**

Епархия
(дом купца Авраамова)
Максимальный балл: 12 баллов

Фото задание

5 балловсделайте фото всей команды на фоне особняка Авррамова так, чтобы как минимум одна из башенок была в кадре полностью, от основания до креста.

2 балла. Когда был построен и кому принадлежал особняк, в котором сейчас располагается Брянская Епархия?

ОТВЕТ: **конец 19 века, принадлежал брянскому купцу – лесозаводчику Михаилу Авраамову.**

5 баллов.В каком архитектурном стиле выполнено здание особняка?

ОТВЕТ: **Псевдоготический стиль**

Церковь
Тихвинской иконы
Божьей матери

Максимальный балл: 21 балл

Задание в храме

10 баллово каком библейском сюжете рассказывает фреска в правом приделе церкви (напротив правого алтаря)?

ОТВЕТ: **грехопадение Адама и Евы (изгнание из рая)**

1 балл.В каком году возведена Тихвинская церковь? (ПОДСКАЗКА: мемориальная табличка)

ОТВЕТ: **1769 год**

5 баллов.Как называлась деревянная церковь, стоявшая с 13 века на месте Тихвинского храма? (ПОДСКАЗКА: памятный камень возле святого источника)

ОТВЕТ: **Церковь Святых Афанасия и Кирилла, патриархов Александрийских**

Фото задание

5 балловсделайте фото у святого источника, расположенного у подножия Тихвинской церкви.

Городская краеведческая игра
«Город юный, город древний – 2018 год»

На протяжении многих лет краеведческая игра побуждала школьников изучать историю и архитектуру Брянска, узнавать судьбы людей, оставивших добрый след в жизни города, понимать, как формировалось лицо современного Брянска… Маршруты сегодняшней игры позволяют больше узнать об образовательных и спортивных учреждениях г. Брянска в окрестностях парка им. 1000-летия г. Брянска, соответственно тема нашей игры «Сегодня школьник, завтра студент».

Вам предстоит путешествие по образовательным и спортивным учреждениям Советского района города, и по завершению маршрута игры встреча с представителями учебных заведений. Запоминайте, фотографируйте, знакомясь с интересными людьми, открывайте для себя новое. (ПРАВИЛА ИГРЫ)

Краеведческая игра проводится в форме пешеходного маршрута по ограниченной территории. На старте все команды одновременно получают экспресс-опросники, после заполнения обменивают на пакет заданий по маршруту игры.

В каждом блоке заданий указан максимальный балл, и стоимость в баллах каждого задания. В зависимости от сложности задания вы можете заработать от 1 до 10 баллов. Блок может содержать задания трёх типов:

- сделать фото команды (за исключением фотографа) на фоне указанного объекта (памятника, таблички, здания);

- ответить на вопрос, ответ записываем ручкой чётко и разборчиво;

- взять интервью у жителей города, записать на видео.

Контрольное время игры – 2 часа 40 минут.

Команда, не пришедшая на финиш по истечении контрольного времени (КВ), получает штрафные баллы (до 5 мин. – 3 балла, за каждую последующую минуту начисляется 1 балл), которые вычитаются из результата команды.

На финише команда предъявляет судьям фотоаппарат с отснятым материалом и заполненные блоки заданий.

Результаты краеведческой игры определяются по наименьшей сумме мест, занятых командой при выполнении конкурсных заданий: экспресс-опросник и прохождение маршрута игры. Желаем всем вам позитивного настроения, активности и творческих побед!

Экспресс-опросник «История Брянска»

Команда образовательного учреждения _____

1. Что сейчас расположено на месте этого объекта в роще «Соловьи»?

А Понтонный мост.
Б. Подвесной мост.
В. Вантовый мост.

2. Проект какого объекта находится перед вами?

А. Курган Бессмертия.
Б. Мемориал Брянск-город Воинской Славы.
В. Памятник 1000-летия города Брянска.



3. Памятник людям этой профессии был открыт в октябре 2017 года в городе Стародуб. На своем маршруте вы увидите памятник, посвященный людям этой профессии, погибшим в годы Великой Отечественной войны.

Что это за профессия?
Ответ: _____

4.Лесопарковая роща Соловьи

Относительно происхождения названия рощи существует **три основные версии**:

1. Связывают с названием птицы соловей. Когда-то здесь водилось очень много соловьев.

2. Еще есть легенда, что здесь когда-то обитал знаменитый Соловей-разбойник. От него и пошло название.

Назовите третью версию

3. _____
_____

Экспресс-опросник «История Брянска» (Ответы)

Команда образовательного учреждения _____

1. Что сейчас расположено на месте этого объекта в роще «Соловьи»?

А Понтонный мост.
Б. Подвесной мост.
В. Вантовый мост.

2. Проект какого объекта находится перед вами?

А. Курган Бессмертия.
Б. Мемориал Брянск-город Воинской Славы.
В. Памятник 1000-летия города Брянска.



3. Памятник людям этой профессии был открыт в октябре 2017 года в городе Стародуб. На своем маршруте вы увидите памятник, посвященный людям этой профессии, погибшим в годы Великой Отечественной войны.

Что это за профессия?
Ответ: Учитель

4.Лесопарковая роща Соловьи

Относительно происхождения названия рощи существует **три основные версии**:

1. Связывают с названием птицы соловей. Когда-то здесь водилось очень много соловьев.

2. Еще есть легенда, что здесь когда-то обитал знаменитый Соловей-разбойник. От него и пошло название.

Назовите третью версию

3.**Третье предание гласит, что в этом месте была переправа через реку Десну. А перевозом через неё занимался некто по прозвищу Соловей.**

Карта маршрута

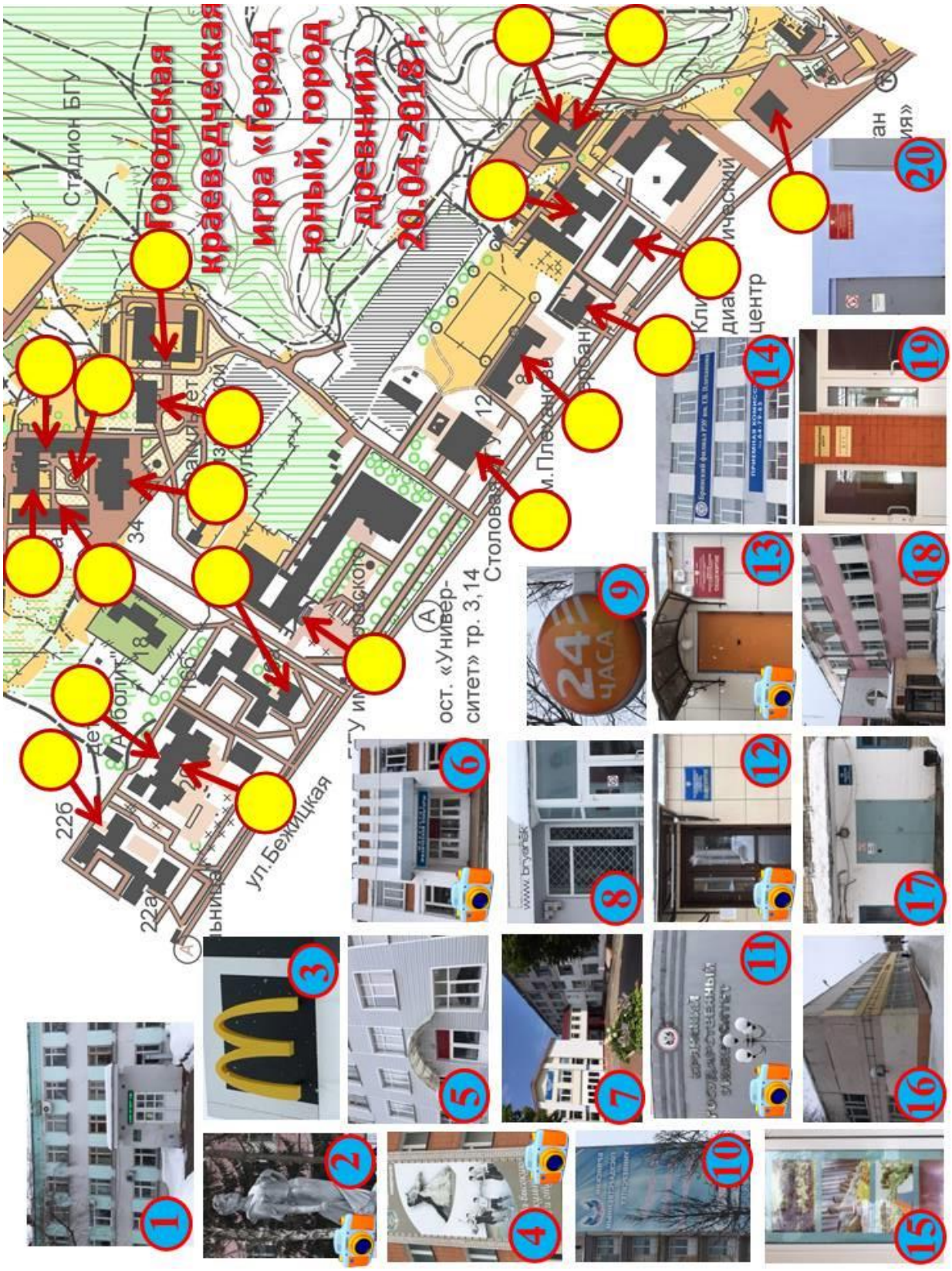

ПАРК ИМЕНИ 1000-ЛЕТИЯ ГОРОДА БРЯНСКА

Стела «БРЯНСК - ГОРОД ВОИНСКОЙ СЛАВЫ»

Вопрос: Когда была открыта стела?

А. В День присвоения городу Брянску почетного звания «ГОРОД ВОИНСКОЙ СЛАВЫ».

Б. В День празднования освобождения города от немецко-фашистских захватчиков.

В. В День партизан и подпольщиков.

Задание: фото на фоне стелы.

Храм во имя святого мученика Иоанна Воина

Вопрос: В каком брянском соборе (храме, церкви) находился придел во имя этого святого?

А. В храме Рождества Богородицы на Щепной площади.

Б. В Тихвинской церкви на территории Новой Слободы.

В. В Покровском кафедральном соборе.

Задание: фото на фоне храма во имя святого мученика Иоанна Воина.

Фонтан на центральной аллее парка

Вопрос: Чтодолжен представлять из себя фонтанпо замыслу авторов?

А. Солнечный круг.

Б. Циферблат часов.

В. Колесо истории.

Задание: фото на фоне фонтана.

Архитектурная концепция благоустройства Аллеи Славы и Кургана Бессмертия

Вопрос: Чей проект по благоустройству парка имени 1000 -летия г. Брянска принят к исполнению в 2011г:

1.АрхитекторАлександра Лобанова из Санкт-Петербурга

2. Архитектора ВасилияГородкова из Брянска

3. Архитектора Александра Городкова из Брянска

«Курган Бессмертия»

Вопрос: В основании кургана был заложен орудийный ствол с капсулой, в которой находилось посланием к потомкам. В каком году ее вскрыли?

А. 1985
Б. 2009
В. 2017

Задание: фото на фоне «звезды».

Лесопарковая роща Соловьи.

Памятник природы образован с целью сохранения участка широколиственных лесов и поймы р. Десны. Место обитания 1 вида птиц, внесенного в Красные книги Российской Федерации и Брянской области и 2 видов птиц, внесенных в Красную книгу Брянской области**.**

Задание 1: Соотнесите номер с названием птицы и его фото.

1.Среднийдятел _____
2. Зеленый дятел _____
3. Белоспинный дятел _____

Задание 2: Укажите, какой дятел внесён в Красную книгу Российской Федерации и Брянской области.

_____



«ТРОПА ЗДОРОВЬЯ»

Вопрос: Сколько километров суммарно составляет протяженность 4х маршрутов Терренкура?

А. 7.88 км
Б. 8.94 км
В. 9.67 км

Вопрос: Что называется ***Терренкуром?***

_____
_____

Задание: фото на фоне схемы маршрутов

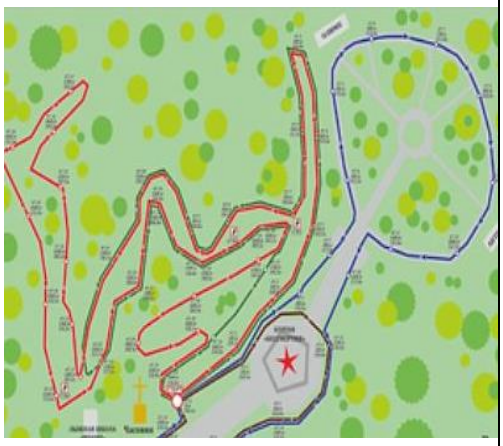

СПОРТ *Лист 2*

Брянское училище олимпийского резерваежемесячно выпускает свою газету

Вопрос: Как называется газета?
А. Спортивный вестник
Б. Вестник БГУОР
В. Спортивные будни

Вопрос: Сколько номеров вышло в 2018г.?

_____

«Никакой я не герой!»

Александр Большунов- выпускник Брянского училища олимпийского резерва 2017 года, на олимпиаде в Пхёнчхане (Южная Корея) завоевал четыре медали.

Вопрос: Назовите дисциплины и достоинство медали.

А. _____
Б._____
В._____
Г._____

«ЛАПЛАНДИЯ»

Вопрос: Какой объект, расположенный на территории спорткомплекса «Лапландия» и относящийся к Детско-юношеской спортивной школе «ОЛИМП», был заложен еще в 60-х года, но так и не был введен в эксплуатацию из-за технических сложностей?

А. Смотровая площадка.

Б. Лыжный трамплин.
В. Наблюдательная вышка.

Задание: фото на фоне искомого объекта.



Велодром
для занятий велоспортом

Относительно молодая олимпийская дисциплина по велоспорту BMX, получила своё развитие и в городе Брянске, на протяжении 17 лет спортсмены оттачивают своё мастерство.

Вопрос: Почему дисциплина BMX получила такое название?

_____

_____

Задание: фото на фоне велодрома.

Любительский спорт для всех Этот вид спорта стремительнонабирает популярность и один из самых эффективных и, в тоже время, простых. Основное назначение палок для ходьбы - разгрузка суставов и мускулатуры нижних конечностей. Палки распределяют нагрузку среди большего количества мышц и суставов и заставляют активно работать руки и плечи. **Вопрос: Назовите вид спорта?** _____	
Всероссийское физкультурно-спортивное общество «Динамо» В следующем году Брянское отделение всероссийского общества «Динамо» будет праздновать юбилей. **Вопрос: Сколько лет исполнится в августе 2019 года Брянскому региональному отделению ВФСО «Динамо»?** А. 80 Б. 90 В. 100 ***Задание: фото на фоне вывески***	
Спортпарк «Варяг» В спортпарке огромный выбор спортивных секций, развитая инфраструктура центра, установлено высококлассное оборудование. **Вопрос: Сколько спортивных секций работает на территории парка Варяг?** А. Более 10 Б. Более 20 В. Более 30 **Вопрос: Сколько оборудованных склонов для любителей горных лыж и сноуборда имеется в инфраструктуре парка?** А. 2 Б. 4 В. 5 ***Задание: фото на исходном фоне***	
Территория здоровья - Лапландия На территории Лапландии действуют различные спортивные сооружения, объекты. В том числе установлены летающие качели. ***Вопрос: Сколько качелей установлено на территории горнолыжного комплекса «Лапландия»?*** А. 2 Б. 4 В. 8 ***Задание: фото на фоне качелей***	

Лист 3

Памятник учителям, погибшим в Великую Отечественную войну

Задание: Укажите звание и род войск учителей -Брянцев, удостоенных звания Героя Советского Союза.

Н.З. Нешков - село Крюково, окончил Стародубское педагогическое училище. Работал учителем в Читинской области.

_____

_____

_____

В.Ф. Скопенко – родился в селе СтруговкаГордеевского района. После школы учился в горнопромышленном училище, затем продолжил учёбу на физико-математическом факультете Одесского гос. ун-та. В 1943 году окончил Военную академию.

_____

_____

_____

С.С. Сугак родился в селе Рудня-Воробьевка Гордеевского района -окончил Ржевский педагогический техникум, работал учителем в г. Себеже Псковской области. В 1937 году окончил Энгельсскую военную авиационную школу лётчиков

_____

_____

_____

В.С. Матвеев в тридцатые годы заведовал пятой школой в Брянске. После призыва в армию бывший учитель стал постигать артиллерийскую науку.

_____

_____

_____

В.В. Сенько Дважды Герой Советского Союза. После окончания Новозыбковского учительского института, работал на Брянщине в школе Рогнединского района. После призыва в армию, окончил Олсуфьевскую военно-авиационную школу (на Брянщине).

_____

_____

_____

Из истории образовательных учреждений

Задание: фото на фоне памятника

История формирования Брянского транспортного техникума

2017 г. - Брянский транспортный техникум

2012 г. - Брянский техникум машиностроения и автомобильного транспорта имени Героя Советского Союза М.А. Афанасьева.

2007 г. – Профессиональный лицей№ 3имени Героя Советского Союза М.А. Афанасьева (в 2011 г. - присоединено ПУ № 3).

1990-е годы – Брянский автотранспортный техникум (техникум был передан в ведение Министерства транспорта РФ и переименован в Брянский автотранспортный техникум (БАТТ)).

1963 г. - ГПТУ, ПТУ №1 г. Оржоникидзеград.

1956 г. - Брянский вечерний машиностроительный техникум на Покровской горе.

1940 г. - РУ № 2

1920 г. - ФЗУ при заводе «Красный Профинтерн»

1893 г. - Ремесленная школа имени М.К. Тенишевой

Вопросы:

1. В каком году Брянский машиностроительный техникум переехал в современное здание по соседству с Курганом Бессмертия? _____

2.В каком году профессиональному училищу № 1 присвоено имя Героя Советского Союза М.А. Афанасьева? _____

3. Расшифруйте сокращенные названия

Школа**ФЗУ**_____

РУ _____

ПТУ_____

4. 16 августа 1941 г. учащихся и сотрудники РУ №2 были эвакуированы. Назовите, в какой город? _____

5. В **декабре 1942 г.** в г. Оржоникидзеград состоялся первый выпуск учащихся РУ № 2, начавших обучение в оккупированном городе. Как сейчас называется г. Оржоникидзеград?

В разное время в ФЗУ и РУ №2 обучались Герои нашей страны:Дважды Герои Советского Союза

- **Александр Алексеевич Головачев** (1909-1945), выпускник школы ФЗУ 1926 года по специальности слесарь-разметчик
- **Павел Михайлович Камозин**(1917 — 1983), выпускник 1934 года по специальности слесарь.

Герои Советского Союза

- **Михаил Федорович Иванов** (1912-1988 г.), выпускник ФЗУ 1928 года.
- **Михаил Андреевич Афанасьев** (1914- 1960), выпускник 1931 года по специальности слесарь.
- **Анатолий Афанасьевич Морозов** (1916-1944),выпускник школы ФЗУ 1933 года.
- **Виктор Тимофеевич Чванов (**1914-1944), выпускник ФЗУ 1933 года поспециальности токарь.
- **Василий Васильевич Филимоненков** (1917-1982),выпускник ФЗУ 1934г.по специальности сварщик.
- **Владимир Георгиевич Щёголев** (1921-1944), выпускник ФЗУ 1938 года по специальности слесарь.
- **Степан Иванович Удов (**1924-1988), выпускник школы ФЗУ 1941г.

Герой Российской Федерации

- **Анатолий Александрович Титов** (1923-2008), обучался в ФЗУ по специальности токарь.

Задание 1: Необходимо соотнести личные данные и фотографию и перед каждой фамилией поставить номер соответствующего фото.

1.

2.

3.

4.

5.

6

7.

8.

9.

10

Задание 2: Кто из героев выпускников в годы войны служил подрывником в партизанском отряде под командованием Виноградова А.И.? Награда нашла героя только в 1955 году._____

Образовательные учреждения г.Брянска

лист 4

Брянский государственный университет носит имя академика , Героя Социалистического Труда, Лауреата двух Сталинских премий, ректора МГУ имени М. В. Ломоносова (1951—1973) -Ивана Георгиевича Петровского

Задание: Необходимо взять интервью у работников или студентов данного учебного заведения.
Интервью снимаем на видео.

Получить ответы на вопросы:

1. Что вы знаете об академике Иване Георгиевиче Петровском?

2.Почемуего именем назван ВУЗ?

3.Где на территории БГУустановлен бюст И.Г. Петровскому?

Эмблема БГУ

Вопрос: Что обозначают даты на ленте, котораяобвиваетлавровую ветвь?

1930_____
1976 _____
2001 _____
Задание: Фото на фоне эмблемы

МБУДО Детско-юношеская спортивная школа «Олимп»

В школе реализуются программы по: пауэрлифтингу, кикбоксингу, хоккею с шайбой, каратэ, боксу, тяжелой атлетике, горнолыжному спорту, лыжным гонкам, спортивному ориентированию, адаптивной физической культуре, велоспорту BMX.
Вопрос: Как иначе называется пауэрлифтинг?

_____

Задание: фото на фоне здания.

ГАПОУ «Брянский медико-социальный техникум имени академика Н. М. Амосова» *Перед Вами эмблема техникума.* ***Вопрос?*** ***1.Что означает дата 1923?_____*** Техникум в 2006, 2007, 2008 и 2010 получал награды, войдя в топ «100 лучших ССУЗов России» ***Вопрос?*** ***1.Какой медалью был награждён техникум, войдя в топ «*100 лучших ССУЗов России»*?_____***	
Брянское государственное училище (колледж) олимпийского резерва ***Вопрос: в каком году построено здание училища?*** А. 1973 Б. 1985 В. 1990 ***Задание: фото на фоне здания***	
Брянский филиал Российский экономический университет им. Г.В. Плеханова Брянский филиал РЭУ им. Г.В. Плеханова является единым образовательным комплексом «техникум-университет»,который ведет подготовку специалистов по программам СПО и программам ВО. ***Вопрос?*** Расшифруйте ВО_____ СПО_____ Какое число филиалов университета открыто в России и за рубежом? _____ ***Задание: фото на фоне здания***	
ГАПОУ«Брянский транспортный техникум» (БТТ) Брянский вечерний машиностроительный техникум - далёкий предшественник Брянского транспортного техникума, имел филиалы при заводе «Волна революции» (г.Новозыбков), при Брянском заводе "Строймашина», при Жуковском велосипедном заводе. Сегодня техникум также имеетфилиал. ***Вопрос: Укажите его прежнее название, место нахождения.*** _____ Какое отношение имеет представленный логотип к БТТ_____ ***Задание: фото на фоне здания.***	

ОТВЕТЫ ПАРК ИМЕНИ 1000-ЛЕТИЯ ГОРОДА БРЯНСКА

лист 1

Стела «БРЯНСК - ГОРОД ВОИНСКОЙ СЛАВЫ»

Вопрос: Когда была открыта стела?

А. В День присвоения городу Брянску почетного звания «ГОРОД ВОИНСКОЙ СЛАВЫ».
Б. В День празднования освобождения города от немецко-фашистских захватчиков.
В. В День партизан и подпольщиков.
Задание: фото на фоне стелы.

Храм во имя святого мученика Иоанна Воина

Вопрос: В каком брянском соборе (храме, церкви) находился придел во имя этого святого?

А. Храме Рождества Богородицы на Щепной площади.
Б. Тихвинской церкви на территории Новой Слободы.
В. Покровском кафедральном соборе.

Задание: фото на фоне храма во имя святого мученика Иоанна Воина.

Фонтан на центральной аллее парка

Вопрос: Чтодолжен представлять из себя фонтан по замыслу авторов?
А. Солнечный круг.
Б. Циферблат часов.
В. Колесо истории.
Задание: фото на фоне фонтана.

Архитектурная концепция благоустройства Аллеи Славы и Кургана Бессмертия

Вопрос: Чей проект по благоустройству парка имени 1000 -летия г. Брянска принят к исполнению в 2011г:
1.Архитектора Александра Лобанова из Санкт-Петербурга

2. Архитектора Василия Городкова из Брянска

3. Архитектора Александра Городкова из Брянска

«Курган Бессмертия» ***Вопрос: В основании кургана был заложен орудийный ствол с капсулой, в которой находилось посланием к потомкам. В каком году ее вскрыли?*** А. 1985 Б. 2009 **В. 2017** ***Задание: фото на фоне «звезды».***	
Лесопарковая роща Соловьи. Памятник природы образован с целью сохранения участка широколиственных лесов и поймы р. Десны. Место обитания 1 вида птиц, внесенного в Красные книги Российской Федерации и Брянской области и 2 видов птиц, внесенных в Красную книгу Брянской области. **Задание 1: Соотнесите номер с названием птицы и его фото.** 1.Среднийдятел_____**3**____ 2. Зеленый дятел_____**2**____ 3. Белоспинный дятел___**1**____ **Задание 2: Укажите, какой дятел внесён в Красную книгу Российской Федерации и Брянской области.** **Средний Дятел**	
«ТРОПА ЗДОРОВЬЯ» ***Вопрос: Сколько километров суммарно составляет протяженность 4х маршрутов Терренкура?*** **А. 7.88 км** Б. 8.94 км В. 9.67 км Вопрос: Что называется ***Терренкуром?*** **Метод лечения, предусматривающий дозированные физические нагрузки в виде пешеходных прогулок, восхождений в гористой местности по определённым, размеченным маршрутам.** ***Задание: фото на фоне схемы маршрутов***	

ОТВЕТЫ

Спорт

лист 2

Брянское училище олимпийского резерваежемесячно выпускает свою газету

Вопрос: Как называется газета?

А. Спортивный вестник

Б. Вестник БГУОР

В. Спортивные будни

Вопрос: Сколько номеров вышло в 2018 г.?

3 номера

«Никакой я не герой!»

Александр Большунов выпускник Брянского училища олимпийского резерва 2017 года на олимпиаде в Пхёнчхане (Южная Корея) завоевал четыре медали.

Вопрос: Назовите дисциплины и достоинство медали.

А.эстафета - серебро

Б. командный спринт - серебро

В. марафон - серебро

Г. личный спринт - бронза

«ЛАПЛАНДИЯ»

Вопрос: Какой объект, расположенный на территории спорткомплекса «Лапландия» и относящийся к Детско-юношеской спортивной школе «ОЛИМП», был заложен еще в 60-х года, но так и не был введен в эксплуатацию из-за технических сложностей?

А. Смотровая площадка.

Б. Лыжный трамплин.

В. Наблюдательная вышка.

Задание: фото на фоне искомого объекта.

Велодром

для занятий велоспортом

Относительно молодая олимпийская дисциплина по велоспорту BMX, получила своё развитие и в городе Брянск, на протяжении 17 лет спортсмены оттачивают своё мастерство.

Вопрос: Почему дисциплина BMX получила такое название?

По названию марки велосипеда

Задание: фото на фоне велодрома.

Любительский спорт для всех Этот вид спорта стремительно набирает популярность и один из самых эффективных, и в тоже время простых. Основное назначение палок для ходьбы - разгрузка суставов и мускулатуры нижних конечностей. Палки распределяют нагрузку среди большего количества мышц и суставов и заставляют активно работать руки и плечи. **Вопрос: Назовите вид спорта?** **Скандинавская ходьба**	
Всероссийское физкультурно-спортивное общество «Динамо» В следующем году Брянское отделение всероссийского общества «Динамо» будет праздновать юбилей. **Вопрос: Сколько лет исполниться в августе 2019 года Брянскому региональному отделению ВФСО «Динамо»** А. 80 **Б. 90** В. 100 ***Задание: фото на фоне вывески***	
Спортпарк «Варяг» В спортпарке огромный выбор спортивных секций, развитая инфраструктура центра, установлено высококлассное оборудование. **Вопрос: Сколько спортивных секций работает на территории парка Варяг?** А. Более 10 Б. Более 20 **В. Более 30** **Вопрос: Сколько оборудованных склонов для любителей горных лыж и сноуборда имеется в инфраструктуре парка?** А. 2 Б. 4 **В. 5** ***Задание: фото на исходном фоне***	
Территория здоровья - Лапландия На территории Лапландии действуют различные спортивные сооружения, объекты. В том числе установлены летающие качели. ***Вопрос: Сколько качелей установлено на территории горнолыжного комплекса «Лапландия»?*** А. 2 Б. 4 **В. 8** ***Задание: фото на фоне качелей***	

ОТВЕТЫ Из истории образовательных учреждений

лист 3

Памятник учителям, погибшим в Великую Отечественную войну

Задание: Укажите звание и род войск учителей -Брянцев, удостоенных звания Героя Советского Союза.

Н.З. Нешков - село Крюково, окончил Стародубское педагогическое училище. Работал учителем в Читинской области.

Ответ: Офицер разведки, звание капитан

В.Ф. Скопенко – родился в селе СтруговкаГордеевского района. После школы учился в горнопромышленном училище, затем продолжил учёбу на физико-математическом факультете Одесского гос. ун-та. В 1943 году окончил Военную академию.

Ответ:Стрелковый полк, подполковник

С.С. Сугак родился в селе Рудня-Воробьевка Гордеевского района -окончил Ржевский педагогический техникум, работал учителем в г. Себеже Псковской области. В 1937 году окончил Энгельсскую военную авиационную школу лётчиков

Ответ:Лётчик (командир корабля) - гвардии майор

В.С. Матвеев в тридцатые годы заведовал пятой школой в Брянске. После призыва в армию бывший учитель стал постигать артиллерийскую науку.

Ответ: Артиллерия, прошел путь от рядового до генерала–майора

В.В. Сенько Дважды Герой Советского Союза. После окончания Новозыбковского учительского института, работал на Брянщине в школе Рогнединского района. После призыва в армию, окончил Олсуфьевскую военно-авиационную школу (на Брянщине).

Ответ:штурман авиации, лейтенант

Задание: фото на фоне памятника

История формирования Брянского транспортного техникума

2017 г. - Брянский транспортный техникум

2012 г. - Брянский техникум машиностроения и автомобильного транспорта имени Героя Советского Союза М.А. Афанасьева.

2007 г. – Профессиональный лицей№ 3имени Героя Советского Союза М.А. Афанасьева (в 2011 г. - присоединено ПУ № 3).

1990-е годы – Брянский автотранспортный техникум (техникум был передан в ведение Министерства транспорта РФ и переименован в Брянский автотранспортный техникум (БАТТ)).

1963 г. - ГПТУ, ПТУ №1 г. Оржоникидзеград.

1956 г. - Брянский вечерний машиностроительный техникум на Покровской горе.

1940 г. - РУ № 2

1920 г. - ФЗУ при заводе «Красный Профинтерн»

1893 г. - Ремесленная школа имени М.К. Тенишевой

Вопросы:

1. В каком году Брянский машиностроительный техникум переехал в современное здание по соседству с Курганом Бессмертия?**1970 г.**

2.В каком году профессиональному училищу № 1 присвоено имя Героя Советского Союза М.А. Афанасьева?**1970 г**

3. Расшифруйте сокращенные названия

Школа**ФЗУ- фабрично-заводского ученичества****РУ- ремесленное училище**

ПТУ- профессионально-техническое училище

4.16 августа 1941 г. учащихся и сотрудники РУ №2 были эвакуированы.Назовите, в какой город? **г. Новосибирск**

5. В **декабре 1942 г.** в г. Оржоникидзеград состоялся первый выпуск учащихся РУ № 2, начавших обучение в оккупированном городе. Как сейчас называется г. Оржоникидзеград? **Бежицкий район г. Брянска**

В разное время в ФЗУ и РУ №2 обучались Герои нашей страны:Дважды Герои Советского Союза

3 **Александр Алексеевич Головачев** (1909-1945), выпускник школы ФЗУ 1926 года по специальности слесарь-разметчик

2 **Павел Михайлович Камозин**(1917 — 1983), выпускник 1934 года по специальностислесарь.

Герои Советского Союза

9 **Михаил Федорович Иванов** (1912-1988 г.), выпускник ФЗУ 1928 года.

1 **Михаил Андреевич Афанасьев** (1914- 1960), выпускник 1931 года по специальности слесарь.

4 **Анатолий Афанасьевич Морозов** (1916-4),выпускник школы ФЗУ 1933 года.

7 **Виктор Тимофеевич Чванов (**1914-1944), выпускник ФЗУ 1933 года поспециальности токарь.

6 **Василий Васильевич Филимоненков** (1917-1982),выпускник ФЗУ 1934г.по специальности сварщик.

8 **Владимир Георгиевич Щёголев** (1921-1944), пускник ФЗУ 1938 года поспециальности слесарь.

1.

2.

3.

4.

5.

6\

7.

8.

Степан Иванович Удов (1924-1988),выпускник школы
5 ФЗУ 1941г.**Герой Российской Федерации**
Анатолий Александрович Титов (1923-2008), обучался в ФЗУ по специальности токарь.

10

Задание 1: Необходимо соотнести личные данные и фотографию и перед каждой фамилией поставить номер соответствующего фото.

9.

10

***Задание 2: Кто из героев выпускников в годы войны служил подрывником в партизанском отряде под командованием Виноградова А.И.?Награданашла героя только в 1955 году.*Ответ: Анатолий Александрович Титов**

ОТВЕТЫ Брянский государственный университет имени академика И.Г.Петровского

лист 4

Брянский государственный университет носит имя академика , Героя Социалистического Труда, Лауреата двух Сталинских премий, ректора МГУ имени М. В. Ломоносова (1951—1973) -Ивана Георгиевича Петровского

Задание: Необходимо взять интервью у работников или студентов данного учебного заведения.***Интервью снимаем на видео.***

необходимо:

- представиться (назвать имя, фамилия, школу);
- сказать с какой целью вы будете задавать вопросы (участники городской игры, по условиям игры….);
- задать вопросы (интервью записать на видео).

Получить ответы на вопросы:

1. **Что вы знаете об академике Иване Георгиевиче Петровском?**

Советский математик, ректор МГУ имени М. В. Ломоносова (1951—1973). Академик АН СССР, Герой Социалистического Труда, Лауреат двух Сталинских премий.

2.Почему **его именем назван ВУЗ?**

Уроженец Севска

3.Где установлен бюст И.Г. Петровскому.
В холле 1 этажа главного корпуса

Эмблема БГУ ***Вопрос: Что обозначают даты на ленте, которая обвивает лавровую ветвь?*** **1930 –Дата образования - Новозыбковскийгосударственный педагогический институт - НГПИ** **1976 – переезд института из Новозыбкова в Брянск и переименование в Брянский государственный педагогический институт** **2001 – переименование в Брянский государственный университет** ***Задание: Фото на фоне эмблемы***	
МБУДО Детско-юношеская спортивная школа «Олимп» В школе реализуются программы по: пауэрлифтингу, кикбоксингу, хоккею с шайбой, каратэ, боксу, тяжелой атлетике, горнолыжному спорту, лыжным гонкам, спортивному ориентированию, адаптивной физической культуре, велоспорту BMX. **Вопрос: Как иначе называется пауэрлифтинг?** **Ответ: силовое троеборье** ***Задание: фото на фоне здания.***	
ГАПОУ «Брянский медико-социальный техникум имени академика Н. М. Амосова» ***Перед Вами эмблема техникума.*** ***Вопрос?*** ***1.Что означает дата 1923?*** **Ответ: Год создания техникума** Техникум в 2006, 2007, 2008 и 2010 получал награды войдя в топ «100 лучших ссузов России» ***Вопрос?*** 1. ***Какой медалью был награждён техникум, войдя в топ «*100 лучших ССУЗов России*»?*** **Ответ: медалью «Европейское качество»**	
Брянское государственное училище (колледж) олимпийского резерва ***Вопрос: В каком году построено здание училища?*** А. 1973 Б. 1985 **В. 1990** ***Задание: фото на фоне здания.***	

Брянский филиал Российский экономический университет им. Г.В. Плеханова Брянский филиал РЭУ им. Г.В. Плеханова является единым образовательным комплексом «техникум-университет»,который ведет подготовку специалистов по программам СПО и программам ВО. ***Вопрос?*** Расшифруйте ВО- **высшего образования** СПО**- среднего специального образования** Какое число филиалов университета открыто в России и за рубежом? **Ответ: 22** **Задание. фото на фоне здания**	
ГАПОУ **«Брянский транспортный техникум» (БТТ)** Брянский вечерний машиностроительный техникум - далёкий предшественник Брянского транспортного техникума, имел филиалы при заводе "Волна революции" (г.Новозыбков), при Брянском заводе "Строймашина", при Жуковском велосипедном заводе.Сегодня техникум также имеет филиал. ***Вопрос: Укажите его прежнее название, место нахождения.*** **Ответ: учебно- индустриальный техникум имени Героя России А.В. Рассказы, г. Унеча Брянской обл.** Какое отношение имеет представленный логотип к БТТ **Ответ: ранее так назывался техникум** ***Задание: фото на фоне здания.***	

Городская краеведческая игра «Город юный, город древний – 2019 год»

Наш любимый город Брянск имеет богатейшую историю, к которой каждый имеет непосредственное отношение. Руками наших предков он строился и укреплялся, демонстрируя всем свою значимость. Ведь изучить историю своего края – это, прежде всего, познать самого себя, осознать свою огромную роль в формировании нынешнего облика Брянска. Для понимания современного состояния человечества, его социальных учреждений, институтов, тех или иных областей культуры — нужно знать их историю. И никак нельзя ограничиваться общими знаниями об истории страны в целом, необходимо знать историю своего края, места, где ты родился и вырос.

16 лет краеведческая игра пробуждает у школьников и студентов интерес к изучению истории и архитектуры Брянска, стремление больше узнать о людях, оставивших добрый след в жизни родного города, понять, как формировалось лицо современного Брянска. В 2019 году краеведческая игра проводится во второй раз в Бежицком районе города Брянска, но впервые в рамках реализации грантового проекта «Мы помним», реализуемого под эгидой Президента Российской Федерации, предоставленного Фондом президентских грантов на развитие гражданского общества. Её составной частью является игра «Наследники Пересвета», в которой принимают участие команды высших и средних специальных образовательных организаций.

Тема игры - «Бежица на рубеже веков (конец XIX -начало XX веков)». Объекты игры связаны с деятельностью Брянского рельсопрокатного, железоделательного, сталелитейного и механического завода конца 19 - начала 20 столетия, история которого неразрывно связана с судьбой «пролетарской Бежицы».

Краеведческая игра проводится в форме пешеходного маршрута. На старте команды получают экспресс-опросники, после заполнения обменивают на пакет заданий по маршруту игры. В пакет заданий игры входит:

1.карта – схема района игры;

2. фрагмент плана Бежицы 1912 года с исправлениями 1917 года.

Цифрами, которые совпадают на карто-схеме и на фрагменте плана Бежицы 1912 г., обозначены объекты игры.

3. Бланк с указанием номеров объектов на карте и максимального количества баллов, которое может заработать команда на данном объекте.

4. Пакет карточек, каждая карточка пронумерована, её номер совпадает с номером на плане. На карточке даны информация из дневника жительницы Бежицы Анны Кузнецовой – Будановой (1898 – 1974), авторами игры точность воспроизведения дневниковых записей не соблюдена, допущены отступления и предположения. С другой стороны даны снимки Бежицы тех лет, указаны задания, вопросы для команд.

За каждый правильный ответ команда получает 1 балл, в том числе и за бонусные задания выставляется 1 балл.

За каждый правильно сделанный снимок, где представлена вся команда за исключением фотографа и объект хорошо узнаваем, команда получает – 3 балла.

Побеждает команда, набравшая наибольшее количество баллов за отведённое время игры.

Команда на старте знакомиться с полным пакетом заданий, самостоятельно определяет маршрут движения. На маршруте команда работает полным составом, передвижения между объектами на усмотрение команды с соблюдением правил дорожного движения и техники безопасности. На маршруте выставлены точки с бонусными заданиями, участие в которых добавит баллы в вашу копилку игры.

На карточках задания обозначаются:

- сделать фото команды (за исключением фотографа) на фоне указанного объекта (памятника, таблички, здания);

- ответить на вопрос, ответ записываем ручкой чётко и разборчиво;

- бонусные баллы, условия на месте

Контрольное время игры – 2 часа 40 минут.

Команда, не пришедшая на финиш по истечении контрольного времени (КВ), получает штрафные баллы (до 5 мин. – 3 балла, за каждую последующую минуту начисляется 1 балл), которые вычитаются из результата команды.

На финише команда предъявляет судьям фотоаппарат с отснятым материалом и маршрутную документацию с выполненными заданиями.

Финиш игры в здании Брянского государственного технического университета, где был представлен интерактивный квест по Бежице «Старый дом в новом времени», это мобильное приложение «Маугри».

Награждение проводилось по следующим номинациям:

- Экспресс- опросник «Государи на Брянской земле»,
- маршрут «Бежица на рубеже веков (конец XIX -начало XX веков)»,
- «Народные костюмы Брянской области»,
- «Визит Николая 2 в Бежицу»,
- «Страницы истории Брянского края».

Современная карта маршрута

Историческая карта маршрута

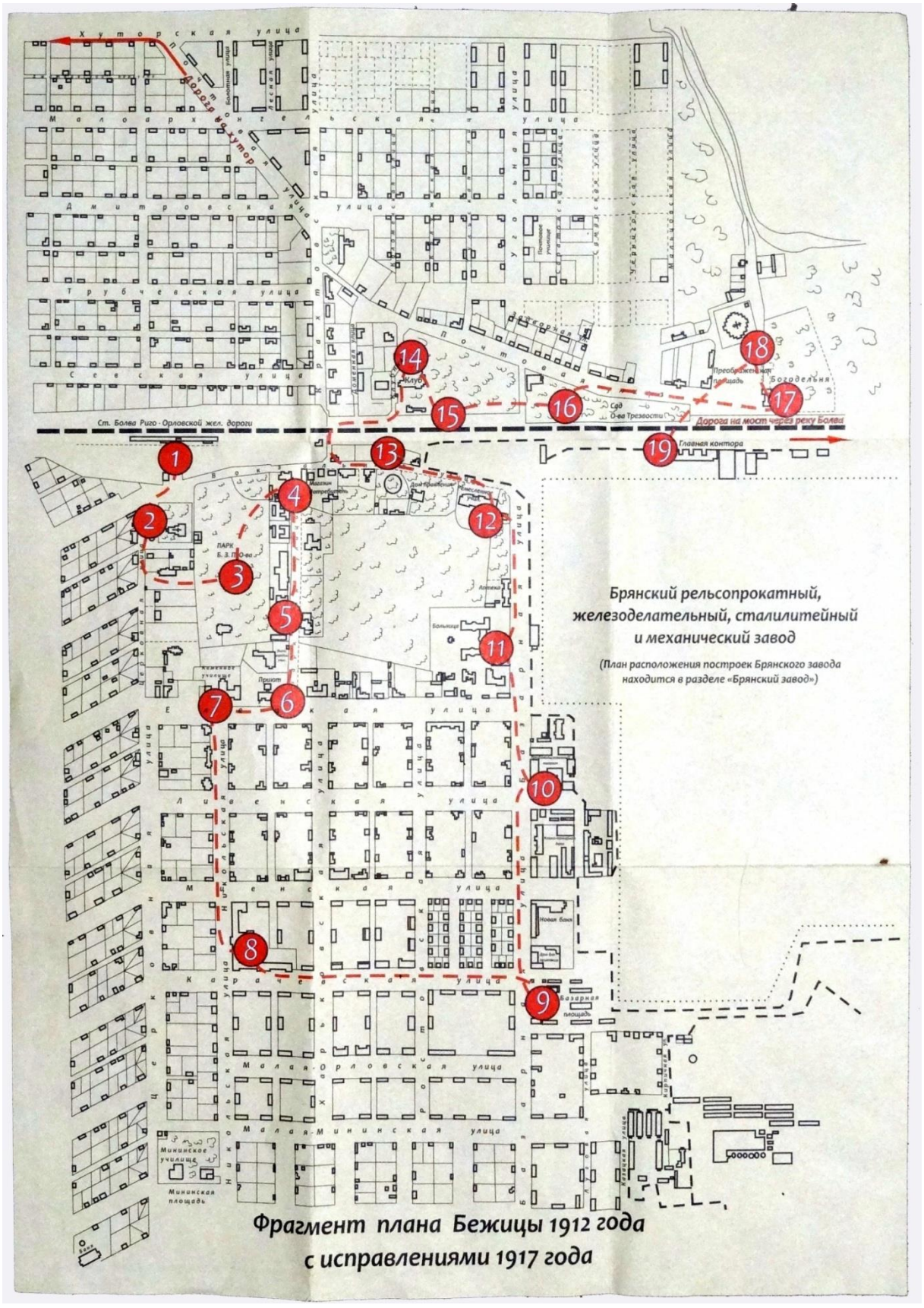

Экспресс-опросник «Государи на Брянской земле»

Команда образовательного учреждения _____

1. **Сопоставьте портрет государя с именем, годами правления, происходившими событиями в годы правления и народным «прозвищем»? (**перед информацией, поставьте цифру соответствующею портрету государя)

Пётр I Алексе́евич **Алекса́ндр I Павлович** **Никола́й II Алекса́ндрович**		
Царствовал 12 марта 1801 — 19 ноября 1825 **Царствовал 27 апреля 1682 — 28 января 1725** **Царствовал 20 октября 1894 — 2 марта 1917**		
С юных лет проявлял интерес к наукам и заграничному образу жизни. Развернул масштабные реформы российского государства и общественного уклада. Одним из главных достижений стало решение поставленной в XVI веке задачи: расширение территорий России в Прибалтийском регионе после победы в Великой Северной войне.		
Правление ознаменовано экономическим развитием России и одновременно ростом в ней социально-политических противоречий, революционного движения, вылившегося в революцию 1905—1907 годов и Февральскую революцию 1917 года; во внешней политике — экспансией на Дальнем Востоке, войной с Японией, а также участием России в военных блоках европейских держав и первой Мировой войне.		
Вёл успешные войны с Турцией (1806—1812), Персией (1804—1813) и Швецией (1808—1809). К России присоединены территории Восточной Грузии (1801), Финляндии (1809), Бессарабии (1812), бывшего герцогства Варшавского (1815). После Отечественной войны 1812 года возглавил в 1813—1814 годах антифранцузскую коалицию европейских держав. Был одним из руководителей Венского конгресса 1814—1815 годов и организаторов Священного союза.		
прозвище Кровавый **прозванный Вели́кий** **именовался Благословенный**		

2. О постройке и освящении Церкви Рождества Пресвятой Богородицы имеется указание в надписи на доске, закреплённой к решетке у хор: «По Высочайшему повелению Государя Императора Николая I освящена сия церковь в 1827 году, июня 1 дня, построенная в память пребывания в городе Брянске Императора Александра 1823 г., сентября 8 дня и Петра I в 1708 году попечением Брянского купца Афанасия Бабаева».

Назовите место (адрес), где построена данная церковь?

_____

_____

Выберите правильный ответ

3. Какое предприятие посещал Александр I в Брянске?

А) Брянский арсенал

Б) Брянский железоделательный завод

В) Богадельню

Как сейчас называются данные предприятия?

А) Брянский арсенал - _____?

Б) Брянский железоделательный завод - _____?

В) Богадельня - _____?

4. С какими событиями связан приезд Петра I в 1708 году в наши края?

А)С подготовкой к войне со шведами, насколько хорошо укреплён Брянск, выдержит ли натиск шведов при возможном наступлении

Б) С формированием флота Российского государства, Как идёт строительство стругов и галер на Брянских верфях

В)Со строительством и работой таможни, через которую проходили все товары, вывозимые за границу и идущие в Россию. По указу Петра I около трехсот жителей Брянска были записаны в купцы. На знаменитую Свенскую ярмарку съезжались купцы из Москвы, Ярославля, Калуги, Тулы, Прибалтики и других мест.

5. С какими событиями связан приезд Николая II в 1915 году в наши края?

А) С подготовкой к первой мировой войне, налаживанием выпуска в Брянске военной продукции.

Б) С участием России в первой мировой войне и необходимостью поставки для фронта снарядов, производство которых было налажено на Брянском заводе.

В)С нарастанием социально-политических противоречий в обществе и попыткой урегулировать данные противоречия.

Задания по краеведческому маршруту
«Бежица на рубеже веков (конец XIXначало XXвека)»

1. Станция «Болва»

Максимальный балл: 9 баллов

В июле 1914 г. в самый разгар лета разнеслась по Бежице весть, что началась война с немцами. В Бежице мобилизация рабочих проходила спокойно, конечно, не без того, чтобы по улице ходили провожаемые подвыпившие рабочие группами, с песнями. Правда, на станции при проводах мобилизованных бывали слёзы матерей, сестёр и жён. Эшелоны с солдатами пошли через Бежицу в сторону Риги. Солдаты проехали и скоро жизнь пошла своим чередом.

На заводе значительная часть рабочих получила освобождение от призыва вследствие того, что завод выполнял военные заказы.

Так прошёл весь год спокойно, но в сознании войны. У нас в гимназии была теперь особенность: на уроках рукоделия мы часто шили мужское бельё для солдат, а вне уроков готовили подарки солдатам по своему вкусу — либо шили кисеты для табака, либо подшивали носовые платки, либо обмётывали портянки из холста.

Вопрос 1 -1бл.: Как называлась железнодорожная станция? _____

Вопрос 2-1бл.: Где она располагалась? __ _____

Вопрос 3-1бл.: Почему современная станция носит название Ордженикидзеград?_____ _____

Задание 1- 3+3бл.: Сфотографируйтесь, стоя на мосту через железнодорожное полотно, на фоне современной железнодорожной станции «Ордженикидзеград» и на фоне современного здания стоящего на месте предполагаемой станции начала 19 века.

2. Малая церковь

Максимальный балл: 6 баллов

Пришла весна, и вскоре после Пасхи начались переходные экзамены. Мне надо было хорошо перейти в пятый класс, чтобы иметь надежду быть освобождённой от платы и в будущем. Поэтому, кроме прилежного повторения всего курса, я раненько утром в день каждого экзамена шла в малую церковь, там молилась Богу и ставила свечку чаще всего Николаю Угоднику, прося его помочь мне хорошо сдать экзамен.

Вопрос1- 1бл.:На церковной улице стояла церковь, которая в народе называлась малой. Назовите её? _____

Вопрос 2- 1бл.: Какую формуимел одноэтажный деревянный храм? Вид сверху. _____

Вопрос 3-1бл.: Какое здание сейчас стоит на месте бывшей церкви? _____

Задание1- 3бл.: Сфотографируйтесь на фоне современного здания, так

чтобы здание было узнаваемо.

3.Заводской парк

Максимальный балл: 50 баллов

«Самым большим праздником в Бежице был, конечно, Ильин день — 20 июля — праздник завода. Начинался он обедней в большой церкви. После обедни на поляне перед церковью служили молебен: устраивался престол и перед ним расстилался ковер. Вокруг престола выстраивались в виде каре члены Вольнопожарного общества в форме, они держали шнур, охраняя престол, а народ стоял позади них. Молебен всегда проходил под открытым небом и, как я помню, под палящим солнцем. После молебна был парад: пожарный обоз на лошадях в праздничной блестящей сбруе под бравурный марш духового оркестра проезжал галопом по поляне мимо публики и почти каждый год под раскаты грома. «Это — говорили у нас, — Илья-пророк катит по небу на колеснице». Жаркий день разряжался проливным дождём.

Вопрос 1-1бл.:По предложению В.Ф. Голубева было заложено и построено здание пожарной дружины. В 1898 годутам расположилось пожарное общество завода, состоящее из рабочих и служащих. Кем являлся В. Ф. Голубев?

_____

Вопрос 2-1бл.: Укажите адрес, где с конца 19и до начала 21века, располагаласьдружина «огнеборцев»? _____

Задание 1- 3бл.:Сфотографируйтесь на фоне современного здания, где ранее располагалась дружина «огнеборцев», так чтобы было понятно назначение здания.

Вопрос 3 - 1бл.:Для усиления средств Пожарного Общества завод предоставил им инициативу устройства народных развлечений, как летом, так и зимой в заводском народном парке. Что сейчас располагается на месте данного парка? _____

Задание 2 - 3бл.:Сфотографируйтесь на фоне современной открытой сцены.

Вопрос 4 - 6 бл.: Какие постройки были в парке, перечислите?

_____

Вопрос 5 - 3бл.: Какими сигналами пользовались смотрящие на вышке, предупреждая дружину о пожаре, днём и ночью?

_____

1 бонусное задание- 32 бл.:посетите здание БОМЦ «Народное творчество» или ранее Д/К БМЗ, 2 этаж музей этнографии и ремёсел и ответьте на вопросы.

4. Министерское училище

Максимальный балл: 20 баллов

Почти все мои подруги, которые хотели учиться дальше после окончания начальной школы, решили пойти учиться в двухклассное Министерское училище, где занятия были бесплатные, в отличие от женской гимназии, где была высокая плата за право учения, что было не по силам моим родителям.

Я узнала правила приёма, сама сочинила и подала прошение. «Знаний, полученных в начальной школе, мне недостаточно. Хочу дальше учиться»,— писала я в прошении. Но так как охотников дальше учиться бесплатно было много, то на осень были назначены приёмные экзамены. Конкурс был большой, на одно место претендовало примерно четыре-пять кандидатов. На этот раз лето было для меня беспокойное, всё время мучил вопрос: попаду ли в Министерское училище?

По окончании этого двухклассного училища можно было рассчитывать поступить сразу в четвёртый класс гимназии, подготовив некоторые предметы до гимназических требований.

В училище мы ходили мимо сада-парка заводского пожарного общества, затем на Парковую улицу, на которой находились гостиница Брянского завода и женская гимназия Министерства народного просвещения, напротив магазин «Потребитель».

Вопрос 1-1бл.: Что сейчас находиться на месте Министерского училища? _____

Задание 1-3бл.: Сфотографируйтесь на фоне современного здания. В заводской описи

1903 года говорится, что каменное двухэтажное здание, предназначено для гостей завода и имеет номера для приезжих членов акционерного общества, обставленные дорогой мебелью, сервированные посудой и ничем не отличались от гостиничных номеров Петербурга и Москвы. При заводской гостинице работал буфет. **Вопрос 2-1бл.**:Что сейчас находится на месте гостиницы**?** _____

Вопрос 3-2бл.:Заводское начальство в 1903 году разрешило администрации гостиницы в одной из комнат поставить _____ для просмотра _____ картин. Что разрешили установить в гостинице, какие картины смотрели?

Вопрос 4-1бл.:В каком архитектурном стиле построена гостиница?_____



Задание 2-3бл.:Сфотографируйтесь на фоне гостиницы, в ракурсе исторического снимка.

Задание 3-3бл.: Сфотографируйтесь на фоне таблички, подтверждающей, что здание относится к памятникам архитектуры

Вопрос 5-1бл.: В конкурентной борьбе с кооперативными лавками заводские торговые заведения не только улучшили качество продаваемых товаров, а также _____. Закончите предложение.

Вопрос 6-1бл.: Что сейчас находится на месте здания потребительского кооператива? _____

Вопрос 7-1бл.: Кто был первым председателем правления потребительского кооператива? _____

Задание 4-3бл.: Сфотографируйтесь на фоне современного здания стоящего на месте магазина, так чтобы было читалось, какое учреждение там размещено.

6. Детский приют

Максимальный балл: 6 баллов

Вместе с нами занимались девочки из приюта

Строился приют по инициативе заводского благотворительного общества, председателем которого в то время был известный заводской врач Н. А. Михайлов. В приют принимались сироты - дети бывших членов благотворительногообщества, чьи родители погибли от несчастных случаев на заводе.

Вопрос1-1бл.: Что сейчас находиться на месте бывшего приюта?_____

Вопрос 2-2бл.: В каком году был открыт приют для детей и кто архитектор данного здания?_____

_____

Задание1- 3бл.: Сфотографируйтесь на фоне здания в данном ракурсе.

7. Каменная школа

Максимальный балл: 11 баллов

….Как только мне исполнилось семь лет (1905год), мать записала меня в начальную Каменную школу, которая считалась у нас центральной. Занятия начинались по всем школам молебном 16 августа. И вот стала я ходить в школу к учительнице Ольге Ивановне Воскресенской. Наш класс состоял из вновь принятых, хорошо подготовленных девочек. В классе было человек сорок— пятьдесят. Класс был большой, высокий, с большими окнами. Парты стояли рядами, одна за другой. Семь парт составляли ряд. Всего в классе было три ряда, между ними узкий проход. За каждой партой сидело по три ученицы.

С утра Ольга Ивановна занималась с нами чтением, грамматикой и арифметикой, а затем чистописанием и списыванием из книг или грамматическими упражнениями. Так потекли школьные дни. Я быстро освоилась со школой, привыкла к ней и перезнакомилась с одноклассницами.

Каменная школа открыта в 1900 году, кроме классных помещений имелся зал, вмещавший до 1500 человек и предназначенный для устройства в нем спектаклей, концертов, чтений и других развлечений для народа и учеников. Здание каменной школы разрушено в годы Великой Отечественной войны.

Вопрос 1-1бл.Каменная школа открыта в юбилейный для завода год. Сколько лет исполнялось заводу в тот год? _____

Вопрос 2-1бл.: Что сейчас находиться на месте бывшей школы?

_____

Вопрос 3-1бл.: Как сейчас называется Елецкая улица, на которой раньше находилось каменная школа? _____

Вопрос 4-1бл.: От каменной школы начиналась Никольская улица.Как сейчас называется Никольская улица? _____

Вопрос 5-1б:Рядом со школой по инициативе М.К.Тенишевой было построено здание, которое до наших дней не сохранилось, но сохранились фото. Назовите это здание_____

Задание1-3бл.: Сфотографируйте современную Никольскую улицу, стоя на месте предполагаемой каменной школы.

Задание2-3бл.: Сфотографируйте команду на фоне данного дома.

8. Гимназия

Максимальный балл: 35 баллов

Прошли пятый, шестой и седьмой классы как в сладком сне. Обогащалось наше познание, развивались чувства к хорошему, доброму. Мы были в седьмом классе, когда началась в России революция (февраль 1917 года).

Гимназию (семь классов) я закончила отлично, с золотой медалью. Передо мной встал вопрос: специализироваться ли уже на учительницу или готовиться на аттестат зрелости, чтобы поступить в университет? Надо сказать, что программа женских гимназий отставала от мужских. Университет же требовал аттестат зрелости, который давала мужская гимназия. Я хотела учиться дальше на врача, поэтому и пошла готовиться на аттестат зрелости. Таких как я, оказалась большая половина. Другая половина пошла в восьмой класс готовиться на учительниц народной школы.

Вопрос 1-1бл.: По чьей инициативе было построено здание женской гимназии? _____

Вопрос 2-1бл.: Что сейчас располагается в здании бывшей женской гимназии, здании бывшей мужской гимназии? _____

Вопрос 3-1бл.: В годы первой мировой войны здание женской гимназии было частично переоборудовано? Что располагалось в здании гимназии после реконструкции? _____

Вопрос 4-2бл.: После реконструкции, у входа в здание гимназии была построена платформа. Что за платформа, с какой целью построена?

_____

Задание1-3 бл.: Сфотографируйтесь на крыльце бывшей женской гимназии.

Задание2-3 бл.: Сфотографируйтесь на крыльце бывшей мужской гимназии.

2 бонусное задание - 21 бл.: посетите холл 1 корпуса БГТУ, где размещено документально- художественное панно, сюжет которого связан с приездом императора Николая II в Бежицу в разгар Первой мировой войны 20 апреля 1915 года и ответьте на вопросы.

Задание 3-3 бл.: Сфотографируйтесь на углу мужской гимназии с предложенного ракурса

9. Базарная площадь

Максимальный балл: 17 баллов

К часам работы на заводе многое приспосабливалось в жизни Бежицы. Так, к шести часам утра булочная была полна свежеиспечённых булок, баранок, калачей и хлебов разных сортов и рабочие, идя на работу, могли по дороге купить себе нужное. Я любила смотреть, как быстро и старательно обслуживали продавцы покупателей. Также было и с баней: она была открыта для мужчин допоздна по субботам и в кануны праздников. Базарная площадь оживала с рассветом и только к позднему вечеру жизнь замирала, площадь становилась безлюдной.

Вопрос 1-1бл.: Что сейчас находиться на месте базарной площади?

_____

Вопрос 2-1бл.: Почему в сквере стоит церковная лавка?

_____

Задание 1-3бл.: На месте бывшей часовни сегодня установлен памятник бежицким революционерам. Сделайте фото на фоне памятника.

Задание 2-3бл.: Название часовни сохранилось в названии домового храма (церкви), сфотографируйтесь у входа в храм, так чтобы было читаемо название.

Вопрос3-1бл.:Как называется домовой храм?_____

Вопрос 4-1бл.:Базар располагался в районе, где строилось много жилых домов. Какая современная улица отходит от бывшей базарной площади, максимально сохранила жилые постройки рабочих завода того времени? _____

Вопрос 5-1бл.Двигаемся по бывшей базарной улице в сторону 1 проходных завода. Назовите здание, построенное в начале XX века, архитектура - подражание формам дворцовых сооружений Руси XVII века, до настоящего времени используется по своему прямому назначению_____

Задание 3-3бл.: Сделайте фото на фоне этого здания, так чтобы было читаемо название организации.

Задание 4-3бл.: Сделайте фото на фоне бывшей хлебопекарни.

10. Брянский машиностроительный завод

Максимальный балл: 24 балла

Уроженка Бежицы профессор медицины, врач-педиатр А. К. Кузнецова-Буданова в книге «И у меня был край родной» пишет: «Выросла Бежица благодаря построенному там большому машиностроительному заводу Брянского акционерного общества. Завод выпускал паровозы, вагоны, подъемные краны, сельскохозяйственные машины, военное снаряжение и т.д. Работало на заводе от двенадцати до пятнадцати тысяч рабочих. Заводские постройки раскинулись ближе к месту слияния Болвы и Десны, поселок же протянулся широкой полосой вдоль левого северного берега Десны, на возвышенности, на запад от завода. Спуск на заливной луг поймы реки Десны был крутой».

Задание 1-3бл.:Сфотографируйтесь на фоне первых проходных завода.

Задание 2-11бл.:В тексте заполните пробелы

18___3 АО «Брянский рельсопрокатный железоделательный и механический завод»

1918 _____«Брянский рельсопрокатный железоделательный и механический завод»

1923 _____ Брянский завод «Профинтерн»

1924 Брянский государственный _____завод «Красный Профинтерн»

1936 _____ паровозо-вагонностроительный завод «Красный Профинтерн»

1943 Бежицкий государственный _____ завод«Красный Профинтерн»

1943 Брянский паровозостроительный завод

1956 Брянский машиностроительный завод

1966 Брянский _____ машиностроительный завод

1973 Брянский _____ и трудового Красного Знамени машиностроительный завод

1976 _____ ордена В.И. Ленина и трудового Красного Знамени «Брянский машиностроительный завод»

1981 Производственное объединение ордена В.И. Ленина и трудового Красного Знамени «Брянский машиностроительный завод _____»

19_____Акционерное общество « Брянский машиностроительный завод».

Задание3-3бл.:Во время посещения завода Императором, он прошёл по всем цехам. Посетил общезаводскую выставку, устроенную специально к высочайшему визиту в новом здании цеха металлических конструкций и крановом. В настоящем это здание сохранилось, хорошо видно с улицы.

Сделайте фото команды на фоне цеха металлических конструкций. Должна быть видна характерная надпись.

Задание 4-6 бл.:После посещения заводской выставки и музея Государь прошел в больницу завода. После больницы государь отправился в хлебопекарню, следующим его величество посетил два рабочих дома, лазарет Всероссийского земского союза на 400 кроватей. Нанесите на современную карту города выше указанный маршрут Императора.

Вопрос 1-1бл.:Как долгое время после приезда царя бежичане называли Мценскую улицу?

11. Заводская больница

Максимальный балл: 12 баллов

Старший врач больницы - Николай Алексеевич Михайлов, пользовался большим авторитетом не только среди больных и медперсонала, но и среди всего населения Бежицы. Он был председателем заводского благотворительного общества, часто бывал в народной столовой, детском приюте завода, преподавал гигиену в женской гимназии, выступал с лекциями среди населения, в обществе трезвости, входил в заводское общество взаимного кредита.

Накануне первой мировой войны больница Брянского завода была одним из лучших уездных лечебных учреждений Орловской губернии.

Вопрос1-1бл:При заводском поселке рельсопрокатного завода продолжительное время не было больницы. Когда была построена больница?

_____

Вопрос 2-1бл: Во время приезда Императора в Бежицу, посещал ли он заводскую больницу? _____

Вопрос 3-2 бл.: Когда и кому император во время визита в Бежицу вручил боевые награды – медали «За храбрость» на георгиевских лентах?

_____

Вопрос 4-1бл: Здания новой больницы рассчитано на 110 кроватей, строилось в первом десятилетии 19 века. В комплекс больницы также входили здание аптеки, амбулатории, родильного приюта, стоматологическое отделение и помещение для минеральных вод, а также хирургический корпус - по своим возможностям имел мало равных в России тех лет. В перечень больничного комплекса включен лишний объект, назовите его?

_____

Вопрос 5-1бл: В 1919 году, для решения возникших проблем, при больнице были открыты курсы. Кого готовили на данных курсах?

_____

Задание 1-3бл:Сфотографируйте здание больницы с данного ракурса



Задание 2-3бл:Сфотографируйтесь на фоне бывшего корпуса заводской больницы с включением в снимок вывески учреждения располагающего в нём.

12.Ремесленное училище

Максимальный балл: 16 баллов

«Для подготовки квалифицированных техников имелось ремесленное училище для мальчиков. Естественно, что завод уделял ему особое внимание. Четырёхлетнее обучение в нём было бесплатное. Это училище выпускало хороших мастеров».

В то время Брянский рельсопрокатный железоделательный и механический завод, был одним из ведущих промышленных предприятий России.

Вопрос 1 -1бл.: Кто был инициатором создания в Бежицеремесленного училища?_____

Вопрос 2 - 1бл.: На территории какой площади находилась первая ремесленная школа? _____

Вопрос 3 - 1бл.: Училище 200 человек было построено в частном парке. Кому конкретно принадлежала территория парка, на которой было построено здание училища?_____

Вопрос 4 - 1бл.: На постройку каменного здания ремесленного училища на 200 человек безвозмездно петербургским управлением были выделены 100 тысяч рублей, а содержалось училище за счет процентов с капитала пожертвованных князем В.Н. Тенишевым и акционерным обществом Брянского завода, кроме этого завод бесплатно предоставлял дрова, электроэнергию, квартиры служащим школы и медицинскую помощь. Какая сумма была пожертвованных князем В.Н. Тенишевым и акционерным обществом завода на содержание училища? _____

Вопрос 5 -1бл.: Что сейчас находится в здании училища?

_____

Задание 1-3бл.: Сфотографируйтесь у таблички, где указан год постройки училища и сказано, что данное здание является памятником архитектуры

Задание 2-3бл.:Сфотографируйтесь у бюста, установленного перед входом в учебное заведение.

Вопрос 6 - 2бл.: Кому установлен бюст и как связан данный человек с ремесленным училищем? _____

Задание 3-3бл.: Сфотографируйтесь у исторического здания ремесленного училища с предложенного ракурса.

14.Здание Общественного собрания

Максимальный балл: 20 баллов

После окончания Министерского училища, я поступила в женскую гимназию. За право учения в гимназии брали шестьдесят пять рублей в год, а отец мой получал тридцать пять рублей в месяц.

Владимир Михайлович (директор министерского училища) посоветовал мне подать прошение в Благотворительное общество, которое располагалось в здании общественного собрания, о внесении за меня платы за учение в гимназии. Я, не медля, сделала это, и меня освободили от платы. С этих пор я заранее каждые полгода подавала прошение в Благотворительное общество, и меня всегда освобождали от платы. Конечно, меня всякий раз волновал вопрос, освободят ли и на следующие полгода, или нет?

23 мая 1894 года был открыт Дом общественного собрания. Княгиня выхлопотала у правления завода разрешение о передаче огромного дома площадью 297 кв. сажен Общественному собранию. Здесь располагались библиотека, театральная сцена, всевозможные кружки, был разбит парк. Рабочие почитали за честь приглашение на устраивавшиеся там балы.В парке были разбиты террасы, стояли веранды, спортивные снаряды и теннисный корт, его покрытие считалось одним из лучших в России.

Вопрос1-1бл.: Чей дом для передачи Общественному собранию выхлопотала княгиня?_____

Вопрос 2-1бл.:Чей портрет украшал здание Общественного собрания вплоть до 1917 года? _____

Вопрос3-1бл.:Что сейчас располагается в бывшем здании Общественного собрания? _____

Вопрос 4-1бл.: Кроме здания (сильно изменённого) бывшего Общественного собрания, что ещё сохранилось с той поры? _____

Задание 1-3бл.:Сфотографируйтесь на ступеньках бывшего здания Общественного собрания.

Задание 2-3бл.: Часто в парке устраивали балы. Сделайте красивое постановочное фото в парке «Бал».

3 бонусное задание- 10бл.: Посетите здание Центра внешкольной работы г. Брянска и дайте ответы на вопросы по истории формирования Бежицы, Брянска и Брянской области

17.Богодельня

Максимальный балл: 5 баллов

Напротив храма — седьмые проходные завода, а по дороге — здание богадельни. Здесь самое людное место, заводчане торопятся на работу или с работы. Больные и престарелые обитатели богадельни не чувствуют себя выброшенными из жизни: они словно в центре внимания.

Вопрос1-1бл.:Назовите архитектора проектировавшего здание богадельни?

_____

Вопрос 2-1бл.:Как сейчас называются данные учреждения?_____

Задание 1-3бл.:Сфотографируйтесь с платформы на фоне бывшего здания богадельни.

19. Платформа

Максимальный балл: 10 баллов

Но вот весною 1915г. стало известно, что в Бежицу приедет Император Николай Александрович. Началась подготовка к этому приезду.

Слыхала я, что на заводе хорошие специалисты-рабочие делали миниатюрные модели продукции завода: паровоз, боевую башню и др. У нас же в гимназии начальница усиленно старалась ввести форменную шляпу для всех гимназисток. До этого у нас были обязательны только форменные платья. К лету этого года ввели и форменную шляпу: соломенную, с небольшими прямыми полями и таким же прямым дном. Наши старшие гимназистки «фыркали» на такую форму, но всё же стали её носить.

Для встречи Царя была устроена специальная платформа и павильон возле главной конторы напротив Большой церкви.

Вопрос1-1бл.: Как сейчас называется железнодорожная остановка, где в 1915 году была устроена специальная платформа для приёма царя? _____

Вопрос 2-1бл.: Сколько поездов прибыло на платформу во время приезда Императора НиколаяАлексеевича? _____

Вопрос 3-1бл.: Что с собой привёз Николай II для осмотра завода и прилегающих территорий? _____

Вопрос 4-1бл.:При встрече НиколаюАлексеевичуна платформе вручили хлеб-соль и пожертвования в сумме 7 тысяч рублей. В чью пользу были сделаны пожертвования? _____

Задание 1-3бл.: Сфотографируйтесь на фоне названия современной железнодорожной остановки.

Задания 2-3бл.: Сфотографируйтесь на фоне бывших 7-х проходных завода.

18. Большой Храм

Максимальный балл: 12 баллов

Мы, гимназистки и гимназисты, ученики всех школ, старейшие рабочие в выданных им кафтанах, вся администрация завода и духовенство были выстроены на поляне, где всегда бывали парады. Все были радостно настроены. Было много-много народа. Сначала прошёл пробный поезд. Потом подошёл царский поезд, ведомый высшим железнодорожным начальством

Всем было хорошо известно благочестивое правило государя всегда посещать храмы тех мест, где ему приходилось бывать. Так и в этот раз, прежде чем отправиться на осмотр Брянского завода, император Николай Александрович посетил красивый и величественный Преображенский храм Бежицы. И, как только государь с чинами свиты ступил на красную дорожку, вся Бежица в едином порыве под музыку двух духовых оркестров грянула гимн «Боже, Царя храни!».

Вопрос 1-1бл.:Что сейчас находиться на месте Преображенской площади?

_____

Вопрос 2-2бл.:Спасо-Преображенский храм дивной красоты считался гордостью поселка. Что в дальнейшем было размещено в храме, и когда он был утрачен? _____

Вопрос 3-1бл.: При храме существовала образцовая в уезде церковно-приходская школа, построенная в 1894 году. В данных школах изучались следующие предметы:Закон Божий, церковное пение, письмо, арифметику, чтение, историю. Какой из перечисленных предметов изучался только на 2 году двухклассных школ?_____

_____

Вопрос 4-2бл.: Когда взамен утраченного в Бежице был построен новыйПреображенский храм? _____

Новый храм стоит на месте утраченного храма? _____

Задание 1-3бл.: Сфотографируйтесь на фоне бывшего заводоуправления.

Задание 2-3бл.:Сфотографируйтесь на фоне нового Преображенского храма Бежицы.

Вопросы с ответами по краеведческому маршруту

«Бежица на рубеже веков (конец XIXначало XXвека)»

1. Станция «Болва»

Максимальный балл: 9 баллов

В июле 1914г. в самый разгар лета разнеслась по Бежице весть, что началась война с немцами. В Бежице мобилизация рабочих проходила спокойно, конечно, не без того, чтобы по улице ходили провожаемые подвыпившие рабочие группами, с песнями. Правда, на станции при проводах мобилизованных бывали слёзы матерей, сестёр и жён. Эшелоны с солдатами пошли через Бежицу в сторону Риги. Солдаты проехали и скоро жизнь пошла своим чередом.

На заводе значительная часть рабочих получила освобождение от призыва вследствие того, что завод выполнял военные заказы.

Так прошёл весь год спокойно, но в сознании войны. У нас в гимназии была теперь особенность: на уроках рукоделия мы часто шили мужское бельё для солдат, а вне уроков готовили подарки солдатам по своему вкусу — либо шили кисеты для табака, либо подшивали носовые платки, либо обмётывали портянки из холста.

Вопрос 1 -1бл.: Как называлась железнодорожная станция?(**Болва)**

Вопрос 2-1бл.: Где она располагалась? (**На месте дома Тимошковых)**

Вопрос3-1бл.: Почему современная станция носит название Ордженикидзеград?
(После революции непродолжительное время так называлась Бежица, это название исторически закрепилось только за станцией)

Задание 1- 3+3бл.: Сфотографируйтесь, стоя на мосту через железнодорожное полотно, на фоне современной железнодорожной станции «Ордженикидзеград» и на фоне современного здания стоящего на месте предполагаемой станции начала 19 века.

2. Малая церковь

Максимальный балл: 6 баллов

Пришла весна, и вскоре после Пасхи начались переходные экзамены. Мне надо было хорошо перейти в пятый класс, чтобы иметь надежду быть освобождённой от платы и в будущем. Поэтому, кроме прилежного повторения всего курса, я раненько утром в день каждого экзамена шла в малую церковь, там молилась Богу и ставила свечку чаще всего Николаю Угоднику, прося его помочь мне хорошо сдать экзамен.

Вопрос1- 1бл.:На церковной улице стояла церковь, которая в народе называлась малой. Назовите её? **(Церковь во имя святых правоверных апостолов**
Петра и Павла)
Вопрос 2- 1бл.:Какую формуимел одноэтажный деревянный храм? Вид сверху.
(форму креста)
Вопрос 3-1бл.: Какое здание сейчас стоит на месте бывшей церкви?
(Общежитие БМЗ, напротив рынка)

Задание1- 3бл.: Сфотографируйтесь на фоне современного здания, так чтобы здание было узнаваемо.

3.Заводской парк

Максимальный балл: 50 баллов

«Самым большим праздником в Бежице был, конечно, Ильин день — 20 июля — праздник завода. Начинался он обедней в большой церкви. После обедни на поляне перед церковью служили молебен: устраивался престол и перед ним расстилался ковер. Вокруг престола выстраивались в виде каре члены Вольнопожарного общества в форме, они держали шнур, охраняя престол, а народ стоял позади них. Молебен всегда проходил под открытым небом и, как я помню, под палящим солнцем. После молебна был парад: пожарный обоз на лошадях в праздничной блестящей сбруе под бравурный марш духового оркестра проезжал галопом по поляне мимо публики и почти каждый год под раскаты грома.«Это — говорили у нас, — Илья-пророк катит по небу на колеснице». Жаркий день разряжался проливным дождём.

Вопрос 1-1бл.:По предложению В.Ф. Голубева было заложено и построено здание пожарной дружины. В 1898 году там расположилось пожарное общество завода, состоящее из рабочих и служащих. Кем являлся В. Ф. Голубев? **(председателем акционерного общества завода)**
Вопрос 2-1бл.: Укажите адрес, где с конца 19и до начала 21века, располагалась дружина «огнеборцев»?**(ул.Ульянова д.16)**

Задание 1-3бл.:Сфотографируйтесь на фоне современного здания, так чтобы было понятно назначение здания.

Вопрос 3-1бл.:Для усиления средств Пожарного Общества завод предоставил им инициативу устройства народных развлечений, как летом, так и зимой в заводском народном парке. Что сейчас располагается на месте данного парка? **(Майский парк)**

Задание 2-3бл.:Сфотографируйтесь на фоне современной открытой сцены.

Вопрос4-6 бл.: Какие постройки были в парке, перечислите?

(Летний театр, открытая сцена, площадка для танцев, карусель, павильон, кинематограф и прочее)

Вопрос 5-3бл.: Какими сигналами пользовались смотрящие на вышке, предупреждая дружину о пожаре, днём и ночью?

(Днем - постовой запускал в небо воздушные шары, а ночью зажигал огонь, при этом трубил в сигнальный рожок)

1 бонусное задание- 32 бл.:посетите здание БОМЦ «Народное творчество» или ранее Д/К БМЗ, 2 этаж музей этнографии и ремёсел и ответьте на вопросы.

4.Министерское училище

Максимальный балл: 20 баллов

Почти все мои подруги, которые хотели учиться дальше после окончания начальной школы, решили пойти учиться в двухклассное Министерское училище, где занятия были бесплатные, в отличие от женской гимназии, где была высокая плата за право учения, что было не по силам моим родителям.

Я узнала правила приёма, сама сочинила и подала прошение. «Знаний, полученных в начальной школе, мне недостаточно. Хочу дальше учиться»,— писала я в прошении. Но так как охотников дальше учиться бесплатно было много, то на осень были назначены приёмные экзамены. Конкурс был большой, на одно место претендовало примерно четыре-пять кандидатов. На этот раз лето было для меня беспокойное, всё время мучил вопрос: попаду ли в Министерское училище?

По окончании этого двухклассного училища можно было рассчитывать поступить сразу в четвёртый класс гимназии, подготовив некоторые предметы до гимназических требований.

В училище мы ходили мимо сада-парка заводского пожарного общества, затем на Парковую улицу, на которой находились гостиница Брянского завода и женская гимназия Министерства народного просвещения, напротив магазин «Потребитель».

Вопрос 1-1бл.: Что сейчас находиться на месте Министерского училища? **(На этом месте стоит дом)**

Задание 1-3бл.: Сфотографируйтесь на фоне современного здания.

В заводской описи 1903 года говорится, что каменное двухэтажное здание, предназначено для гостей завода и имеет номера для приезжих членов акционерного общества, обставленные дорогой мебелью, сервированные посудой и ничем не отличались от гостиничных номеров Петербурга и Москвы.При заводской гостинице работал буфет.

Вопрос 2-1бл.:Что сейчас находится на месте гостиницы? **(Та же гостиница)**

Вопрос 3-2бл.: Заводское начальство в 1903 году разрешило администрации гостиницы в одной из комнат поставить **(кинематограф)** для просмотра **(кинокартин).**Что разрешили установить в гостинице, какие картины смотрели?

Вопрос 4-1бл.:В каком архитектурном стиле построена гостиница? **(зрелый классицизм)**

Задание 2-3бл.:Сфотографируйтесь на фоне гостиницы, в ракурсе исторического снимка.

Задание 3-3бл.: Сфотографируйтесь на фоне таблички, подтверждающей, что здание относится к памятникам архитектуры.

Вопрос 5-1бл.: В конкурентной борьбе с кооперативными лавками заводские торговые заведения не только улучшили качество продаваемых товаров, а также **(снизили цены на них)**. Закончите предложение.

Вопрос 6-1бл.: Что сейчас находится на месте здания потребительского кооператива? **(Ресторан Журавли)**

Вопрос 7-1бл.: Кто был первым председателем правления потребительского кооператива?**(Тенишев Вячеслав Николаевич (1844-1903)**

Задание 4-3бл.: Сфотографируйтесь на фоне современного здания стоящего на месте магазина, так чтобы было читалось, какое учреждение там размещено.

6. Детский приют

Максимальный балл: 6 баллов

Вместе с нами занимались девочки из приюта

Строился приют по инициативе заводского благотворительного общества, председателем которого в то время был известный заводской врач Н. А. Михайлов. В приют принимались сироты - дети бывших членов

благотворительного общества, чьи родители погибли от несчастных случаев на заводе.

Вопрос1-1бл.: Что сейчас находиться на месте бывшего приюта?

(Школа искусств, носящая имя уроженки Бежицы известной пианистки Т. П. Николаевой)

Вопрос 2-2бл.: В каком году был открыт приют для детей и кто архитектор данного здания?

(Открытие приюта по проекту известного брянского архитектора Николая Андреевича Лебедева для детей состоялось в 1905 году.)

Задание1- 3бл.: Сфотографируйтесь на фоне здания в данном ракурсе.

7. Каменная школа

Максимальный балл: 11 баллов

….Как только мне исполнилось семь лет (1905год), мать записала меня в начальную Каменную школу, которая считалась у нас центральной. Занятия начинались по всем школам молебном 16 августа. И вот стала я ходить в школу к учительнице Ольге Ивановне Воскресенской. Наш класс состоял из вновь принятых, хорошо подготовленных девочек. В классе было человек сорок— пятьдесят. Класс был большой, высокий, с большими окнами. Парты стояли рядами, одна за другой. Семь парт составляли ряд. Всего в классе было три ряда, между ними узкий проход. За каждой партой сидело по три ученицы.

С утра Ольга Ивановна занималась с нами чтением, грамматикой и арифметикой, а затем чистописанием и списыванием из книг или грамматическими упражнениями. Так потекли школьные дни. Я быстро освоилась со школой, привыкла к ней и перезнакомилась с одноклассницами.

Каменная школа открытав 1900 году, кроме классных помещений имелся зал, вмещавший до 1500 человек и предназначенный для устройства в нем спектаклей, концертов, чтений и других развлечений для народа и учеников. Здание каменной школы разрушено в годы Великой Отечественной войны.

Вопрос 1-1бл.Каменная школа открыта в юбилейный для завода год. Сколько лет исполнялось заводу в тот год? **(25 лет)**

Вопрос 2-1бл.: Что сейчас находиться на месте бывшей школы?

(На этом месте в наши дни находится сквер имени А. А. Морозова)

Вопрос 3-1бл.: Как сейчас называется Елецкая улица, на которой раньше находилось каменная школа? **(Комсомольская улица)**

Вопрос 4-1бл.: От каменной школы начиналась Никольская улица.Как сейчас называется Никольская улица? **(Бульвар 50-лет Октября)**

Вопрос 5-1б:Рядом со школой по инициативе

М.К.Тенишевой было построено здание, которое до наших дней не сохранилось, но сохранились фото. Назовите это здание. **(Народная столовая)**

Задание1-3бл.: Сфотографируйте современную Никольскую улицу, стоя на месте предполагаемой каменной школы.

Задание2-3бл.: Сфотографируйте команду на фоне данного дома.

8 Гимназия

Максимальный балл: 35 баллов

Прошли пятый, шестой и седьмой классы как в сладком сне. Обогащалось наше познание, развивались чувства к хорошему, доброму. Мы были в седьмом классе, когда началась в России революция (февраль 1917 года).

Гимназию(семь классов) я закончила отлично, с золотой медалью. Передо мной встал вопрос: специализироваться ли уже на учительницу или готовиться на аттестат зрелости, чтобы поступить в университет? Надо сказать, что программа женских гимназий отставала от мужских. Университет же требовал аттестат зрелости, который давала мужская гимназия. Я хотела учиться дальше на врача, поэтому и пошла готовиться на аттестат зрелости. Таких как я, оказалась большая половина. Другая половина пошла в восьмой класс готовиться на учительниц народной школы.

Вопрос 1-1бл.: По чьей инициативе было построено здание женской гимназии?

(По инициативе М.К. Тенишевой)

Вопрос 2-1бл.: Что сейчас располагается в здании бывшей женской гимназии, здании бывшей мужской гимназии?

(учебный корпус Брянского государственного технического университета)

Вопрос 3-1бл.: В годы первой мировой войны здание женской гимназии было частично переоборудовано? Что располагалось в здании гимназии после реконструкции? **(военный госпиталь)**

Вопрос 4-2бл.: После реконструкции, у входа в здание гимназии была построена платформа. Что за платформа, с какой целью построена? **(железнодорожная платформа, для удобства доставки и разгрузки раненых)**

Задание1-3 бл.: Сфотографируйтесь на крыльце бывшей женской гимназии.

Задание2-3 бл.: Сфотографируйтесь на крыльце бывшей мужской гимназии.

2бонусное задание - 21 бл.: посетите холл 1 корпуса БГТУ, где размещено документально- художественное панно, сюжет которого связан с приездом императора Николая II в Бежицу в разгар Первой мировой войны 20 апреля 1915 года и ответьте на вопросы.

Задание 3-3 бл.: Сфотографируйтесь на углу мужской гимназии с предложенного ракурса

9. Базарная площадь

Максимальный балл: 17 баллов

К часам работы на заводе многое приспосабливалось в жизни Бежицы. Так, к шести часам утра булочная была полна свежеиспечённых булок, баранок, калачей и хлебов разных сортов и рабочие, идя на работу, могли по дороге купить себе нужное. Я любила смотреть, как быстро и старательно обслуживали продавцы покупателей. Также было и с баней: она была открыта для мужчин допоздна по субботам и в кануны праздников. Базарная площадь оживала с рассветом и только к позднему вечеру жизнь замирала, площадь становилась безлюдной.

Вопрос 1-1бл.: Что сейчас находиться на месте базарной площади?

(Пролетарский сквер)

Вопрос 2-1бл.: Почему в сквере стоит церковная лавка?

(У базара в 1901 году была построена часовня во имя святителя Николая Чудотворца.)

Задание 1-3бл.: На месте бывшей часовни сегодня установлен памятник бежицким революционерам. Сделайте фото на фоне памятника.

Задание 2-3бл.: Название часовни сохранилось в названии домового храма (церкви), сфотографируйтесь у входа в храм, так чтобы было читаемо название.

Вопрос 3-1бл.: Как называется домовой храм**? (Во имя святителя Николая Чудотворца)**

Вопрос 4-1бл.: Базар располагался в районе, где строилось много жилых домов. Какая современная улица отходит от бывшей базарной площади, максимально сохранила жилые постройки рабочих завода того времени? **(Институтская, бывшая Карачевская)**

Вопрос 5-1бл. Двигаемся по бывшей базарной улице в сторону 1 проходных завода. Назовите здание, построенное в начале XX века, архитектура - подражание формам дворцовых сооружений Руси XVII века, до настоящего времени используется по своему прямому назначению. **Баня**

Задание 3-3бл.: Сделайте фото на фоне этого здания, так чтобы было читаемо название организации.

Задание 4-3бл.: Сделайте фото на фоне бывшей хлебопекарни.

10. Брянский машиностроительный завод

Максимальный балл: 24 балла

Уроженка Бежицы профессор медицины, врач-педиатр А. К. Кузнецова-Буданова в книге «И у меня был край родной» пишет: «Выросла Бежица благодаря построенному там большому машиностроительному заводу Брянского акционерного общества. Завод выпускал паровозы, вагоны, подъемные краны, сельскохозяйственные машины, военное снаряжение и т.д. Работало на заводе от двенадцати до пятнадцати тысяч рабочих. Заводские постройки раскинулись ближе к месту слияния Болвы и Десны, поселок же протянулся широкой полосой вдоль левого северного берега Десны, на возвышенности, на запад от завода. Спуск на заливной луг поймы реки Десны был крутой».

Задание 1-3бл.:Сфотографируйтесь на фоне первых проходных завода.

Задание 2-11бл.: В тексте заполните пробелы

18_3 АО «Брянский рельсопрокатный железоделательный и механический завод»

1918 **Национализированный**«Брянский рельсопрокатный железоделательный и механический завод»

1923 **Государственный**Брянский завод «Профинтерн»

1924 Брянский государственный **машиностроительный**завод «Красный Профинтерн»

1936 **Ордзеникидзеградский**паровозо-вагоностроительный завод «Красный Профинтерн»

1943 Бежицкий государственный **паравозостроительный** завод«Красный Профинтерн»

1943 Брянский паровозостроительный завод

1956 Брянский машиностроительный завод

1966 Брянский **ордена трудового Красного Знамени** машиностроительный завод

1973 Брянский **ордена В.И. Ленина** и трудового Красного Знамени машиностроительный завод

1976 **Производственное объединение** ордена В.И. Ленина и трудового Красного Знамени «Брянский машиностроительный завод»

1981 Производственное объединение ордена В.И. Ленина и трудового Красного Знамени «Брянский машиностроительный завод **имени В.И. Ленина**»

19**93** Акционерное общество « Брянский машиностроительный завод».

Задание3-3бл.: Во время посещения завода Императором, он прошёл по всем цехам. Посетил общезаводскую выставку, устроенную специально к высочайшему визиту в новом здании цеха металлических конструкций и крановом. В настоящем это здание сохранилось, хорошо видно с улицы.

Сделайте фото команды на фоне цеха металлических конструкций. Должна быть видна характерная надпись.

Задание 4-6 бл.: После посещения заводской выставки и музея Государьпрошел в больницу завода. После больницы государь отправился в хлебопекарню, следующим его величество посетил два рабочих дома, лазарет Всероссийского земского союза на 400 кроватей. Нанесите на современную карту города выше указанный маршрут Императора.

Вопрос 1-1бл. Как долгое время после приезда царя бежичане называли Мценскую улицу? **(Царской).**

11. Заводская больница

Максимальный балл: 12 баллов

Старший врач больницы - Николай Алексеевич Михайлов, пользовался большим авторитетом не только среди больных и медперсонала, но и среди всего населения Бежицы. Он был председателем заводского благотворительного

общества, часто бывал в народной столовой, детском приюте завода, преподавал гигиену в женской гимназии, выступал с лекциями среди населения, в обществе трезвости, входил в заводское общество взаимного кредита.

Накануне первой мировой войны больница Брянского завода была одним из лучших уездных лечебных учреждений Орловской губернии.

Вопрос1-1бл: При заводском поселке рельсопрокатного завода продолжительное время не было больницы. Когда была построена больница? **(Первое деревянного здания построено в 1880-е гг или конец 18 века).**

Вопрос 2-1бл: Во время приезда Императора в Бежицу, посещал ли он заводскую больницу? **Да**

Вопрос 3-2 бл.: Когда и кому император во время визита в Бежицу вручил боевые награды – медали «За храбрость» на георгиевских лентах? **(Во время посещения посещения больницы, бойцам находящимся на излечении)**

Вопрос 4-1бл: Здания новой больницы рассчитано на 110 кроватей, строилось в первом десятилетии 19 века. В комплекс больницы также входили здание аптеки, амбулатории, родильного приюта, стоматологическое отделение и помещение для минеральных вод, а также хирургический корпус - по своим возможностям имел мало равных в России тех лет. В перечень больничного комплекса включен лишний объект, назовите его? **(стоматологическое отделение)**

Вопрос 5-1бл: В 1919 году, для решения возникших проблем, при больнице были открыты курсы. Кого готовили на данных курсах? **(медсестер)**

Задание 1-3бл: Сфотографируйте здание больницы с данного ракурса



Задание 2-3бл: Сфотографируйтесь на фоне бывшего корпуса заводской больницы с включением в снимок вывески располагающего в нём. **(Пенсионный фонд.) (ныне у … 2 и Ульянова 35а),**

ЛИСТ 10

12. Ремесленное училище

Максимальный балл: 16 баллов

«Для подготовки квалифицированных техников имелось ремесленное училище для мальчиков. Естественно, что завод уделял ему особое внимание. Четырёхлетнее обучение в нём было бесплатное. Это училище выпускало хороших мастеров».

В то время Брянский рельсопрокатный железоделательный и механический завод, был одним из ведущих промышленных предприятий России.

Вопрос 1 -1бл.: Кто был инициатором создания в Бежице ремесленного училища? **(К. Тенишева)**

Вопрос 2 - 1бл.: На территории какой площади находилась первая ремесленная школа**? (На территории базарной площади в здании детского сада)**

Вопрос 3 - 1бл.: Училище 200 человек было построено в частном парке. Кому конкретно принадлежала территория парка, на которой было построено здание училища? **(В.Н. Тенишеву)**

Вопрос 4 - 1бл.: На постройку каменного здания ремесленного училища на 200 человек безвозмездно петербургским управлением были выделены 100 тысяч рублей, а содержалось училище за счет процентов с капитала пожертвованных князем В.Н. Тенишевым и акционерным обществом Брянского завода, кроме этого завод бесплатно предоставлял дрова, электроэнергию, квартиры служащим школы и медицинскую помощь. Какая сумма была пожертвованных князем В.Н. Тенишевым и акционерным обществом завода на содержание училища? **(200 тысяч рублей)**

Вопрос 5 -1бл.: Что сейчас находится в здании училища? **(Политехнический колледж им. Н.А. Кубяка)**

Задание 1-3бл.: Сфотографируйтесь у таблички, где указан год постройки училища и сказано, что данное здание является памятником архитектуры

Задание 2-3 бл.: Сфотографируйтесь у бюста, установленного перед входом в учебное заведение.

Вопрос 6 - 2бл.: Кому установлен бюст и как связан данный человек с ремесленным училищем? (**Кубяку Николаю Афанасьевичу,**с отцом и братом в 15 лет пришел работать на Брянский завод.)

Задание 3-3бл.: Сфотографируйтесь у исторического здания ремесленного училища с предложенного ракурса.

14. Здание Общественного собрания

Максимальный балл: 20 баллов

После окончания Министерского училища, я поступила в женскую гимназию. За право учения в гимназии брали шестьдесят пять рублей в год, а отец мой получал тридцать пять рублей в месяц.

Владимир Михайлович (директор министерского училища) посоветовал мне подать прошение в Благотворительное общество, которое располагалось в здании общественного собрания, о внесении за меня платы за учение в гимназии. Я, не медля, сделала это, и меня освободили от платы. С этих пор я заранее каждые полгода подавала прошение в Благотворительное общество, и меня всегда освобождали от платы. Конечно, меня всякий раз волновал вопрос, освободят ли и на следующие полгода, или нет?

23 мая 1894 года был открыт Дом общественного собрания. Княгиня выхлопотала у правления завода разрешение о передаче огромного дома площадью 297 кв. сажен Общественному собранию. Здесь располагались библиотека, театральная сцена, всевозможные кружки, был разбит парк. Рабочие почитали за честь приглашение на устраивавшиеся там балы. В парке были разбиты террасы, стояли веранды, спортивные снаряды и теннисный корт, его покрытие считалось одним из лучших в России.

Вопрос 1-1бл.: Чей дом для передачи Общественному собранию выхлопотала княгиня? **(В.Ф.Крахта)**

Вопрос 2-1бл.: Чей портрет украшал здание Общественного собрания вплоть до 1917 года? **(Портрет М.К.Тенишевой)**

Вопрос 3-1бл.: Что сейчас располагается в бывшем здании Общественного собрания? **(Центр детского творчества г. Брянска)**

Вопрос 4-1бл.: Кроме здания (сильно изменённого) бывшего Общественного собрания, что ещё сохранилось с той поры? **(парк)**

Задание 1-3бл.: Сфотографируйтесь на ступеньках бывшего здания Общественного собрания.

Задание 2-3бл.: Часто в парке устраивали балы. Сделайте красивое постановочное фото в парке «Бал».

3 бонусное задание - 10бл.: Посетите здание Центра внешкольной работы г. Брянска и дайте ответы на вопросы по истории формирования Бежицы,

17.Богодельня

Максимальный балл: 5 баллов

Напротив храма — седьмые проходные завода, а по дороге — здание богадельни. Здесь самое людное место, заводчане торопятся на работу или с работы. Больные и престарелые обитатели богадельни не чувствуют себя выброшенными из жизни: они словно в центре внимания.

Вопрос1-1бл.: Назовите архитектора проектировавшего здание богадельни?

(Николай Андреевич Лебедев)

Вопрос 2-1бл.: Как сейчас называются данные учреждения?

(Интернат, дом для престарелых, пожилых)

Задание 1-3бл.: Сфотографируйтесь с платформы на фоне бывшего здания богадельни.

18. Большой Храм

Максимальный балл: 12 баллов

Мы, гимназистки и гимназисты, ученики всех школ, старейшие рабочие в выданных им кафтанах, вся администрация завода и духовенство были выстроены на поляне, где всегда бывали парады. Все были радостно настроены. Было много-много народа. Сначала прошёл пробный поезд. Потом подошёл царский поезд, ведомый высшим железнодорожным начальством

Всем было хорошо известно благочестивое правило государя всегда посещать храмы тех мест, где ему приходилось бывать. Так и в этот раз, прежде чем отправиться на осмотр Брянского завода, император Николай Александрович посетил красивый и величественный Преображенский храм Бежицы. И, как только государь с чинами свиты ступил на красную дорожку, вся Бежица в едином порыве под музыку двух духовых оркестров грянула гимн «Боже, Царя храни!».

Вопрос 1-1бл.: Что сейчас находиться на месте Преображенской площади? **(гаражи)**

Вопрос 2-2бл.: Спасо-Преображенский храм дивной красоты считался гордостью поселка. Что в дальнейшем было размещено в храме, и когда он был утрачен? **(В декабре 1929 года храм закроют, в нем разместят цирк, а в 1930-е годы и вовсе разберут.)**

Вопрос 3-1бл.: При храме существовала образцовая в уезде церковно-приходская школа, построенная в 1894 году. В данных школах изучались следующие предметы: Закон Божий, церковное пение, письмо, арифметику, чтение, историю. Какой из перечисленных предметов изучался только на 2 году двухклассных школ? **(история)**

Вопрос 4-2бл.: Когда взамен утраченного в Бежице был построен новый Преображенский храм? **2006 г.** Новый храм стоит на месте утраченного храма? **Нет**

Задание 1-3бл.: Сфотографируйтесь на фоне бывшего заводоуправления.

Задание 2-3бл.: Сфотографируйтесь на фоне нового Преображенского храма Бежицы.

19. Платформа

Максимальный балл: 10 баллов

Но вот весною 1915г. стало известно, что в Бежицу приедет Император Николай Александрович. Началась подготовка к этому приезду.

Слыхала я, что на заводе хорошие специалисты-рабочие делали миниатюрные модели продукции завода: паровоз, боевую башню и др. У нас же в гимназии начальница усиленно старалась ввести форменную шляпу для всех гимназисток. До этого у нас были обязательны только форменные платья. К лету этого года ввели и форменную шляпу: соломенную, с небольшими прямыми полями и таким же прямым дном. Наши старшие гимназистки «фыркали» на такую форму, но всё же стали её носить.

Для встречи Царя была устроена специальная платформа и павильон возле главной конторы напротив Большой церкви.

Вопрос1-1бл.: Как сейчас называется железнодорожная остановка, где в 1915 году была устроена специальная платформа для приёма царя? **(Красный Профинтерн)**

Вопрос 2-1бл.: Сколько поездов прибыло на платформу во время приезда Императора НиколаяАлексеевича? **2**

Вопрос 3-1бл.: Что с собой привёз Николай II для осмотра завода и прилегающих территорий? **(автомобиль)**

Вопрос 4-1бл.:При встрече НиколаюАлексеевичуна платформе вручили хлеб-соль и пожертвования в сумме 7 тысяч рублей. В чью пользу были сделаны пожертвования? **(в пользу раненых)**

Задание 1-3бл.: Сфотографируйтесь на фоне названия современной железнодорожной остановки.

Задания 2-3бл.: Сфотографируйтесь на фоне бывших 7-х проходных завода.

Команда _____

Бонусное задание № 1

Максимальный балл: 32 балла

Костюмы Брянской области

№ п/п	Название костюма	Правильный ответ	Количество баллов
1.	Дорожовский (Брянский район)		1 балл
2.	Трубчевский район		1 балл
3.	Новозыбковский район		1 балл
4.	Погарский район		1 балл
5.	Комаричский район		1 балл
6.	Карачевский район		1 балл
7.	Жуковский район		1 балл

Разбор Дорожовского костюма

№ п/п	Название детали костюма	Правильный ответ	Количество баллов
1.	Рубаха		1 балл

2.	Передник (запон)		1 балл
3.	Понева		1 балл
4.	Пояс		1 балл
5.	Ожерелок		1 балл
6.	Чепка		1 балл
7.	Повойник		1 балл
8.	Позатыльник		1 балл
9.	Онуча		1 балл
10.	Лапти		1 балл

Предметы крестьянского быта

№ п/п	Название предмета	Правильный ответ (возможно несколько вариантов ответов)	Количество баллов
1.	Маслобойка		1 балл
2.	Ступа		1 балл
3.	Ступка		1 балл
4.	Корыто		1 балл
5.	Чугунок		1 балл
6.	Крынка		1 балл
7.	Кувшин		1 балл
8.	Ухват		1 балл
9.	Мельница (ручная)		1 балл
10.	Пральник		1 балл
11.	Рубель		1 балл
12.	Коромысло		1 балл
13.	Коса		1 балл
14.	Серп		1 балл
15.	Сито		1 балл

Команда _____

Бонусное задание № 2

Максимальный балл: 21 балл

Выставка, посвящённая приезду в Бежицуего Императорского Величества Николая Александровича.

1. **1бл.**Сколько населения проживало в рабочем посёлке Бежица на момент приезда царя Николая II? _____

2. **1бл.** Во время встречи царя уездный предприниматель дворянства А.А. Тенишев преподнёс Николаю II дар. Что преподнёс царю Тенишев?

_____

3. **2бл.** Во время следования царя от платформы до церкви оркестрами исполнялся народный гимн. Кто его исполнял?

_____

4. **1бл**. После молебна царь посетил все цеха завода, где работа была приостановлена, но рабочие оставались на своих местах. Что получили рабочие проработавшие много лет на заводе? _____

5. **1бл**. Кому были адресованы эти слова Николая II «Великое вам спасибо, за ваш труд»? _____

6. **7бл**. С какими видами работ завода ознакомился царь?

_____
_____
_____
_____
_____

7. **2бл**. В одной из мастерской, в присутствии царя была отлита табличка. Какая надпись была отлита на табличке?

_____
_____
_____
_____

8. **1бл.** Скольким рабочим его Императорское Величество пожаловал часы?

_____

9. **4бл**. На общезаводской выставке был представлен павильон учебного отдела Брянского завода, какие учреждения были представлены?

_____
_____

10.1бл. Что приобрёл Государь для своего гаража на выставке завода?

_____

Команда _____

Бонусное задание № 3

Максимальный балл: 10 баллов

1. **1бл.**В поэме Н.А.Некрасова «Кому на Руси жить хорошо», есть такие строки:

« А ныне милость божия!
Досыта у Губонина
Дают ржаного хлебушка,
Жую – не нажуюсь»…

Вопрос: Какое отношение имеют эти строки к посёлку Бежица?

_____

2. **1бл.**Почему за Бежицей закрепилось это название? _____

_____

3. **1бл.**С 15 февраля 1936 г. по 17 сентября 1943 года город Бежица переименован. Как называлась Бежица в этот временной интервал? _____

4. **1бл.**Укажите год основания Брянска? _____

5. **1бл.**В каком году область выделилась в отдельную административную единицу? _____

6. **1бл.** В какую административную единицу до выделения в отдельную область входила Брянщина? _____

7. **1бл.**Сколько муниципальных районов входит в состав Брянской области? _____

8. **1бл.**В год тысячелетия города, Брянск получил памятный подарок - комплекс монументов, который украсил наш город, это место непременно посещается туристами. Назовите это место. _____

9. **1бл.** В каком году, городу Брянск присвоено звание «Город воинской славы»? _____

10. **1бл.**29 июня Брянщина отмечает один из самых молодых российских праздников. Для нас это особенный день. Как называется праздник?

_____

Команда _____

Ответы Бонусное задание № 1

Максимальный балл: 32 балла

Костюмы Брянской области

№ п/п	Название костюма	Правильный ответ	Количество баллов
1.	Дорожовский (Брянский район)	**5**	1 балл
2.	Трубчевский район	**7**	1 балл
3.	Новозыбковский район	**3**	1 балл
4.	Погарский район	**4**	1 балл
5.	Комаричский район	**2**	1 балл
6.	Карачевский район	**6**	1 балл
7.	Жуковский район	**1**	1 балл

Разбор Дорожовского костюма

№ п/п	Название детали костюма	Правильный ответ	Количество баллов
1.	Рубаха	**7**	1 балл
2.	Передник (запон)	**3**	1 балл
3.	Понева	**10**	1 балл
4.	Пояс	**2**	1 балл
5.	Ожерелок	**4**	1 балл
6.	Чепка	**8**	1 балл
7.	Повойник	**6**	1 балл
8.	Позатыльник	**9**	1 балл
9.	Онуча	**1**	1 балл
10.	Лапти	**5**	1 балл

Предметы крестьянского быта

№ п/п	Название предмета	Правильный ответ (возможно несколько вариантов ответов)	Количество баллов
1.	Маслобойка	**5**	1 балл
2.	Ступа	**10**	1 балл
3.	Ступка	**1**	1 балл
4.	Корыто	**7**	1 балл
5.	Чугунок	**14**	1 балл
6.	Крынка	**2**	1 балл
7.	Кувшин	**4**	1 балл
8.	Ухват	**11**	1 балл
9.	Мельница (ручная)	**15**	1 балл
10.	Пральник	**12**	1 балл
11.	Рубель	**8**	1 балл
12.	Коромысло	**13**	1 балл
13.	Коса	**3**	1 балл
14.	Серп	**9**	1 балл
15.	Сито	**6**	1 балл

Команда _____

Ответы Бонусное задание № 2

Максимальный балл: 21 балл

Выставка, посвящённая приезду в Бежицуего Императорского Величества Николая Александровича.

10. **1бл.**Сколько населения проживало в рабочем посёлке Бежица на момент приезда царя Николая II? **(около 40000 человек)**

11. **1бл.** Во время встречи царя уездный предприниматель дворянства А.А. Тенишев преподнёс Николаю II дар. Что преподнёс царю Тенишев? **(икону Спасителя Николая)**

12. **2бл.** Во время следования царя от платформы до церкви оркестрами исполнялся народный гимн. Кто его исполнял?

(Оркестр пожарного общества и мужской заводской гимназии)

13. **1бл**. После молебна царь посетил все цеха завода, где работа была приостановлена, но рабочие оставались на своих местах. Что получили рабочие проработавшие много лет на заводе? **(Различные награды)**

14. **1бл**. Кому были адресованы эти слова Николая II «Великое вам спасибо, за ваш труд»? **(Рабочим завода)**

15. **7бл**. С какими видами работ завода ознакомился царь?

-производством снарядов
- работой вагонов
- паровозов
-производством гвоздей
Производство всевозможных видов сельских орудий
Посетил деревянную мастерскуюэлектрическую станцию

16. **2бл**. В одной из мастерской, в присутствии царя была отлита табличка. Какая надпись была отлита на табличке?

(20 апреля 1915 года Брянский завод осчастливил посещением его Императорское Величество Государем Императором Николаем Александровичем)

17. **1бл.** Сколько рабочим его Императорское Величество пожаловал часы?

(4 рабочим)

18. **4бл**. На общезаводской выставке был представлен павильон учебного отдела Брянского завода, какие учреждения были представлены?

(мужская и женская гимназия, ремесленная школа, 8 высших и низших училищ)

19. **1бл**. Что приобрёл Государь для своего гаража на выставке завода?

(Токарный станок)

Команда _____

Ответы Бонусное задание № 3

Максимальный балл: 10 баллов

1. **1бл**. В поэме Н.А.Некрасова «Кому на Руси жить хорошо», есть такие строки: « А ныне милость божия!

Досыта у Губонина
Дают ржаного хлебушка,
Жую – не нажуюсь»…

Вопрос: Какое отношение имеют эти строки к посёлку Бежица?

(1865 году вблизи реки Болва посреди сплошного хвойного леса, на пути прокладки новой линии железной дороги, заработал распиловочный шпальный завод купца Губонина и посёлок при нём, состоявший из одного производственного здания, конторы и нескольких землянок, в которых ютились нанятые из окрестных сёл крестьяне. Поначалу сельцо

называлось «Губонино», но потом (примерно с 1889 г.), навсегда закрепилось за ним название «Бежица»)

2. **1бл.**Почему за Бежицей закрепилось это название?

(Возможно, означало «прибежище». В те годы, после земельной реформы, много крестьян разорялось и бежало в город; люди были счастливы тем, что здесь можно было работать за еду)

3. **1бл.**С 15 февраля 1936 г. по 17 сентября 1943 года город Бежица переименован. Как называлась Бежица в этот временной интервал?
   (Орджоникидзеград)
4. **1бл**.Укажите год основания Брянска? **(985)**
5. **1бл**. В каком году область выделилась в отдельную административную единицу? **(05.07.1944 года)**
6. **1бл**. В какую административную единицу до выделения в отдельную область входила Брянщина? **(Орловская область)**
7. **1бл**.Сколько муниципальных районов входит в состав Брянской области? **(27)**
8. **1бл.**В год тысячелетия города, Брянск получил памятный подарок - комплекс монументов, который украсил наш город, это место непременно посещается туристами. Назовите это место. **(Покровская гора)**
9. **1бл.** В каком году, городу Брянск присвоено звание «Город воинской славы»? **(в 2010 году)**
10. **1бл**. 29 июня Брянщина отмечает один из самых молодых российских праздников. Для нас это особенный день. Как называется праздник?

(День партизан и подпольщиков)

Городская краеведческая игра
«Город юный, город древний – 2020 год»

Карта-схема краеведческой игры "Город юный, город древний" 2020 г.

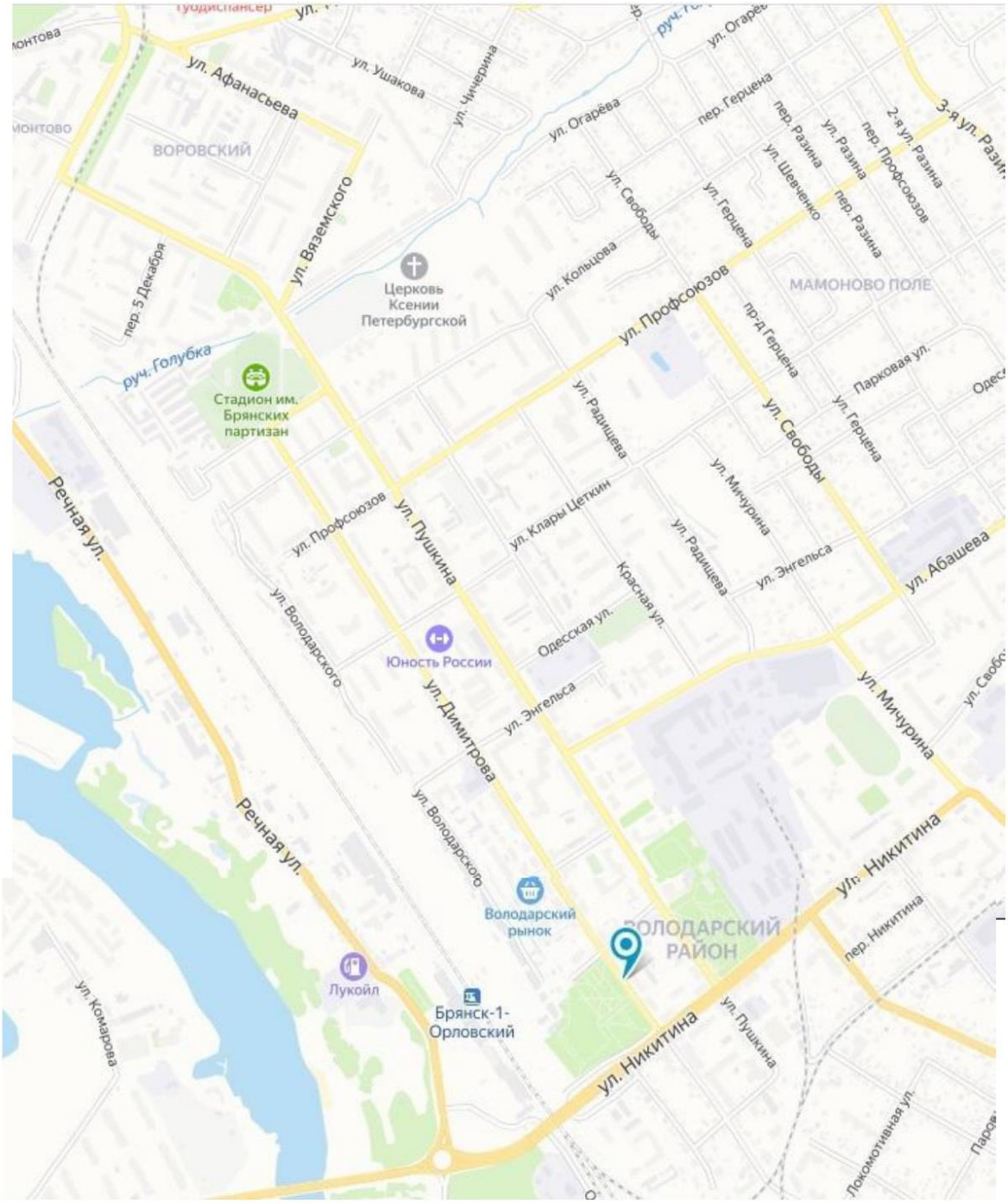

Экспресс – опросник «Мы память бережно храним».

1	2	3
4	5	6
7	8	9
10	11	12
13	14	15

16	17	18
19	20	21
22	23	24
25	26	27
28	29 	30
31	32	33

Экспресс – опросник «Мы память бережно храним»

Команда _____

Заполните таблицу:

Номер фото	В каком районе установлен памятник	Название памятника
		Памятник Лесные сараи
		Памятник героям-комсомольцам
		Памятник Ремонтникам танков
		Стелла Вечный огонь
		Мемориал на братской могиле советских воинов
		Площадь Партизан – Советский район.
		Курган Бессмертия.
		Памятник лётчикам.
		Памятник танкистам (освободителям).
		Весна 45-го.
		Мемориал на братской могиле советских воинов в посёлке Белые Берега.
		Памятник артиллеристам
		Стела "Брянск - город воинской славы".
		Памятник воинам – водителям.
		Воинам Брянского фронта.
		Памятник учителям, погибшим в годы Великой Отечественной войны.
		Памятник артиллеристам (11 армии).
		Обелиск на месте расстрела мирных жителей.
		Мемориальная плита - «Литий».
		Памятник узникам фашистских лагерей 1941-1943 гг.
		Памятник жертвам Холокоста на Брянщине.
		Мемориал погибшим жителям в честь 50-летия комсомольской организации.
		Памятник воинам-металлургам.
		Памятник погибшему экипажу летчиков.
		Памятный знак «Город партизанской славы».
		Памятник медицинским работникам Брянщины, погибшим в годы войны.
		Памятник Герою Советского Союза Д.Н. Медведеву – чекист.
		Памятник А.А. Морозову – конструктор.
		Бюст Зои Космодемьянской – комсомолка.
		Памятник А.И. Виноградову – партизан.
		Павел Михайлович Камозин – лётчик.
		Памятник Д. Емлютину – партизан.
		Памятник Кравцову Д.Е. – партизан.

Экспресс – опросник «Мы память бережно храним»(Ответы)

Команда _____

Заполните таблицу:

Номер фото	В каком районе установлен памятник	Название памятника
26	Советский	Памятник Лесные сараи
31	Фокинский	Памятник героям-комсомольцам
27	Володарский	Памятник Ремонтникам танков
32	Фокинский	Стелла Вечный огонь
33	Бежицкий	Мемориал на братской могиле советских воинов
1	Советский	Площадь Партизан – Советский район.
2	Советский	Курган Бессмертия.
5	Советский	Памятник лётчикам.
13	Фокинский	Памятник танкистам (освободителям).
6	Бежицкий	Весна 45-го.
15	Фокинский	Мемориал на братской могиле советских воинов в посёлке Белые Берега.
8, 9	Советский, Бежицкий	Памятник артиллеристам
3	Советский	Стела "Брянск - город воинской славы".
16	Фокинский	Памятник воинам – водителям.
7	Володарский	Воинам Брянского фронта.
17	Советский	Памятник учителям, погибшим в годы Великой Отечественной войны.
9, 8	Бежицкий, Советский	Памятник артиллеристам (11 армии).
12	Бежицкий	Обелиск на месте расстрела мирных жителей.
14	Фокинский	Мемориальная плита - «Литий».
4	Фокинский	Памятник узникам фашистских лагерей 1941-1943 гг.
19	Советский	Памятник жертвам Холокоста на Брянщине.
22	Бежицкий	Мемориал погибшим жителям в честь 50-летия комсомольской организации.
10	Бежицкий	Памятник воинам-металлургам.
11	Фокинский	Памятник погибшему экипажу летчиков.
20	Фокинский	Памятный знак «Город партизанской славы».
23	Советский	Памятник медицинским работникам Брянщины, погибшим в годы войны.
24	Бежицкий	Памятник Герою Советского Союза Д.Н. Медведеву – чекист.
29	Бежицкий	Памятник А.А. Морозову – конструктор.
25	Фокинский	Бюст Зои Космодемьянской – комсомолка.
30	Бежицкий	Памятник А.И. Виноградову – партизан.
21	Бежицкий	Павел Михайлович Камозин – лётчик.
18	Советский	Памятник Д. Емлютину – партизан.
28	Советский	Памятник Кравцову Д.Е. – партизан.

От Привокзальной слободы до современного района

Объединились посёлки в район

Перед вами фрагмент карты г. Брянска 1941 года. Володарский район представлен отдельными посёлками: имени Урицкого, им. Володарского, им. Толстого, им. Воровского. Данные посёлки получили своё название после революции.

Вопрос:

1.Как первоначально назывались эти поселения?

2. Почему были так названы?

_____Посёлок Володарского _____

_____

_____ Посёлок Воровского_____

_____Посёлок Толстовский _____

_____

_____Посёлок Урицкого_____

_____

Задание:

Соедините в логические цепочки: название посёлка – ФИО человека, в честь которого назван посёлок – его революционный псевдоним – занятие после революции.

Посёлок Володарского	ВáцлавВáцлавович Воровской (1871-1923)	Л.Н., Л.Н.Т	Занимался литературной критикой и политическими фельетонам и. Один из первых советских дипломатов
Посёлок Воровского	Гольдштейн Моисей Маркович (1891-1918)	Борецкий	Просветитель, публицист,р елигиозный мыслитель, его авторитетное мнение послужило причиной возникновения нового религиозно-нравственного течения — толстовства
Посёлок Толстовский	Моисея Соломонович Урицкий (1873 -1918)	Орло́вский, Шварц, Жозефи́на, Фа вн	Возглавлял Чрезвычайную комиссию и Комиссариат внутренних дел в Петрограде
Посёлок Урицкого	последователи Льва Николаевича Толстого	В. Володарский	С сентября 1917 член Президиума Петросовета. После Октябрьской революции комиссар по делам печати, пропаганды и агитации, редактор «Красной газеты».

Задание:Соотнесите дату и событие.

Апрель 1921 года	Володарский посёлок назывался «Брянск-Восточный».
1941-1943	Окончательно сформированы ныне существующие городские районы, за исключением Бежицы.
6 июля 1950 года	Володарский и Толстовский посёлки присоединены к г. Брянск.
22 июня 1951 года	посёлок Урицкий был присоединен к городу Брянску.

Привокзальная слобода

6 декабря, храмовой праздник совпал с годовщиною открытия местной церковно-приходской школы. Храм построен в память избавления Государя Императора от покушения в Отсу. Первоначально церковь носила характер церкви-школы, но после пожертвования церкви купцом И.А. Климовым двухэтажного дома, школа перебралась в отдельное здание.

Вопрос:

1. Что сейчас находится на месте храма и школы? _____
2. Как назывался храм (церковь)? _____
3. О каком Императоре идёт речь? _____
4. Покушение в Отсу: в какой стране произошло покушение? _____

Задание:Сфотографируйтесь на месте бывшей Привокзальной слободы, на фоне названия предприятия расположенного на этой территории.

События времён Октябрьской социалистической революции 1917 года

В Володарском районе увековечены в названиях улиц, памятниках, особенно вождю пролетариата - Владимиру Ильичу Ленину. Все представленные памятники установлены в Володарском районе г.Брянска.

Задание:

1. Пронумеруйте фото:
   1. Памятник у завода 751.
   2. Памятник в сквере им. Ленина.
   3. В парке Володарского района, ныне парк "Юность". Лето 1968.
   4. Памятник у здания вокзала Брянск 1.
   5. На территории завода Ирмаш.
   6. Памятник в посёлке Б. Полпино у завода БЗМТО.
2. Рядом с цифрой напишите букву:

   Му того памятника, который переехал к нам из Москвы;

   Юу памятника, ранее стоявшим в парке Юность.
3. **Сфотографируйтесь** у памятников, установленных на территории игры. Выделите эти фото, пометив их галочкой.

Сквер имени Ленина.

	В сквере находиться братская могила. **Вопрос:** Кто захоронен в братской могиле? _____
	Памятник сооружён в 1956 году. Установлен на братской могиле погибших воинов в поселке Большое Полпино. **Вопрос:** Какое отношение имеет данный памятник к скверу имени Ленина?
	Братская могила «Жертвам фашизма» установлена на территории завода. **Вопрос:** Напишите названия завода? _____ **Задания:** Работая по маршруту игры, **сфотографируйтесь** у памятного знака «Жертвам фашизма».
	Братская могила, где захоронено 185 воинов третьей и пятидесятой армий Брянского фронта, находится в лесу недалеко от посёлка Снежетьская. **Вопрос:** Какое учреждение в годы войны располагалось на месте братской могилы?_____

	Задание:Стоя на обочине путепроводного моста или на пешеходном мосту через пути, **сфотографируйтесь** на фоне памятного знака воинам единственного фронта названного именем районного центра.Назовите этот фронт? _____ Какие армии входили в состав фронта?
	Задание: **Сфотографируйтесь** на фоне стелы. **Вопрос:** Как она называется?

Приезд Гагарина

	Ю.А. Гагарин прибыл в Брянск в мае 1966 года, его кандидатуру выдвинули в Верховный Совет СССР. Гагарин на открытой машине в сопровождении почетного эскорта проехал по главным улицам Бежицкого, Советского, Фокинского и Володарского районов Брянска. **Вопрос:** 1.С какой целью приезжал Ю.А. Гагарин В Брянск? _____ 2. Какой памятник на пути следования кортежа Гагарина был установлен в Володарском районе? _____ **Задание:** 1. **Сфотографируйтесь** на фоне памятника установленного на пути следования кортежа Гагарина. 2. Перед Вами фото Гагарина. На фоне, какого дома оно сделано, напишите адрес дома _____ и сделайте на его фоне **фото** команды в нужном ракурсе.

Кукольный театр и парк Юность



Брянское отделение Московской железной дороги, передали помещение бывшего клуба имени И. Фокина в Володарском районе Брянска. Вместе со зданием клуба театру передан прилегающий парк и стадион.

Вопрос:В каком году в Брянске был открыт театр кукол? _____

В парке «Юность» есть интересный объект (см. фото). Что это? _____

Задание:

Сделайте **фото** на фоне театра и интересного объекта.

Школа 33

Из воспоминанийМ. Титовой

«На этих метрах велел мне собрать и посчитать потерянные после конной косилки колоски. Потом достал блокнот и подсчитал, сколькопотеряно зерна на одном гектаре и на всем поле. Я поразилась полученной цифре! А он стал говорить о том, что в блокадном Ленинграде люди голодают, им не хватает хлеба, а у вас он гниет. "Теперь, секретарь, знаешь, что делать?", - спросил он меня. Я ответила: "Да, знаю".

Вопросы:

1. Мария Александровна получила письмо с благодарностью от Сталина. За что её благодарили? _____

_____

2. В 90 летний юбилей Мария Александровна была награждена медалью за развитие культуры, за какую работу?_____

Задание:

1.Прочтите воспоминания Титовой, как она поступила, чтобы уменьшить потери зерновых?

_____

_____

Сфотографируйтесь на фоне памятной доски Марии Александровны.

Площадь Пушкина Сухарный завод

	Задание: **Сфотографируйтесь на фоне памятника.** Зарегистрируйтесь ВК на странице Отечество Подготовьте стихотворение или отрывок поэмы А.С. Пушкина (не менее 12 строк). Снимите видео - участник(и) команды читающий стихотворение на фоне памятника А.С. Пушкину. **Разместите снятое видео в ВК на станице Отечестваhttps://vk.com/otechestvo32, обязательно указав название команды.**
   	«Брянский военно-сухарный завод с мукомольней, заложен 29-го июня 1896 года в Царствование Императора Николая II, при Военном Министре генерал-адъютанте Ванновском и главном интенданте генерал-лейтенанте Тевяшеве. Строитель тайный советник инженер барон фон-Дершау». Этот текст был выбит на металлической доске. **Вопрос:** 1. Для каких целей была изготовлена доска, где находилась?_____ 2. Какую продукцию выпускал завод: в начале 20 века?_____ в начале 21 века? _____ **Задание:** **1.** Перед Вами фотографии Сухарного завода, сделанные в разные годы: 1930-19401950-19602010-2020 Подпишите года на фотографиях. **2. Сфотографируйтесь** на фоне проходной завода.

2.Улица Пушкина

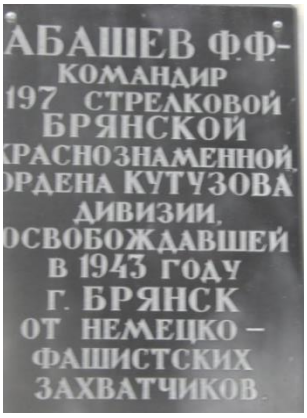	Имя Ф.Ф. Абашева увековечено в названии улицы и в её начале установлена памятная доска.**Вопрос:** 1. Почему именно в Володарском р-не увековечена память Ф.Ф. Абашева?_____ **Задание:** 1. **Сфотографируйтесь** на фоне памятной доски. 2. Подчеркните дату освобождения Володарского района г.Брянска от немецко-фашистских захватчиков: 13 сентября 1943 года 16 сентября 1943 года 17 сентября 1943 года

	Вопросы: **1**.Статистика. Сколько в районе: многоквартирных жилых домов - _____ улиц – _____ памятников истории -_____ мемориальных досок – _____ учреждений культуры- _____ образовательных учреждений -_____. 2.Как называется работающее в районе предприятие, созданное в 2009 году по соглашению администрации Брянской области и Республики Беларусь?_____ **Задание:** **Сфотографируйтесь** на фоне информационных стендов

Площадь Володарского

 Открытка г. Брянск начала 70-х годов	**Вопрос:** В канун какой юбилейной даты в Володарском р-не был установлен памятник В. Володарскому? _____ **Задание:** **Сфотографируйте** команду в ракурсе открытки
	В Брянском рабочем – 1958 года 12 ноября (№230) есть такие строки «В этом году Володарский район Брянска украсило немало новых домов». Значительная часть их построена для работников завода «Строммашина». **Вопросы:** 1. Как сейчас называется завод «Строммашина»? _____ 2. Какой завод в 1951 году был перепрофилирован и назван «Строммашина»? _____ 3. Какой местный завод с 1870 по 1917 год выпускает железнодорожные вагоны, паровозы, пароходы? _____ 4. Укажите адрес дома, изображённого на открытке? _____ **Задание:** **Сфотографируйтесь** на фоне современного дома.

Стадион Володарского района

Название объекта, изображённого на граффити	Место его расположения

С одной стороны, стадион украшен граффити, с другой протекает ручей.

Вопросы:

1.Как называется стадион?_____

2. Как назывался ручей,протекающий за стадионом раньше и теперь?ранее _____сейчас _____

3. В центре фото, левее опоры с прожекторами, стоит здание. Как оно называется, его назначение?_____

Задание:

1.**Сфотографируйтесь** у ручья, на фоне стадиона

2.**Сфотографируйте** отдельные объекты, изображённые в стиле граффити. На фото должен быть 1 член команды в роли экскурсовода, остальные слушатели (заполните таблицу).



Вопрос:

1. Как называется храм? _____
2. Сколько колоколов в звоннице _____
3. На храме прикреплена памятная плита. Какому событию она посвящена?

_____

Задание:

Сфотографируйтесь на фоне церкви.

Техникум

Задание:

1.Заполните пробелы в тексте:В 1978 году было организовано профессионально-технического училище по подготовке рабочих кадров для _____ промышленности. Затем путём дальнейших реорганизаций 1998 году преобразовано в _____, а в 2010 году присоединено _____, и в 20__ году получило современное название учреждения _____

_____

2.Укажите первоначальное место и год установки памятника токарному станку.

_____

3.**Сфотографируетесь** на фоне станка.

4.Что изображено на барельефах верхнего яруса станка? _____

От Привокзальной слободы до современного района

Объединились посёлки в район. (Ответы для судей).

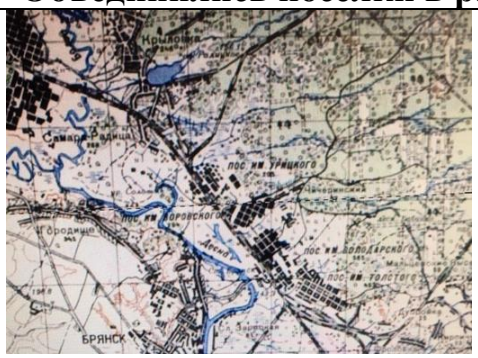

Перед вами фрагмент карты г. Брянска 1941 года. Володарский район представлен отдельными посёлками: имени Урицкого, им. Володарского, им. Толстого, им. Воровского. Данные посёлки получили своё название после революции

Вопрос:

1.Как первоначально назывались эти поселения?

2. Почему были так названы?

Привокзальная слобода – <u>Посёлок Володарского</u> - около станции Брянск и полотна Орловско-Витебской железной дороги.

Новая постройка -<u>Посёлок Воровского</u> возник в далёком прошлом неподалёку от Радицкого вагоностроительного завода и ж/д платформы Мальцовская.

Полесский посёлок - <u>Посёлок Толстовский</u> открытие участка Полесской железной дороги Гомель – Брянск. Она называлась Полесской, потому что начиналась от Брест-Литовска. Конечная точка именовалась Брянск – Полесский.

Мальцевская слобода - <u>Посёлок Урицкого</u>Мальцовы – заводчики и землевладельцы в России 18 – начала 20 века. В Радице работает чугунный завод. В 1877 году сооружает 70 – километровую узкую железнодорожную линию от Брянска до Людинова. Начиналась она от Риго-Орловской железной дороги у Радицкого завода.

Задание:

Соедините в логические цепочки: название посёлка – ФИО человека, в честь которого назван посёлок – его революционный псевдоним – занятие после революции.

Посёлок Володарского	Гольдштейн Моисей Маркович (1891-1918)	В. Володарский	С сентября 1917 член Президиума Петросовета. После Октябрьской революции комиссар по делам печати, пропаганды и агитации, редактор «Красной газеты».
Посёлок Воровского	ВáцлавВáцлавович Воровской (1871-1923)	Орлóвский, Шварц, Жозефи́на, Фавн	Занимался литературной критикой и политическими фельетонами. Один из первых советских дипломатов.
Посёлок Толстовский	Последователи Льва Николаевича Толстого	Л.Н., Л.Н.Т	Просветитель, публицист,религиозный мыслитель, его авторитетное мнение послужило причиной возникновения нового религиозно-нравственного течения — толстовства.
Посёлок Урицкого	Моисея Соломонович Урицкий (1873 - 1918)	Борецкий	Возглавлял Чрезвычайную комиссию и Комиссариат внутренних дел в Петрограде.

Задание:
Соотнесите дату и событие.

Апрель 1921 года	Володарский посёлок назывался «Брянск-Восточный».
1941-1943г.г.	Окончательно сформированы ныне существующие городские районы, за исключением Бежицы.
6 июля 1950 года	Володарский и Толстовский посёлки присоединены к г. Брянск.
22 июня 1951 года	Посёлок Урицкий был присоединен к городу Брянску.

Привокзальная слобода

6

декабря, храмовой праздник совпал с годовщиною открытия местной церковно-приходской школы. Храм построен в память избавления Государя Императора от покушения в Отсу. Первоначально церковь носила характер церкви-школы, но после пожертвования церкви купцом И.А. Климовым двухэтажного дома, школа перебралась в отдельное здание.

Вопрос:

5. Что сейчас находится на месте храма и школы?**Володарский рынок**
6. Как назывался храм (церковь) **Николаевская**
7. О каком Императоре идёт речь? **Его Величества Государя Императора Николая Александровича (II)**
8. Покушение в Отсу: в какой стране произошло покушение? **Япония 1891год в рамках восточного путешествия.**

Задание:Сфотографируйтесь на месте бывшей Привокзальной слободы, на фоне названия предприятия расположенного на этой территории.

События времён Октябрьской социалистической революции 1917 года
В Володарском районе увековечены в названиях улиц, памятниках, особенно вождю пролетариата - Владимиру Ильичу Ленину. Все представленные памятники установлены в Володарском районе г.Брянска

Задание:

4. **Пронумеруйте фото:**
   7. Памятник у завода 751
   8. Памятник в сквере им. Ленина
   9. В парке Володарского района, ныне парк "Юность". Лето 1968
   10. Памятник у здания вокзала Брянск 1
   11. На территории завода Ирмаш
   12. Памятник в посёлке Б. Полпино у завода БЗМТО
5. **Рядом с цифрой напишите букву:**
   Му того памятника, который переехал к нам из Москвы;
   Юу памятника, ранее стоявшего в парке Юность.

3. **Сфотографируйтесь у памятников, установленных на территории игры. Выделите эти фото, пометив их галочкой (звездочкой).**

Сквер имени Ленина.

	В сквере находиться братская могила. **Вопрос:** Кто захоронен в братской могиле? **Вечная слава героям, павшим за Родину**
	Памятник сооружён в 1956 году. Установлен на братской могиле погибших воинов в поселке Большое Полпино. **Вопрос:**Какое отношение имеет данный памятник к скверу имени Ленина? **В 1975 г., в связи с реконструкцией сквера, памятник был перенесён в пос. Большое Полпино, где находится и сегодня.**
	Братская могила «Жертвам фашизма» установлена на территории завода. **Вопрос:** Напишите названия завода? **ОАО «85ремонтный завод».** **Задания:** Работая по маршруту игры, **сфотографируйтесь** у памятного знака «Жертвам фашизма».

	Братская могила, где захоронено 185 воинов третьей и пятидесятой армий Брянского фронта, находится в лесу недалеко от посёлка Снежетьская. **Вопрос:** Какое учреждение в годы войны располагалось на месте братской могилы? **Военный госпиталь.**
	Задание:Стоя на обочине путепроводного моста или на пешеходном мосту через пути, сфотографируйтесь на фоне памятного знака воинам единственного фронта названного именем районного центра.Назовите этот фронт? **Брянский.** Какие армии входили в состав фронта? **50, 3.**
	Задание: **Сфотографируйтесь** на фоне стелы. **Вопрос:** Как она называется? **Аллея Воинской Славы и Труда Володарского района г. Брянска.**

Приезд Гагарина

 	Ю.А. Гагарин прибыл в Брянск в мае 1966 года, его кандидатуру выдвинули в Верховный Совет СССР. Гагарин на открытой машине в сопровождении почетного эскорта проехал по главным улицам Бежицкого, Советского, Фокинского и Володарского районов Брянска. **Вопрос:** 1.С какой целью приезжал Ю.А. Гагарин В Брянск? **Чтобы встретиться с избирателями.** 2. Какой памятник на пути следования кортежа Гагарина был установлен в Володарском районе? **Девушка со спутником** **Задание:** 1. Сфотографируйтесь на фоне памятника установленного на пути следования кортежа Гагарина. 2. Перед Вами фото Гагарина. На фоне, какого дома оно сделано, напишите адрес дома **ул. Пушкина д.34**и сделайте на его фоне фото команды в нужном ракурсе.

Кукольный театр и парк Юность

Брянское отделение Московской железной дороги, передали помещение бывшего клуба имени И. Фокина в Володарском районе Брянска. Вместе со зданием клуба театру передан прилегающий парк и стадион.

Вопрос:В каком году в Брянске был открыт театр кукол?**1972 году.**

В парке «Юность» есть интересный объект (см. фото). Что это?**Кинобудка**

Задание:Сделайте фото на фоне театра и интересного объекта.

Школа 33

Из воспоминаний М. Титовой

«На этих метрах велел мне собрать



и посчитать потерянные после конной косилки колоски. Потом достал блокнот и подсчитал, сколькопотеряно зерна на одном гектаре и на всем поле. Я поразилась полученной цифре! А он стал говорить о том, что в блокадном Ленинграде люди голодают, им не хватает хлеба, а у вас он гниет. "Теперь, секретарь, знаешь, что делать?", - спросил он меня. Я ответила: "Да, знаю".

Вопросы:

3. Мария Александровна получила письмо с благодарностью от Сталина. За что её благодарили?
   За сбор средств на танковую колонну "Колхозник Чувашии"
4. В 90 летний юбилей Мария Александровна была награждена медалью за развитие культуры, за какую работу?
   Десять лет она возглавляла районное общество охраны памятников истории и культуры, руководила всей поисковой и краеведческой работой в районе, писала Книгу Памяти.

Задание:

1.Прочтите воспоминания Титовой, как она поступила, чтобы уменьшить потери зерновых?
Организовала школьников с сумками на сбор потерянных колосков

Сфотографируйтесь на фоне памятной доски Марии Александровны.

Площадь Пушкина Сухарный завод

Задание:

Сфотографируйтесь на фоне памятника.

Зарегистрируйтесь ВК на странице Отечество

Подготовьте стихотворение или отрывок поэмы А.С. Пушкина (не менее 12 строк)

Снимите видео - участник(и) команды читающий стихотворение на фоне памятника А.С. Пушкину.

Разместите снятое видео в ВК на станице «Отечества»https://vk.com/otechestvo32, обязательно указав название команды

«Брянский военно-сухарный завод с мукомольней, заложен 29-го июня 1896 года в Царствование Императора Николая II, при Военном Министре генерал-адъютанте Ванновском и главном интенданте генерал-лейтенанте Тевяшеве. Строитель тайный советник инженер барон фон-Дершау». Этот текст был выбит на металлической доске.

Вопрос:

3. **Для каких целей была изготовлена доска, где находилась**?

<u>При закладке завода для потомков положена металлическая доска.</u>

4. **Какую продукцию выпускал завод:**

в начале 20 века? **<u>Сухари</u>**

в начале 21 века?**<u>Квас, пиво</u>**

Задание:

3. Перед Вами фотографии Сухарного завода, сделанные в разные годы:

1930-1940

1950-1960

2010-2020

Подпишите года на фотографиях.

4. Сфотографируйтесь на фоне проходной завода.

2.Улица Пушкина

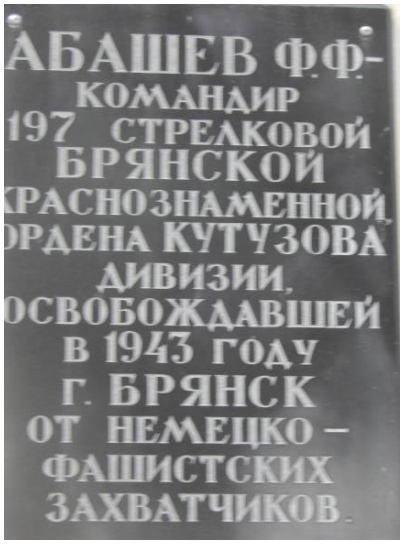

Имя Ф.Ф. Абашева увековечено в названии улицы и в её начале установлена памятная доска.**Вопрос:**

2. Почему именно в Володарском р-не увековечена память Ф.Ф. Абашева?

<u>Его дивизия освободила район</u>

Задание:

3. Сфотографируйтесь на фоне памятной доски.
4. Подчеркните дату освобождения Володарского района г.Брянска от немецко-фашистских захватчиков:

<u>13 сентября 1943 года</u>

16 сентября 1943 года

17 сентября 1943 года

	Вопросы: **1.Статистика. Сколько в районе:** многоквартирных жилых домов - **547** улиц – **127** памятников истории -**20** мемориальных досок – **29** учреждений культуры- **12** образовательных учреждений -**37**. 2.**Как называется работающее в районе предприятие, созданное в 2009 году по соглашению администрации Брянской области и Республики Беларусь?** **АМКОДОР - БРЯНСК** **Задание:** Сфотографируйтесь на фоне информационных стендов

Площадь Володарского

 Открытка г. Брянск начала 70-х годов	**Вопрос:** В канун какой юбилейной даты в Володарском р-не был установлен памятник В. Володарскому? **В канун 50-летия Великого Октября** **Задание:** Сфотографируйте команду в ракурсе открытки
  	В Брянском рабочем – 1958 года 12 ноября (№230) есть такие строки «В этом году Володарский район Брянска украсило немало новых домов». Значительная часть их построена для работников завода «Строммашина». **Вопросы: 5.** Как сейчас называется завод «Строммашина»?**Ирмаш** 5. Какой завод в 1951 году был перепрофилирован и назван «Строммашина»? **Вагоностроительный заводим. Урицкого.** 6. Какой местный завод с 1870 по 1917 год выпускает железнодорожные вагоны, паровозы, пароходы. **Радицкий железный завод.** 7. Укажите адрес дома, изображённого на открытке? **улица Пушкина, д. 38** **Задание:** Сфотографируйтесь на фоне современного дома.

Стадион Володарского района

 Название объекта, изображённого на граффити	Место его расположения
 Памятник паровозу и железнодорожникам	Установлен на 1 платформе станции Брянск – Орловский
 Довоенный вокзал станции Брянск - Орловский	Ул Речная дом 2
 Памятник бойцам Брянского фронта	Установлен на кольце перед въездом на ж/д вокзал и путепровод
 Здание театра кукол	Ул. Пушкина

С одной стороны, стадион украшен граффити, с другой протекает ручей.

Вопросы:

1.Как называется стадион**?**

Имени Брянских партизан.

2. Как назывался ручей,протекающий за стадионом раньше и теперь?ранее **Глубочка** сейчас **Голубочка**

3.В центре фото, левее опоры с прожекторами, стоит здание. Как оно называется, его назначение?**Брандмастер, для тренировки спортсменов по пожарно-прикладному спорту.**

Задание:

1. Сфотографируйтесь у ручья, на фоне стадиона

2.Сфотографируйте отдельные объекты, изображённые в стиле граффити. На фото должен быть 1 член команды в роли экскурсовода, остальные слушатели (заполните таблицу).

	**Вопрос:** 4. Как называется храм? **Храм во имя блаженной Ксении Петербуржской** 5. Сколько колоколов в звоннице? **5** 6. На храме прикреплена памятная плита. Какому событию она посвящена? **100 летию с начала гонений на Русскую церковь, в воспоминание о репрессированных православных священнослужителей и мирян служивших и трудившихся в этих местах** **Задание:** Сфотографируйтесь на фоне церкви.

Техникум

	Задание: 1.Заполните пробелы в тексте: В 1978 году было организовано профессионально-технического училище по подготовке рабочих кадров для **радиоэлектронной** промышленности. Затем путём дальнейших реорганизаций 1998 году преобразовано в **Профессиональный лицей № 9**, а в 2010 году присоединено **Профессиональное училище №2**, и в 20**16** году получило современное название учреждения **«Брянский техникум энергомашиностроения и радиоэлектроники имени Героя Советского Союза М.А.Афанасьева».** 2.Укажите первоначальное место и год установки памятника токарному станку? **Покровской горе с 1980 года** 3.Сфотографируетесь на фоне станка. 4. Что изображено на барельефах верхнего яруса станка. **Сцены из жизни юных токарей.**

150 лет железнодорожному сообщению по станции Брянск-Орловский

1. Привокзальная площадь

Вопросы:

1. Почему железнодорожную станцию в городе Брянск называют узловой?

_____

2. Назовите год постройки и архитектора здания вокзала Брянск – Орловский:

старой части здания _____ год,

архитектор_____

новой части здания _____ год,

архитектор_____

3. Пронумеруйте в хронологической последовательности представленные фото вокзала.

1. Здание конца 19 века
2. Здание начала 20 века
3. Здание середины 20 века
4. Здание конца 20 века

4. В 1913 году по проекту инженера Ивана Рерберга заложили Брянский вокзал, в 1934 году его переименовали. В каком городе находится вокзал, как назвали вокзал после переименования?

_____

Какой наградой и когда награждена Московская железная дорога?

_____

Задание:

1.**Сфотографируйтесь** командой:

- на фоне здания вокзала;
- у представленных на фото объектов;
- а также на фоне таблички свидетельствующей о столкновении железнодорожников с царскими жандармами.

<table>
<tr>
<td>
 </td>
<td>Задание:
1.Сфотографируйтесь у памятника паровозу
Вопросы:
1.Назовите марку установленного паровоза, а также: в каких годах и какой стране выпущен? _____
2. Ккой юбилейной дате установлен паровоз? _____
3. Какие ещё объекты входят в композицию с паровозом? _____, назовите профессию представленных рабочих _____.
4. В Брянске установлен ещё один памятник паровозу серии ФД, назовите место его установки. _____</td>
</tr>
<tr>
<td> </td>
<td>Задание:
Сфотографируйтесь командой у данного объекта и на входе в домовой храм.
Вопросы:
1. Как называется храм, расположенный в здании вокзала?
_____
2. Почему именно в честь этого святого назван храм?_____</td>
</tr>
<tr>
<td>Петр Ионович Губонин родился в 1828 году. Из крепостных. Предприниматель. Землевладелец. В 1858 году получил вольную Разбогател на подрядах. Начал в 1864 году с постройки каменных мостов для Московско-Курской ж/д.
 

У Петра Ионыча Губонина не было никакого образования, но были ясный ум, энергия, трудолюбие, было умение видеть проблему, знать пути её решения и видеть перспективу.</td>
<td>Поразмыслив, что дорога должна пройти и через брянские леса, он скупает обширные угодья в Брянском уезде. А в 1865 году вблизи реки Болвы ставит распиловочный _____завод, В 1873 году у места слияния рек Болвы и Десны начал строительство_____ завода, сейчас это завод _____.
В 1865 года, после объявления повторного конкурса на подряд по строительству дороги от Орла до Витебска главным подрядчиком становится _____. В 1868 году купец Петр Губонин завершил строительство дороги. В 1878 году Губонины получили дворянский герб с девизом "Не себе, а _____ ".
Задание:
Заполните пробелы в тексте и сфотографируйтесь на фоне портрета.</td>
</tr>
</table>

	Укажите, за какие заслуги в 1967 году Брянская область награждена орденом Ленина. _____- _____ Сделайте **фото** команды на фоне подтверждающего документа.

2.Зал ожидания

Задание:

1. Перед вами фрагмент витража, **сфотографируйте** предложенные витражи целиком, назовите изображённые объекты и укажите их место расположения.

Фрагмент витража					
Название					
Местоположения					
Фото витража					

2. Используя имеющую подсказку, перечислите города Брянского княжества 13-14 веков: _____
3. Перед вами гербы современных городов Брянской области, чьи земли предположительно ранее входили в Брянское княжество, назовите их:

4. **Сфотографируйтесь** на фоне портрета князя Олега Брянского.
   Кто из князей 13 века превратил Брянск, в стольный город? _____.
   В какомвеке на Брянской земле правил князь Олег Романович?_____ __,
   от кого он получил престол?_____.
   Чем занимался после княжения?_____
   Какой монастырь построен под его руководством, куда он впоследствии под именем _____ и ушёл _____.
   Кто возглавлял брянский полк в Куликовской битве? _____.

3. На стене в зале у касс дальнего следования смонтирована схема железнодорожного сообщения между Брянском и другими городами.Задание: Пользуясь схемой укажите:
1. В каких городах установлены представленные объекты архитектуры.
2. Названия стран зарубежных городов.
3. Города, сменившие названия?

Музей космонавтики	**Курган бессмертия**	**Орёл**	**Курский соловей**
Виноград	**Тракторный завод**	**Мамаев курган**	**Церковь С. Радонежского**
Драм. театр им.Я. Колоса	**Собор Василия Блаженного**	**Атенеум (филармония)**	**Здание парламента**
М-л Советскому солдату	**Киево-Печерская лавра**	**Костёл Иезуитов**	**Собор святого Петра**

Памятник коню	**Крепостная стена**	**Медный всадник**	**Брестская крепость**
			
«Ворота города»	**Резиденция президента**	**Дворец Румянцевых - Паскевичей**	**Фонтан «Зеркальная струя»**

150 лет железнодорожному сообщению по станции Брянск-Орловский

2. Привокзальная площадь (Ответы для судей)



Вопросы:

3. Почему железнодорожную станцию в городе Брянск называют узловой?

(Сходиться несколько направлений 7)

4. Назовите год постройки и архитектора здания вокзала Брянск – Орловский:

старой части здания **1952**год,

архитектор**В. Ф. Скаржинский:**

главный архитектор А. Н. Душкин

новой части здания **1981**год,

архитектор **Я. В. Шамрай**

3. Пронумеруйте в хронологической последовательности представленные фото вокзала.

1. Здание конца 19 века
2. Здание начала 20 века
3. Здание середины 20 века
4. Здание конца 20 века

5. В 1913 году по проекту инженера Ивана Рерберга заложили Брянский вокзал, в 1934 году его переименовали. В каком городе находится вокзал, как назвали вокзал после переименования?

Москва - Киевский

Какой наградой и когда награждена Московская железная дорога?

орден Ленина, 29 07. 1966 год

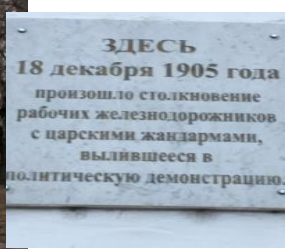

Задание:

1.**Сфотографируйтесь** командой:

- на фоне здания вокзала;
- у представленных на **фото**объектов;
- а также на **фоне** таблички свидетельствующей о столкновении железнодорожников с царскими жандармами.

<table>
<tr>
<td>
 </td>
<td>Задание:
1.Сфотографируйтесь у памятника паровозу
Вопросы:
1.Назовите марку установленного паровоза, а также: в каких годах и какой стране выпущен? <u>"Эр-787-70", в 1952 году польской Познани.</u>
2. К какой юбилейной дате установлен паровоз? в <u>2005 году, к 60-летию Победы.</u>
3. Какие ещё объекты входят в композицию с паровозом<u>семафор и водоразборная колонка</u>, назовите профессию представленных рабочих <u>путеец</u>.
4. В Брянске установлен ещё один памятник паровозу серии ФД, назовите место его установки. <u>Этот памятник установлен в сквере 50-летия Советской власти в Фокинском районе Брянска в 1967 году.</u></td>
</tr>
<tr>
<td>
 </td>
<td>Задание: Сфотографируйтесь командой у данного объекта и на входе в домовой храм.
Вопросы: 1. Как называется храм, расположенный в здании вокзала?
<u>Храм часовня во имя Святителя Николая.</u>
2.Почему именно в честь этого святого назван храм?<u>Является покровителем путников.</u></td>
</tr>
<tr>
<td>Петр Ионович Губонин родился в 1828 году. Из крепостных. Предприниматель. Землевладелец. В 1858 году получил вольную Разбогател на подрядах. Начал в 1864 году с постройки каменных мостов для Московско-Курской ж/д.
 

У Петра Ионыча Губонина не было никакого образования, но были ясный ум, энергия, трудолюбие, было умение видеть проблему, знать пути её решения и видеть перспективу.</td>
<td>Поразмыслив, что дорога должна пройти и через брянские леса, он скупает обширные угодья в Брянском уезде. А в 1865 году вблизи реки Болвы ставит распиловочный <u>шпальный</u> завод. В 1873 году у места слияния рек Болвы и Десны начал строительство<u>рельсопрокатного</u> завода, сейчас это завод <u>БМЗ</u>.
В 1865 года, после объявления повторного конкурса на подряд по строительству дороги от Орла до Витебска главным подрядчиком становится <u>П.И. Губонин</u>. В 1868 году купец Петр Губонин завершил строительство дороги. В 1878 году Губонины получили дворянский герб с девизом "Не себе, а «<u>Родине</u> ".
Задание:Заполните пробелы в тексте и сфотографируйтесь на фоне портрета.</td>
</tr>
</table>

	Укажите, за какие заслуги в 1967 году Брянская область награждена орденом Ленина. **За успехи, достигнутые в восстановлении и развитии народного хозяйства, 30 января 1967 года**. Сделайте фото команды на фоне подтверждающего документа.

2. Зал ожидания

Задание:

5. Перед вами фрагмент витража, **сфотографируйте** предложенные витражи целиком, назовите изображённые объекты и укажите их место расположения.

Фрагмент витража					
Название	**Надвратная церковь Сретенья**	**Памятник Пересвету**	**Площадь Партизан**	**Воскресенская церковь**	**СпасоГробовская церковь**
Местоположения	**Свенский собор**	**Покровская гора**	**Площадь Партизан**	**Напротив цирка**	**У гостиницы Брянск**
Фото витража					

6. Используя имеющую подсказку, перечислите города Брянского княжества 13-14 веков: Брянск, **Карачев, Трубчевск, Севск, Стародуб, Новозыбков, Мглин**

7. Перед вами гербы современных городов Брянской области, чьи земли предположительно ранее входили в Брянское княжество, назовите их:

Выгоничи	**Погар**	**Комаричи**
Навля	**Почеп**	**Суземка**

8. Сфотографируйтесь на фоне портрета князя Олега Брянского.

Кто из князей 13 века превратил Брянск, в стольный город? **Роман Михайлович**.
В какомвеке на Брянской земле правил князь Олег Романович? **13 веке (1290),** от кого он получил престол?**от отца Романа Михайловича**
Чем занимался после княжения?**ушёл в монахи**
Какой монастырь построен под его руководством, куда он впоследствии под именем **Василий** и ушёл **Петропавловский**.
Кто возглавлял брянский полк в Куликовской битве? **Дмитрий Ольгердович Брянский**

3. На стене в зале у касс дальнего следования смонтирована схема железнодорожного сообщения между Брянском и другими городами.

Задание: Пользуясь схемой, укажите:
1. В каких городах установлены представленные объекты архитектуры.
2. Названия стран зарубежных городов.
3. Города, сменившие названия?

Музей космонавтики	**Курган бессмертия**	**Орёл**	**Курский соловей**
Калуга	**Брянск**	**Орёл**	**Курск**
Виноград	**Тракторный завод**	**Мамаев курган**	**Церковь С. Радонежского**
Симферополь	**Липецк**	**Волгоград**	**Горький - НижнийНовгород**
Драм. театр им.Я. Колоса	**Собор Василия Блаженного**	**Атенеум (филармония)**	**Здание парламента**
Витебск	**Москва**	**Бухарест - Румыния**	**Будапешт - Венгрия**

М-л Советскому солдату	**Киево-Печерская лавра**	**Костёл Иезуитов**	**Собор святого Петра**
Ржев	**Киев - Украина**	**Львов - Украина**	**Рига - Латвия**
			
Памятник коню	**Крепостная стена**	**Медный всадник**	**Брестская крепость**
Конотоп - Украина	**Смоленск**	**Ленинград Санкт-Петербург**	**Брест - Беларусь**
			
«Ворота города»	**Резиденция президента**	**Дворец Румянцевых - Паскевичей**	**Фонтан «Зеркальная струя»**
Минск - Беларусь	**Прага - Чехия**	**Гомель - Беларусь**	**Харьков - Украина**

Городская краеведческая игра
«Город юный, город древний – 2021год»

Люблю свой город утром, ясным днём,
И в холод, и в жару, и в непогоду.
Люблю в нём каждый уголок и дом,
Люблю неповторимую природу.
Люблю свой город с детства всей душой,
Не требуя взамен любви взаимной.
За что? За то, что этот город мой.
И для меня он самый-самый дивный!

Ну, что ж, друзья, пора вперед
Пройдем знакомою дорогой,
Загадки Фокинки вас ждут.
Раскроем тайны … - в путь дорогу.

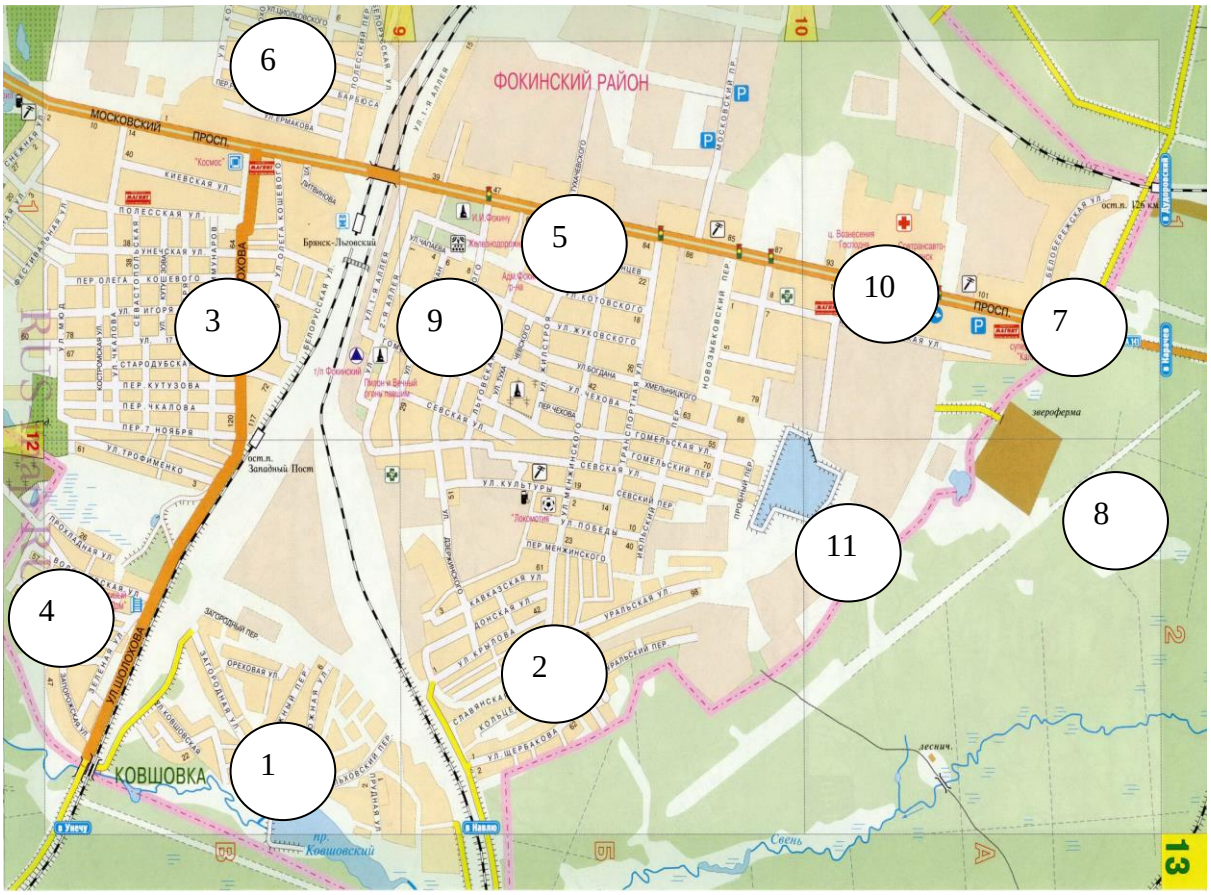

«Проспект Московский – история в каждом здании»

1. Фокинский район По справке пристава Брянскому уездному исправнику от 1897 года поселок «при вновь устроенных железных дорогах Льгово-Брянской и Полесской образовался по причине проведения железных дорог и устройства там вокзала». Люди приходили работь на «железку» из разных мест. Развивалась станция. Росло вокруг нее и жилье.	**Вопрос:** 1. Возникновение поселка связано с развитием железнодорожного строительства на Брянщине. Как назывался посёлок? _____ 2. Позднее посёлок был включён в состав города Брянска, и в память участника революционных событий на Брянщине переименован в _____ 3. 1941-1943 во время оккупации города в годы Великой Отечественной войны Фокинский район назывался _____
2. Мост через реку Десна 	Почему у моста такое название «Черный» - есть несколько предположений. 1.Стоявший здесь мост был деревянный, пропитанный смолой и выглядел черным. 2. Паромный перевоз, стоявший здесь много лет назад, осуществлял человек по прозвищу Черный. 3. «Черный брод». Река Снежеть впадала в этом месте в Десну. Внаводнение и после сильных дождей, ниже устья реки Снежеть, выносило много песка. **Вопрос:** Почему брод назвали чёрным?
3. Танк Т-34 При въезде в Фокинский район из центра Брянска рядом с мостом через реку Десна возвышается памятник гвардейским танкистам, одними из первых ворвавшимся в центральную часть города 17 сентября 1943	**Вопрос:** 1. Когда освободили Фокинский район от немецких захватчиков? _____ 2. В канун какой годовщины освобождения г.Брянска от немецких захватчиков при въезде в Фокинский район установлен памятник гвардейским танкистам? _____ 3.Где стоит танк № 142 _____ 4. Где стоит танк № 742 _____

4. Воинская часть 	**Вопрос:** Укажите год образования части. _____ **Задание:** 1.Сфотографируйтесь на фоне данного объекта. 2. Сфотографируйтесь на фоне объекта, увековечивший память о жертвах. замученных в концлагерях.
5. Проспект Московский Московский проспект – главная магистраль района, главная его улица. Изначально, покрытие было булыжником. Проходила дорога от «Черного моста», пересекала железнодорожные пути и устремляется в направлении на г. Орел. На проспекте есть интересный объект. 	**Вопрос:** 1.Почему проспект назван Московским? _____ _____ 2.Как ещё называлось это шоссе? _____ 3. Что это за объект, его назначение. _____ **Задание:** Сфотографируйтесь на его фоне.
6. Магазин Шипка Шипка – перевал в горах Стара-Планина. Во время войны 1877-1878 русско-болгарские войска отразили атаки войск Сулейман-паши. Там установлен памятник защитникам перевала. В 1965 году в Брянске было организовано общество советско-болгарской дружбы. 	**Вопрос:** 1.Во время какой войны происходили эти события? _____ 2.Какие еще объекты, названия в городе Брянске подтверждают дружбу с Болгарией? _____ _____ **Задание:** Сфотографируйтесь на фоне вывески магазина «Шипка».

7.Стенды вдоль проспекта Московского Вдоль проспекта Московского у магазина «Шипка» и стелы Победы по улице Красный Партизан, установлены стенды с картами решающих битв Великой Отечественной войны. Вашему вниманию представлено три памятника. Все они выплавлялись на одном заводе и имеют преемственность. 	**Вопрос:** 1. В каких городах установлены данные памятники _____ _____ _____ 2. О чём символично они повествуют? _____ _____ **Задание:** Сфотографируйтесь на фоне стенда (с названием битвы с изображением карты и даты сражения) имеющего отношение к данным памятникам. Укажите конкретно, какой стенд, с каким памятником связан. _____ _____ _____
8. Спорт бар на проспекте Московском  	**Вопрос:** 1. Что раньше располагалось в этом здании? _____ 2. Как оно называлось? _____ 3. Почему такое название? _____ _____ . 4. Что символизирует изображение на мозаичном панно? _____ **Задание:** Сфотографируйтесь на фоне здания.
9. Областной колледж искусств и культуры 	**Вопрос:** На здании, какого учреждения размещено данное мозаичное панно? _____ _____ **Задание:** Сфотографируйтесь на фоне вывески данного учреждения.

10. Кадетский корпус



Вопрос:

1.Какую специализацию имеет кадетский корпус?

_____

2. Корпус носит имя Героя РФ, сотрудника СОБР МВД России, участника Чеченских войн. Чьё имя носит корпус?

_____

3. Расшифруйте аббревиатуру СОБР

_____

_____

Задание:

Сфотографируйтесь на фоне центральных ворот, чтобы было видно название учреждения.

11. Топонимы Фокинского района

Народное название микрорайонов (неофициальные топонимы) района:

Задание:

1. Попытайтесь объяснить происхождение каждого «народного» названия микрорайона.

2. На карте, в примерных границах, обозначены микрорайоны. Вам необходимо их прономеровать, в соответствии с номерами предложенного перечня.

1.Ходаринка

2.Кавказ

3.Абиссиния

4.Ковшовка

5.Девятка

6.Козлы

7.Орловский

8.Звероферма

9.Центр

10.Больничный городок

11. Пробное поле

12. Название улиц Фокинского района

Многие улицы Фокинского района названы фамилиями людей, прославивших себя в годы в установления советской власти, Великой Отечественной войны.

Задание:

Рядом с названием улицы -поставьте номер, из колонки «Деятельность и заслуги человека», соответствующий деятельности конкретного человека.

Название улиц	Деятельность и заслуги человека
Менжинского	**1.**Маршал Советского Союза (1935). Расстрелян в реабилитирован в 1957 г.
Дмитрия Кравцова	**2.**Партизан, герой СССР
Игоря Кустова	**3.**Русский революционер, участник. расстрела Никола его семьи.
Котовского	**4.** Бывший грабитель, член партии, сражал белогвардейскими группировками
Олега Кошевого	**5.**Революционер, участник гражданской войны на Укра России) в 1917—1922 гг.
Жуковского	**6**.Один антифашистской комсомольской органи «Молодая гвардия»
Пархоменко	**7**.Поэт, переводчик, литературный критик, педагог. слов гимна Российской империи «Боже, Царя храни!»
Ермакова	**8.**Руководитель партизанского отряда
Трофименко	**9.**Лётчик-испытатель, совершившего первый беспосад перелёт через Северный полюс из Москвы в Америку.
Циалковского	**10.** Военачальник. Герой Советского Союза, ге полковник
Чкалова	**11**.Учёный, разрабатывавший теоретические во космонавтики.
Щербакова	**12.**Писатель, киносценарист. Лауреат Нобелевской пре литературе
Тухачевского	**13.**Революционер, приемник Дзержинского
Шолохова	**14.**Советский государственный и партийный деятель, ге полковник

13. Продукция брянских заводов.

Паровоз „Победа" – первенец Брянского завода „Красный Профинтерн" 1947 г.

Первый паровоз типа 1-5-0 Л, построенный Брянским заводом в 1945 г.

Первая железная дорога в Брянском крае была построена в 1868 году. Она пролегла от Орла через Карачев-Брянск-Смоленск-Витебск и далее до Риги (Рижская).

Брянск-Гомель (Полесская), введена в действие в 1887 году.

В 1896 - 1897 г.г. вступила в строй дорога Брянск-Льгов, начинавшаяся от ст. Брянск-Льговский (Брянск-2) и проходившая через Навлю-Брасово-Комаричи.

В 1899 г. открылось движение по железной дороге Москва-Брянск



Фото из музея Брянской железной дороги

Перед вами паровозы, которые в довоенное и военное время работали на железных дорогах страны, в том числе и в Брянске.

Все эти паровозы выпускались на брянском заводе.

Задание:

1.Укажите название Брянского завода.

_____ .

2.На каком ещё Брянском заводе выпускались вагоны

_____.

3. В хронологической последовательности пронумеруйте фото паровозов.

14.Вокзал Брянск-Льговский.

В 1897 году завершилось строительство дороги Брянск-Льгов. В 1912 году было сдано в эксплуатацию новое кирпичное здание вокзала с перроном. В годы войны полностью разрушено, после войны отстроено заново.

Современное здание построено



Сейчас идёт реконструкция вокзала

Вопрос:

1.В каком году было построено нынешнее здания вокзала?

_____

2.Используя схему движения поездов. В направлении каких городов движутся поезда через станцию Брянск - Льговский?

_____

3. В каком году будет отреставрировано здание вокзала,_____ к какому событию приурочено?

_____

_____

_____

Задание:

1.Сфотографируйтесь на фоне здания вокзала.

2.Сфотографируйтесь на пешеходном мосту, на фоне здания вокзала

15. Улица 1 и 2 Аллея

Это старейшие улицы района. Возникли почти – что вместе с вокзалом и вплотную к железнодорожной станции. На улице располагались одноэтажные деревянные дома, в которых проживало начальство и находились административные здания. Середина аллеи в 1919 году была вымощена булыжником, а края – красным кирпичом.

Вопрос;

1.Почему улицам дали такое название?

_____

_____

_____

2. Напишите фамилию почётного железнодорожника, участника парада Победы 1945 года.

_____

Задание:

1. Сфотографируйтесь на фоне дома (см. фото) по улице 2 Аллея.
2. Сфотографируйтесь на фоне мемориальной доски почётному железнодорожнику.

16. Памятник Паровозу

По улице 2 Аллея установлен макет первого русского паровоза и паровоз-обелиск, в который вмонтирована передняя часть паровоза серии «ФД», работавшего на Брянском отделении. Эти паровозы созданы в годы индустриализации.

Вопрос:

1. Кем и когда, был изготовлен первый русский паровоз.

_____.

2. В каком году макет первого паровоза установлен в городе Брянск?

_____

3.Как расшифровать сокращение ФД.

_____

4. В каких годах паровозы серии ФД эксплуатировались на Брянском отделении железной дороги?

_____

5. В каком году, и к какому событию установлен паровоз-обелиск.

_____

_____

Задание:

Сфотографируйтесь на фоне макета первого паровоза.

Сфотографируйтесь на фоне паровоза ФД.

17. Сквер Паристого 	**Вопрос:** **1.** Как до переименования назывался сквер И.Л. Паристого? _____ _2. Паристый И. Л.-почётный гражданин двух городов. Назовите, каких? _____ _ 3.Что в 60 годы находилось на месте бюста И.Л. Паристому? _____ **Задание:** Сфотографируйтесь на фоне бюста И.Л. Паристого.
18. Стела Победы 	**Вопрос:** 1.Какой орден изображён на стеле, почему именно он? _____ _____ __ 2. Назовите сроки Брянской наступательной операции? _____ 3. Командный пункт, какой дивизии, освобождавший в 1943 году Брянск, располагался вблизи стелы? _____ 4. Партизаном, какой бригады был М.А. Гаризан? _____ **Задание:** 1.Сфотографируйтесь у стелы. 2. Сделайте фото на фоне дома по улице Красных партизан, с вот таким украшением.
19 Здание дворца и парк культуры ж/д 	**Задание:** 1.Сфотографируйтесь на фоне дворца культуры Железнодорожников и на фоне баннера с цветами 2. Благотворительным фондом «Память поколений» в парке железнодорожников смонтирована аллея памяти поколений "Герои среди нас". Напротив фамилии героя впишите их квалификацию: 3.1 Родобольский И.О. - _____; 3.2 Ольшанский А.Г. - _____ 3.3 Ильина С.Б. -

<table>
<tr>
<td>
</td>
<td>_____
3.4 Стариков М.П. -
_____
3.5 Капыркин А.С.
_____
3.6 Пронин В.Г,
_____
3.7 Куропатков Е.П.
_____
3.8 Кананыхин С.П.
_____
3.9 Смирнова З.П.
_____
3.10 Лагодин В.М. –</td>
</tr>
<tr>
<td>20.Памятник Игнату Фокину
 
Игнат Фокин был направлен в город Брянск Московским бюро ЦК РСДРП после Февральской революции возглавлять Брянский комитет большевиков. Пользуясь большой популярностью у трудящихся города, он был избран в Совет Народных Комиссаров, вскоре стал его председателем. Возглавлял Брянский уездный исполком, при его непосредственном участии велась подготовка к образованию Брянской губернии. 15 апреля 1920 года Постановлением Совета Народных Комиссаров была образована Брянская губерния (с центром в Брянске).
Умер в возрасте 30 лет, заболел тифом. В день его похорон траурная процессия насчитывала около 20 тысяч человек. Похоронили его на Соборной площади Брянска. А.В. Луначарский, посетивший Брянск осенью 1919г., писал: «Похороны его носили столь грандиозный характер, что не только Брянск, а, может быть, даже Россия, редко видели нечто подобное».</td>
<td>Вопрос:
1. Как увековечена память Игната Фокина в Брянске?
_____
_____
2. Как сейчас называется Соборная площадь
_____
3.На ч/б фото памятник. Где он установлен и к какому событию приурочен.
_____

3. В год 40летия Октябрьской революции был установлен памятник Игнату Фокину, через 20 лет он был заменен.
Назовите годы установки памятников И. Фокину в Фокинском районе.
_____
4. Сколько лет Брянск был губернским городом?
_____

Задание:
Сфотографируйтесь на фоне памятника И. Фокину</td>
</tr>
</table>

21. Здание суда



Нарсуд 3-го участка города Брянска, по материалам Фонда Государственного архива Брянской области, как городской суд образован 18 июня 1923 года.

Вопрос:
В каком году Фокинский районный суд переведён в нынешнее здание?

_____

2. Что в этом здании располагалось ранее?

_____

Задание: Сфотографируйтесь на фоне здания суда.

22. Лицей № 27

Вопросы:
1.Какой номер носила школа, ранее находившаяся на этом месте?

_____

2.Какой номер был у школы в послевоенные годы?

_____

4. Как вы думаете, какие ещё 2 старейшие школы есть в районе.

_____

Задание
Сфотографируйтесь на фоне здания школы

23. Памятник ученикам героям Лицея № 27 г. Брянска

Все они в разное время учились в этой школе. Все они совершили подвиг.

Олег Визнюк родился 1968 года. После окончания школы поступил в Ташкентское командное училище, закончив его стал командиром роты разведки, затем командиром мотострелкового взвода батальона оперативного назначения. Трижды был командирован в Чечню. В 1995 году награждён орденом «За личное мужество». Погиб в августе 1996года, 31 декабря 1997 года О.С. Визнюку посмертно, было присвоено звание Героя России.

Владимир Рябок, родился 1914 году, перед войной работал на Дятьковском хрустальном заводе. Когда враг подошел к Брянску - возглавил молодежный партизанский отряд. Его группа принимала участие в освобождении г. Дятьково. Погиб В. Рябок в мае 1942г. во время боя близ дер. Верхи

Валентина Сафронова – родилась 1918 году, разведчица Брянского городского партизанского отряда им. Кравцова. Добывала ценные сведения, держала связь с подпольщиками, неоднократно переходила через линию фронта. Погибла Валентина в декабре 1942 года при выполнении боевого задания в районе деревни Ворки, она была тяжело ранена, попала в плен, переправлена в гестапо в Брянске.

Олег Ермаков родился в 1976 году. В 1994 году поступил в Рязанское высшее военное десантное училище. В 2000 году выполнял специальное задание Правительства РФ на территории Чечни. Узнав, что 6 рота ведет кровопролитный бой в районе Аргунского ущелья, предпринял попытку прорваться к обороняющимся. В ходе выполнения боевой задачи получил тяжелые, множественные ранения груди. 12 марта 2000 года за мужество и героизм, проявленные в боях с террористами, гвардии лейтенант Ермаков посмертно удостоен звания Героя России.

Игорь Кустов со школьных лет мечтал об авиации. Родился в 1921году, закончил 9 классов, Брянский аэроклуб, и поступил в военную авиационную школу пилотов. Когда началась война, Кустов стал летчиком-истребителем. В воздушных боях он проявлял мужество, отвагу. совершил около 200 боевых вылетов, сбил 8 самолётов противника лично и 6 в группе. Погиб Игорь в боях под г. Киевом в декабре 1943 года.

Задание: 1.Сфотографируйтесь на фоне памятника Героям

2.Сфотографируйтесь на фоне мемориальных досок расположенных на здании лицея № 27.

3.Подпишите фотографии, указав имя, фамилия, возраст и род войск.

4. Как и где увековечена память героев, помимо лицея 27

24. Улица Челюскинцев



Это немногие шлакобетонные дома, которые уцелели на данной улице. Застройка улицы началась в 1947 году, строили их ……

Вопрос:

Как вы считаете кто их строил:

- Железнодорожники
- Пленные немцы
- Активно использовали труд школьников подростков

Задание:

Сфотографируйтесь на фоне этих домов так, чтобы была видна вывеска с названием улицы.

25. Пожарная часть

В каждом районе города есть своя пожарная часть.

Вопрос:

1. В каком районе города, какая пожарная машина установлена?

1 _____

2 _____

3 _____

Задание:
Сфотографируйтесь на фоне пожарной машины, установленной в Фокинском районе по адресу ул. Котовского , 32.

26. Центр внешкольной работы Фокинского района

Здание построено в 1955 году СМП-717 (строительно монтажный поезд). В 1967 году в нём был открыт Дом пионеров Фокинского района. В 1991 году переименован в Центр детского творчества Фокинского района..



Вопрос:
1.Как использовалось это здание в период с 1955 по 1967 год?

_____

2.Как используется сейчас

_____

Задание:
Сфотографируйтесь на фоне здания.

27. Мелькрукк

Совнарком СССР принял постановление о строительстве мелькомбината в Брянске в 1945 году. Введено в эксплуатацию в 1950 году. Оно представляло собой элеватор ёмкостью 32 тысячи тонн и мельницу для переработки ржи. На протяжении сорока лет комбинат постепенно вводил в действие новые мощности

Вопрос:
1.В названии предприятия «Мелькрукк» «зашифровано» то, чем оно занималось. Расшифруйте его.

_____

2.В 2007 году над проходными предприятия воцарилась буква «А», что она означала?

_____

3.Сейчас предприятие входит в ООО «Брянская зерновая компания». Назовите фамилия генерального директора

_____

_

4.Как называются бетонные «тубусы», которые вы видите за забором предприятия «Мелькккрук» .

_____

Задание:
Сфотографируйтесь на фоне проходных, чтобы хорошо читалось название.

28. Брянсксельмаш Мотороремонтный завод создавался на базе бывшего банно-прачечного комбината, разрушенного в Великую Отечественную войну, по улице Н-Советской, 38. Ныне - проспект Московский, 86 города Брянска.  	**Вопросы:** 1. В каком году начало свою работу мотороремонтный завод? _____ 2. Сколько зерноуборочных _____ и кормоуборочных комбайнов _____ представлено на баннерах слева от проходной, по проспекту Московскому. 3. Какую кормовую культуру убирает комбайн FS 80 _____ **Задание:** 1. Сфотографируйтесь на фоне вывески с названием, логотипом и годом основания завода
29. Хлебокомбинат № 1 	**Вопрос:** 1. В каком году основан Брянский хлебокомбинат? _____ 2. Какие зерновые культуры выращивают на Брянщине, которые в дальнейшем используются для выпечки хлеба: _____ **Задание:** Сфотографируйтесь на фоне вывески
30. школа № 28 	Перед вами три разных учреждения Фокинского района. **Вопрос:** 1.Назовите каждое учреждение _____ _____ _____ 2.Что общего между ними, как они связаны?

31. Городское ГАИ 	**Вопрос:** 1. В каких годах автомобиль 33-73 БРУ колесил по улицам города? _____ 2. Приказом МВД СССР от 22.09.1969 г № 338 вводится новая окраска машин милиции СССР. Какая? _____ **Задание:** Сделайте фото на фоне машины.
32.Транснефть «Дружба» Нефтепроводная магистраль "Дружба", созданная в 1964 году прошла через: Украину, Беларусь, Польшу, Чехию, Словакию, Германию, Венгрию, Латвию, Литву.	**Вопрос:** 1. Какое государство не указано в списке стран? _____ 2. Как бы выглядел список стран в 1980 году? _____ **Задание:** Сфотографируйтесь на фоне здания с названием предприятия.
33.Православный храм 	**Вопрос:** 1. Как называется храм? _____ 2.Когда празднуется Вознесения Господне ? _____ **Задание:** Сфотографируйтесь на фоне храма.
34. Литий Предприятие было образовано в 1954 году под названием «Кинескоп». За два года до распада СССР его переименовали в «Литий». В 2017 году завод признали банкротом, а его имущество выставили на торги. Здание заводоуправления переделали в бизнес-центр.	**Вопрос:** 1. Какую продукцию выпускал завод "Кинескоп", помимо кинескопов _____ _ 2. Какую продукцию выпускал завод "Литий" _____ **Задание:** 1.Сфотографируйтесь на фоне здания с надписью Литий 2.Сделайте креативно позитивное фото для отдельного фотоконкурса на фоне "Я люблю Фокинский район".

	2. Что это?  _____ сделайте снимок всего объекта.
35. Мемориальная плита в память жертв лагеря для военнопленных «Майзе». 	В районе «Пробного поля» напротив «Больничного городка» сразу после освобождения города были вскрыты захоронения жертв оккупации. Вопрос: 1. Сколько расстрельных ям было обнаружено? **Задание:** Сделайте фото с предложенного ракурса.

«Проспект Московский – история в каждом здании»
(с ответами)

2. Фокинский район По справке пристава Брянскому уездному исправнику от 1897 года поселок «при вновь устроенных железных дорогах Льгово-Брянской и Полесской образовался по причине проведения железных дорог и устройства там вокзала». Люди приходили работь на «железку» из разных мест. Развивалась станция. Росло вокруг нее и жилье.	**Вопрос:** 2. Возникновение поселка связано с развитием железнодорожного строительства на Брянщине. Как назывался посёлок? **Льговский** 2. Позднее посёлок был включён в состав города Брянска, и в память участника революционных событий на Брянщине переименован в **Фокинский** 3. 1941-1943 во время оккупации города в годы Великой Отечественной войны Фокинский район назывался **_Брянск -Южный**
2. Мост через реку Десна 	Почему у моста такое название «Черный» - есть несколько предположений. 1.Стоявший здесь мост был деревянный, пропитанный смолой и выглядел черным. 2. Паромный перевоз, стоявший здесь много лет назад, осуществлял человек по прозвищу Черный. 3. «Черный брод». Река Снежеть впадала в этом месте в Десну, в наводнение и после сильных дождей, ниже устья реки Снежеть, выносило много песка. **Вопрос:** Почему брод назвали чёрным? **река то мелела, то песок уносило, и брод становился опасным и коварным-чёрным- плохим, худым**
3. Танк Т-34 	**Вопрос:** 1. Когда освободили Фокинский район от немецких захватчиков? **14 сентября 1943** г. 2. В канун какой годовщины освобождения г.Брянска от немецких захватчиков при въезде в Фокинский район установлен памятник гвардейским танкистам? **25- й** 3.Где стоит танк № 142 **при въезде в Фокинский район**

 При въезде в Фокинский район из центра Брянска рядом с мостом через реку Десна возвышается памятник гвардейским танкистам, одними из первых ворвавшимся в центральную часть города 17 сентября 1943	4. Где стоит танк № 742 **Майский парк Бежицкий район**
4. Воинская часть 	**Вопрос:** Укажите год образования части. **19.11.1943** **Задание:** 1.Сфотографируйтесь на фоне данного объекта. 2. Сфотографируйтесь на фоне объекта, увековечивший память о жертвах. замученных в концлагерях.
5. Проспект Московский Московский проспект – главная магистраль района, главная его улица. Изначально, покрытие было булыжником. Проходила дорога от «Черного моста», пересекала железнодорожные пути и устремляется в направлении на г. Орел. На проспекте есть интересный объект. 	**Вопрос:** 1.Почему проспект назван Московским? **Раньше в столицу ездили через Орел, отсюда и название – Московский проспект** 2.Как ещё называлось это шоссе? **Карачевское шоссе** 3. Что это за объект, его назначение. **канализационная станци**и **Задание:** Сфотографируйтесь на его фоне.
6. Магазин Шипка Шипка – перевал в горах Стара-Планина. Во время войны 1877-1878 русско-болгарские войска отразили атаки войск Сулейман-паши. Там установлен памятник защитникам перевала. В 1965 году в Брянске было организовано общество советско-болгарской дружбы. 	**Вопрос:** 1.Во время какой войны происходили эти события? **Русско-турецкая война** 2.Какие еще объекты, названия в городе Брянске подтверждают дружбу с Болгарией? **Памятник болгарским патриотам, проспект Станке Димитрова** **Задание:** Сфотографируйтесь на фоне магазина Шипка.

7.Стенды вдоль проспекта Московского Вдоль проспекта Московского у магазина «Шипка» и стелы Победы по улице Красный Партизан, установлены стенды с картами решающих битв Великой Отечественной войны. Вашему вниманию представлено три памятника. Все они выплавлялись на одном заводе и имеют преемственность. 	**Вопрос:** 5. В каких городах установлены данные памятники **Магнитогорск** **Волгоград (Сталинград)** **Берлин** 6. О чём символично они повествуют? **Магнитогорск льёт меч (стальное оружие) для Победы, во время Сталинградской битвы его применили, и в Берлине меч опустили. Иначе трудовой фронт – война на передовой и конец войне.** **Задание:** Сфотографируйтесь на фоне стенда (с названием битвы с изображением карты и даты сражения) имеющего отношение к данным памятникам. Укажите конкретно, какой стенд, с каким памятником связан. **_3. Берлин**
8. Спорт бар на проспекте Московском 	**Вопрос:** 1. Что раньше располагалось в этом здании? **кинотеатр** 2. Как оно называлось? **Космос** 3. Почему такое название? **Построено в 60 годах, первый полёт в космос.** 4. Что символизирует изображение на мозаичном панно? **_ Покорение космоса** **Задание:** Сфотографируйтесь на фоне здания.
9. Областной колледж искусств и культуры 	**Вопрос:** На здании, какого учреждения размещено данное мозаичное панно? **Брянский Областной колледж искусств** **Задание:** Сфотографируйтесь на фоне вывески данного учреждения.

10. Кадетский корпус 	**Вопрос:** 1.Какую специализацию имеет кадетский корпус? **полиции** 2. Корпус носит имя Героя РФ, сотрудника СОБР МВД России, участника Чеченских войн. Чьё имя носит корпус? **В.И. Шкурный** 3. Расшифруйте аббревиатуру СОБР **специальный отряд быстрого реагирования Задание:** Сфотографируйтесь на фоне центральных ворот, чтобы было видно название учреждения.
11. Топонимы Фокинского района	
Народное название микрорайонов (неофициальные топонимы): 1.**Ходаринка** – бывший поселок, основанный в 1910-м году. 2.**Кавказ** - Когда-то далекий уголок, где на песчаных буграх поселилось несколько семей железнодорожников, из-за этих песчаных «гор» и оторванности от основной застройки назвали в шутку «Кавказом» 3.**Абиссиния** - называли Эфиопию. В 1935 году войска Италии вторглись на её территорию, но она мужественно сражалась. Возможно по аналогии «мужественного сражения» этот район получил такое название или В основном все работали на ЖД, труд тяжёлый, приходили с работы чёрные (грязные) и это тоже некая аналогия с африканцами. 4.**Ковшовка** - Когда-то здесь было селение Ковшовка. 5.**Девятка** - после войны в районе от ост ДК ЖД до ост. Менжинка, стояли большие деревянные девять бараков, отсюда и название.	**Задание:** 1. Попытайтесь объяснить происхождение каждого «народного» названия микрорайона. 2. На карте, в примерных границах, обозначены микрорайоны. Вам необходимо их прономеровать, в соответствии с номерами предложенного перечня. 6.**Козлы** - на удалении жили два брата, которые постоянно конфликтовали между собой и с окружающими и второй вариант на просторном лугу был выпас для коз. 7.**Орловский** - новый микрорайон , ближайший в направлении города Орёл 8.**Звероферма** – в 80, начало 90 годов, располагалась звероферма, где выращивали норку и др. животных с ценным мехом. 9.**Центр** – в районе жд вокзала, 1 и 2 Аллеи 10.**Больничный городок** – территория железнодорожной больницы 11. **Пробное поле –** во времена работы завода Брянский Арсенал (сейчас завод дорожных машин на набережной) на этих полях испытывали продукцию завода (пушки, ядра)

12. Название улиц Фокинского района

Многие улицы Фокинского района названы фамилиями людей, прославивших себя в годы в установления советской власти, Великой Отечественной войны.

Задание:

Рядом с названием улицы -поставьте номер, из колонки «Деятельность и заслуги человека», соответствующий деятельности конкретного человека.

Название улиц	Деятельность и заслуги человека
Менжинского13	**1.**Маршал Советского Союза (1935). Расстрелян в 1 реабилитирован в 1957 г.
Дмитрия Кравцова 8	**2.**Партизан, герой СССР
Игоря Кустова 2	**3.**Русский революционер, участник расстрела Николая II и семьи.
Котовского 4	**4.** Бывший грабитель, член партии, сражался белогвардейскими группировками
Олега Кошевого 6	**5.**Революционер, участник гражданской войны на Украин России) в 1917—1922 гг.
Жуковского7	**6**.Один антифашистской комсомольской организ «Молодая гвардия»
Пархоменко 5	**7**.Поэт, переводчик, литературный критик, педагог. А слов гимна Российской империи «Боже, Царя храни!»
Ермакова 3	**8.**Руководитель партизанского отряда
Трофименко 10	**9.**Лётчик-испытатель, совершивший первый беспосадоч перелёт через Северный полюс из Москвы в Америку.
Циалковского11	**10.** Военачальник. Герой Советского Союза, гене полковник
Чкалова 9	**11**.Учёный, разрабатывавший теоретические вопр космонавтики.
Щербакова14	**12.**Писатель, киносценарист. Лауреат Нобелевской преми литературе
Тухачевского 1.	**13.**Революционер, приемник Дзержинского
Шолохова12	**14.**Советский государственный и партийный деятель, гене полковник

13. Продукция брянских заводов.

4 Паровоз „Победа" – первенец Брянского завода „Красный Профинтерн" 1947 г.

3 Первый паровоз типа 1-5-0 Л, построенный Брянским заводом в 1945 г.

Первая железная дорога в Брянском крае была построена в 1868 году. Она пролегла от Орла через Карачев-Брянск-Смоленск-Витебск и далее до Риги (Рижская).

Брянск-Гомель (Полесская), введена в действие в 1887 году.

В 1896 - 1897 г.г. вступила в строй дорога Брянск-Льгов, начинавшаяся от ст. Брянск-Льговский (Брянск-2) и проходившая через Навлю-Брасово-Комаричи.

В 1899 г. открылось движение по железной дороге Москва-Брянск.

1

2

Фото из музея Брянской железной дороги

Перед вами паровозы, которые в довоенное и военное время работали на железных дорогах страны, в том числе и в Брянске.

Все эти паровозы выпускались на брянском заводе.

Задание:

1.Укажите название Брянского завода.

Красный Профинтерн

2.На каком ещё Брянском заводе выпускались вагоны

_ Радицкий вагоностроительный

3. В хронологической последовательности пронумеруйте фото паровозов.

14.Вокзал Брянск-Льговский.

В 1897 году завершилось строительство дороги Брянск-Льгов. В 1912 году было сдано в эксплуатацию новое кирпичное здание вокзала с перроном. В годы войны полностью разрушено, после войны отстроено заново.

Современное здание построено

Сейчас идёт реконструкция вокзала

Вопрос:

1.В каком году было построено нынешнее здания вокзала?

1967

2.Используя схему движения поездов. В направлении каких городов движутся поезда через станцию Брянск - Льговский?

Львов, Гомель-Брест, Москва

3. В каком году будет отреставрировано здание вокзала,**2021** к какому событию приурочено? **125 лет посёлку**

Задание:

1.Сфотографируйтесь на фоне здания вокзала.

2.Сфотографируйтесь на пешеходном мосту, на фоне здания вокзала

15. Улица 1 и 2 Аллея

Это старейшие улицы района. Возникли почти – что вместе с вокзалом и вплотную к железнодорожной станции. На улице располагались одноэтажные деревянные дома, в которых проживало начальство и находились административные здания. Середина аллеи в 1919 году была вымощена булыжником, а края – красным кирпичом.

Вопрос;

1.Почему улицам дали такое название?

Паровозы - дымили. Вот и посадили липы плотно друг к другу, образовалось 2 аллеи.

2. Напишите фамилию почётного железнодорожника, участника парада Победы 1945 года. **Столовицкий В.Я.**

Задание:

1. Сфотографируйтесь на фоне дома (см. фото) по улице 2 Аллея.
2. Сфотографируйтесь на фоне мемориальной доски почётному железнодорожнику.

16. Памятник Паровозу.



По улице 2 Аллея установлен макет первого русского паровоза,
и паровоз-обелиск, в который вмонтирована передняя часть паровоза серии «ФД», работавшего на Брянском отделении. Эти паровозы созданы в годы индустриализации.

Вопрос:

1. Кем и когда, был изготовлен первый русский паровоз.

1833 - 1834, отцом и сыном Черепановыми

2. В каком году макет первого паровоза установлен в городе Брянск? **2015**
3. Как расшифровать сокращение ФД.

Феликс Дзержинский

4. В каких годах паровозы серии ФД эксплуатировались на Брянском отделении железной дороги? **30**
5. В каком году, и к какому событию установлен паровоз-обелиск.

1967, 50 летие Советской власти

Задание:

Сфотографируйтесь на фоне макета первого паровоза.

Сфотографируйтесь на фоне паровоза ФД.

17. Сквер Паристого 	**Вопрос:** **1.** Как до переименования назывался сквер И.Л. Паристого? **сквер Фокина** 2. Паристый И. Л. -почётный гражданин двух городов, назовите каких? **Брянск, Москва** 3.Что в 60 годы находилось на месте бюста И.Л. Паристому? **Фонтан** **Задание:** Сфотографируйтесь на фоне бюста И.Л. Паристого.
18. Стела Победы 	**Вопрос:** 1.Какой орден изображён на стеле, почему именно он? **орден отечественной войны вручался за храбрость, стойкость и мужество.** 2. Назовите сроки Брянской наступательной операции? **1.09 -3.10.1943 года** 3. Командный пункт, какой дивизии, освобождавший в 1943 году Брянск, располагался вблизи стелы? **323** 4. Партизаном, какой бригады был М.А. Гаризан? 1й клетнянской **Задание:** 1.Сфотографируйтесь у стелы. 2. Сделайте фото на фоне дома по улице Красных партизан, с вот таким украшением.
19 Здание дворца и парк культуры ж/д 	**Задание:** 1.Сфотографируйтесь на фоне дворца культуры Железнодорожников и на фоне баннера с цветами 2. Благотворительным фондом «Память поколений» в парке железнодорожников смонтирована аллея памяти поколений "Герои среди нас". Напротив фамилии героя впишите их квалификацию: 3.1 Родобольский И.О. - лётчик - снайпер; 3.2 Ольшанский А.Г. - лётчик (полковник) 3.3 Ильина С.Б. - медсестра вольнонаёмная 3.4 Стариков М.П. - милиционер 3.5 Капыркин А.С. - лётчик

<table>
<tr>
<td>
</td>
<td>3.6 Пронин В.Г. - рядовой
3.7 Куропатков Е.П. - начальник артснабжения офицер отдела боеприсавов
3.8 Кананыхин С.П. - танкист
3.9 Смирнова З.П. - подпольщица в рестской крепости
3.10 Лагодин В.М. – пограничник, батальон боевого обслуживания</td>
</tr>
<tr>
<td>20.Памятник Игнату Фокину
 
Игнат Фокин был направлен в город Брянск Московским бюро ЦК РСДРП после Февральской революции возглавлять Брянский комитет большевиков. Пользуясь большой популярностью у трудящихся города, он был избран в Совет Народных Комиссаров, вскоре стал его председателем. Возглавлял Брянский уездный исполком, при его непосредственном участии велась подготовка к образованию Брянской губернии. 15 апреля 1920 года Постановлением Совета Народных Комиссаров была образована Брянская губерния (с центром в Брянске).
Умер в возрасте 30 лет, заболел тифом. В день его похорон траурная процессия насчитывала около 20 тысяч человек. Похоронили его на Соборной площади Брянска. А.В. Луначарский, посетивший Брянск осенью 1919г., писал: «Похороны его носили столь грандиозный характер, что не только Брянск, а, может быть, даже Россия, редко видели нечто подобное».</td>
<td>Вопрос:
1. Как увековечена память Игната Фокина в Брянске?
Именем названа центральная улица , район города и возведено 2 памятника
2. Как сейчас называется Соборная площадь
(Славянская или набережная)
3.На фото памятник. Где он установлен и к какому событию приурочен.
На набережной, памятник над могилой.

3. В год 40летия Октябрьской революции был установлен памятник Игнату Фокину, через 20 лет он был заменен.
Назовите годы установки памятников И. Фокину в Фокинском районе.
1957, 1977
4. Сколько лет Брянск был губернским городом? _10

Задание:
Сфотографируйтесь на фоне памятника И. Фокину</td>
</tr>
</table>

21. Здание суда



Нарсуд 3-го участка города Брянска, по материалам Фонда Государственного архива Брянской области, как городской суд образован 18 июня 1923 года.

Вопрос:
В каком году Фокинский районный суд переведён в нынешнее здание? **1991**
2. Что в этом здании располагалось ранее? **Райком КПСС**
Задание: Сфотографируйтесь на фоне здания суда.

22. Лицей № 27

Вопросы:
1.Какой номер носила школа, ранее находившаяся на этом месте? **27**
2.Какой номер был у школы в послевоенные годы? **15**
7. Как вы думаете, какие ещё 2 старейшие школы есть в районе. **40, 41**
Задание
Сфотографируйтесь на фоне здания школы

23. Памятник ученикам героям Лицея № 27 г. Брянска

Все они в разное время учились в этой школе. Все они совершили подвиг.

Олег Визнюк родился 1968 года. После окончания школы поступил в Ташкентское командное училище, закончив его стал командиром роты разведки, затем командиром мотострелкового взвода батальона оперативного назначения. Трижды был командирован в Чечню. В 1995 году награждён орденом «За личное мужество». Погиб в августе 1996года, 31 декабря 1997 года О.С. Визнюку посмертно, было присвоено звание Героя России.

Владимир Рябок, родился 1914 году, перед войной работал на Дятьковском хрустальном заводе. Когда враг подошел к Брянску - возглавил молодежный партизанский отряд. Его группа принимала участие в освобождении г. Дятьково. Погиб В. Рябок в мае 1942г. во время боя близ дер. Верхи

Валентина Сафронова – родилась 1918 году, разведчица Брянского городского партизанского отряда им. Кравцова. Добывала ценные сведения, держала связь с подпольщиками, неоднократно переходила через линию фронта. Погибла Валентина в декабре 1942 года при выполнении боевого задания в районе деревни Ворки, она была тяжело ранена, попала в плен, переправлена в гестапо в Брянске.

Олег Ермаков родился в 1976 году. В 1994 году поступил в Рязанское высшее военное десантное училище. В 2000 году выполнял специальное задание Правительства РФ на территории Чечни. Узнав, что 6 рота ведет кровопролитный бой в районе Аргунского ущелья, предпринял попытку прорваться к обороняющимся. В ходе выполнения боевой задачи получил тяжелые, множественные ранения груди. 12 марта 2000 года за мужество и героизм, проявленные в боях с террористами, гвардии лейтенант Ермаков посмертно удостоен звания Героя России

Игорь Кустов со школьных лет мечтал об авиации. Родился в 1921году, закончил 9 классов, Брянский аэроклуб, и поступил в военную авиационную школу

пилотов. Когда началась война, Кустов стал летчиком-истребителем. В воздушных боях он проявлял мужество, отвагу. совершил около 200 боевых вылетов, сбил 8 самолётов противника лично и 6 в группе. Погиб Игорь в боях под г. Киевом в декабре 1943 года.

Задание: 1.Сфотографируйтесь на фоне памятника Героям
2.Сфотографируйтесь на фоне мемориальных досок расположенных на здании лицея № 27.
3.Подпишите фотографии, указав имя, фамилия, возраст и род войск.
4. Как и где увековечена память героев, помимо лицея 27

Олег Ермаков **24 года** десант	**Валентина Сафронова** **24 года** партизан	**Олег Визнюк** **28 лет**	**Владимир Рябок** **28 лет** партизан	**Игорь Кустов** **22 года** лётчик
в 2002 году улица Рыночная, где жил Олег, стала носить его имя	улица в Советском р-не. В 1950-х брянский автор В. Ляшенко создал о подвиге Сафроновой поэму «Валя».	В 2002 году имя О.С. Визнюка было присвоено Дому детского и юношеского творчества в Фокинском районе.	Могила на Дятьковском мемориале воинам и партизанам В д.Верхи - обелиск. Пмятник в Дятьково, Улицы в Клинцах, Фокино, Старь.	Улица Игоря Кустова в Фокинском районе, Лицей № 27 г.Брянска носит его имя

24. Улица Челюскинцев

Это немногие шлакобетонные дома, которые уцелели на данной улице. Застройка улицы началась в 1947 году, строили их ……

Вопрос:
Как вы считаете кто их строил:

- Железнодорожники
- **Пленные немцы**
- Активно использовали труд школьников подростков

Задание:
Сфотографируйтесь на фоне этих домов так, чтобы была видна вывеска с названием улицы.

25. Пожарная часть 	В каждом районе города есть своя пожарная часть. **Вопрос:** 2. В каком районе города, какая пожарная машина установлена? 4 Фокинский р-н 5 Советский р-н 6 Бежицкий р-н **Задание:** Сфотографируйтесь на фоне пожарной машины, установленной в Фокинском районе по адресу ул. Котовского , 32.
26. Центр внешкольной работы Фокинского района Здание построено в 1955 году СМП-717 (строительно монтажный поезд). В 1967 году в нём был открыт Дом пионеров Фокинского района. В 1991 году переименован в Центр детского творчества Фокинского района.. 	**Вопрос:** 1.Как использовалось это здание в период с 1955 по 1967 год? **Дом культуры** 2.Как используется сейчас **Филиал Центра образования лицея № 27** **Задание:** Сфотографируйтесь на фоне здания.
27. Мелькрукк Совнарком СССР принял постановление о строительстве мелькомбината в Брянске в 1945 году. Введено в эксплуатацию в 1950 году. Оно представляло собой элеватор ёмкостью 32 тысячи тонн и мельницу для переработки ржи. На протяжении сорока лет комбинат постепенно вводил в действие новые мощности	**Вопрос:** 1.В названии предприятия «Мелькрукк» «зашифровано» то, чем оно занималось. Расшифруйте его. **МЕЛЬница, КРУпы, КомбиКорм** 2.В 2007 году над проходными предприятия воцарилась буква «А», что она означала? **Логотип торговой марки «Антонов» - агрохолдинг «Аркада»,** 3.Сейчас предприятие входит в ООО «Брянская зерновая компания». Назовите фамилия генерального директора

	**Роман Мимонов** 4.Как называются бетонные «тубусы», которые вы видите за забором предприятия «Мелькккрук» . **элеватор** **Задание:** Сфотографируйтесь на фоне проходных, чтобы хорошо читалось название.
28. Брянсксельмаш Мотороремонтный завод создавался на базе бывшего банно-прачечного комбината, разрушенного в Великую Отечественную войну, по улице Н-Советской, 38. Ныне - проспект Московский, 86 города Брянска. 	**Вопросы:** 1. В каком году начало свою работу мотороремонтный завод? **1944** 2. Сколько зерноуборочных ___**3**__ и кормоуборочных комбайнов ___**3**___ представлено на баннерах слева от проходной, по проспекту Московскому. 3. Какую кормовую культуру убирает комбайн FS 80 **кукурузу** **Задание:** 1. Сфотографируйтесь на фоне вывески с названием, логотипом и годом основания завода
29. Хлебокомбинат № 1 	**Вопрос:** 1. В каком году основан Брянский хлебокомбинат? **1937** 2. Какие зерновые культуры выращивают на Брянщине, которые в дальнейшем используются для выпечки хлеба: пшеница, ячмень, рожь **Задание:** Сфотографируйтесь на фоне вывески
30. школа № 28 	Перед вами три разных учреждения Фокинского района. **Вопрос:** 1.Назовите каждое учреждение Городская ГАИ Гимназия № 1 Школа 28 2.Что общего между ними, как они связаны? Раньше в здании ГАИ располагалась школа 28, практически одновременно в районе были построены здания гимназии и шк 28.Школьный коллектив разошёлся на 2 площадки.

31. Городское ГАИ 	**Вопрос:** **3.** В каких годах автомобиль 33-73 БРУ колесил по улицам города? (**60-80 года)** 4. Приказом МВД СССР от 22.09.1969 г № 338 вводится новая окраска машин милиции СССР. Какая? (**Лимонная с синей полосой и гербом на дверях**). **Задание:** Сделайте фото на фоне машины.
32.Транснефть «Дружба» Нефтепроводная магистраль "Дружба", созданная в 1964 году прошла через: Украину, Беларусь, Польшу, Чехию, Словакию, Германию, Венгрию, Латвию, Литву.	**Вопрос:** 1. Какое государство не указано в списке стран? **Россия** 2. Как бы выглядел список стран в 1980 году? **СССР, Польша, Чехослования, Венгрия, ГДР** **Задание:** Сфотографируйтесь на фоне здания с названием предприятия.
33.Православный храм 	**Вопрос:** 3. Как называется храм? **В честь Вознесения Господне** 2.Когда празднуется Вознесения Господне? **на 40 день посли Пасхи _** **Задание:** Сфотографируйтесь на фоне храма.
34. Литий 	**Вопрос:** 1. Какую продукцию выпускал завод "Кинескоп", помимо кинескопов **военный заказ** 2. Какую продукцию выпускал завод "Литий" **Термоса, банки, кинескопы** **Задание:** 1.Сфотографируйтесь на фоне здания с надписью Литий

Предприятие было образовано в 1954 году под названием «Кинескоп». За два года до распада СССР его переименовали в «Литий». В 2017 году завод признали банкротом, а его имущество выставили на торги. Здание заводоуправления переделали в бизнес-центр.	2. Сделайте креативно позитивное фото для отдельного фотоконкурса на фоне "Я люблю Фокинский район".  4. Что это? **_часть пьедестала памятника__** сделайте снимок всего объекта.
35. Мемориальная плита в память жертв лагеря для военнопленных «Майзе». 	В районе «Пробного поля» напротив «Больничного городка» сразу после освобождения города были вскрыты захоронения жертв оккупации. Вопрос: **2.** Сколько расстрельных ям было обнаружено? **14** **Задание:** Сделайте фото с предложенного ракурса.

ЗАКЛЮЧЕНИЕ

В сборнике представлены материалы ежегодной городской краеведческой игры «Город юный, город древний» за 2012 – 2021 гг., в которых отражен опыт организации проведения краеведческих мероприятий, проводимых в г.Брянске для школьников и студентов Брянской региональной общественной туристско-краеведческой, патриотической детско-юношеской организацией «Отечество» и Центром детского и юношеского туризма и экскурсий г. Брянска.

Содержащиеся в сборнике материалы могут быть полезны педагогам дополнительного образования, работающим по программам туристско-краеведческой направленности, учителям, руководителям школьных музеев, а также в работе по организации учебно-исследовательской деятельности учащихся и студентов по краеведению.

Ежегодно игра проводится в одном из районов г. Брянска. В 2012 г. и в 2019 г. игра проходила в Бежицком районе, в 2013 г. и в 2020 г. в Володарском районе, в 2014 г. и в 2021 г. в Фокинском районе, с 2015 г. по 2018 г. в Советском районе г. Брянска. Материалы игры включают в себя картосхемы района игры, тесты-опросники и задания на маршруте с ответами, бонусные вопросы.

Целью игры является воспитание у обучающихся чувства патриотизма, гражданственности, любви к малой Родине.

Задачами краеведческой игры являются:

- вовлечение обучающихся в исследовательскую деятельность;
- воспитание у учащихся патриотизма, бережного отношения к природному и культурному наследию родного края;
- активизация работы туристско-краеведческих объединений в рамках Всероссийского движения «Отечество»;
- знакомство с историческим прошлым г. Брянска.

Общее руководство проведением краеведческой игры «Город юный, город древний» осуществляет управление образования Брянской городской администрации. Непосредственную организацию и проведение игры осуществляет муниципальное бюджетное учреждение дополнительного образования «Центр детского и юношеского туризма и экскурсий» г.Брянска совместно с Брянской региональной общественной туристско-краеведческой, патриотической детско-юношеской организацией «Отечество».

Каждый год организаторы готовят положение игры и условия её проведения, по образовательным учреждениям направляется приказ управления образования Брянской городской администрации о проведении игры. В краеведческой игре принимают участие более 30 команд общеобразовательных учреждений, учреждений дополнительного образования. Состав команды 6 человек: 5 участников + 1 руководитель,

рекомендуемый возраст участников 14-16 лет (учащиеся 8-11 классов, в том числе активисты школьных музеев), допускается 1 команда от образовательного учреждения.

Краеведческая игра проводится в форме пешеходного маршрута. На старте команда получает пакет заданий по маршруту игры. В пакет заданий игры входит:

1.Карта – схема района игры;

2. Бланк заданий по игре.

Команда на старте знакомиться с заданиями игры, самостоятельно определяет маршрут движения и последовательность выполнения заданий. Команда работает полным составом, передвижения между объектами игры с соблюдением правил дорожного движения и техники безопасности. Контрольное время игры – 3 часа 30 минут.

Команда, уложившиеся в более короткое время работы на маршруте игры приходит на финиш и сдаёт собранные материалы по игре. Команды, не пришедшие на финиш по истечении контрольного времени (КВ), получают штрафные баллы (до 5 мин. – 10 баллов, за каждую минуту начисляется 2 балла), которые вычитаются из результата команды, при превышении КВ более 5 минут, команды занимают места после команд, уложившихся в КВ игры.

На финише команда предъявляет судьям фотоаппарат с отснятым материалом и маршрутную документацию с выполненными заданиями.

Результаты краеведческой игры определяются по наименьшей сумме мест, занятых командой при выполнении конкурсных заданий.

Победитель и призеры краеведческой игры «Город юный, город древний», в том числе в отдельных номинациях награждаются грамотами управления образования Брянской городской администрации и памятными призами. Команды, принявшие участие в игре, получают сертификаты участников.

Воспитательный потенциал краеведческой игры «Город юный, город древний» заложен в самом материале, фактах истории г. Брянска. Они помогают донести до сознания школьников картины прошлого, способствуют сохранению исторической памяти, осуществлению преемственности поколений. Изучение и осмысление фактов истории родного края стимулирует мыслительную деятельность, формирует систему теоретических представлений и понятий и тем самым влияет на формирование активной жизненной позиции подрастающего поколения.

Составители: Поплевко А.В., Белов Б.В., Смирнова Э.В., Никулочкина Н.В., Стасишина Н.В., Меркушина Е.Г., Шестопалова Н.В., Симоненкова И.А., компьютерная верстка Стасишина Н.В.

Сборник «Город юный, город древний»
(по материалам городской краеведческой игры 2012 – 2021 годов)

издан с использованием средств гранта Президента Российской Федерации на развитие гражданского общества (договор №20-1-028632), предоставленного Фондом президентских грантов.

Подписано в печать 15.03.2021 г.
Формат 210 х 297. Бумага офсетная. Печать цифровая.
Тираж 200 экземпляров.
Отпечатано цифровая типография «Печать 32»
г. Брянск, ул. Красноармейская, д. 93
тел. (4832) 32-03-33